1) $\frac{a+b}{c} = \frac{a}{c} + \frac{b}{c}$

2) $|a| = \begin{cases} a, & \text{եթե } a>0 \\ -a, & \text{եթե } a<0 \end{cases}$ Օրինակ $|3| = 3$, $|-3| = -(-3) = 3$ $|a| \geq 0$ միշտ

3) $(a+b)$-ի հակադարձը (հնարավոր) $(a-b)$-ն է, $(a-b)$-ինը՝ $(a+b)$-ն:
$(a-b)^2 = (b-a)^2$

5) $a \cdot b = 0 \iff$ կամ $a=0$, կամ $b=0$
$\frac{a}{b} = 0 \iff a=0$ եթե $b \neq 0$:

6) Կոտորակի հայտարարում 0 չի կարող լինել

7) Հանրահաշվական արտահայտության թույլատրելի արժեքների բազմությունը գտնելիս հարկավոր է (կամ պետք է) այն արժեքների բազմությունից հանել, որոնց դեպքում արտահայտությունը իմաստ չունի և հետ. ձ՝ Ո.Ա.Ե.:

8) $y = f(x)$ ֆունկցիայի արգումենտը գտնելիս գտնում ենք արժեքների $(x-1)$ բազմությունը՝ $\mathcal{D}(f)$: y-ի փոփոխման տիրույթը՝ $E(f)$:

9) Զույգ թվի բնդհանուր տեսքը՝ $2k$ կամ $2b$ կամ $2n$
Կենտ թվի բնդհանուր տեսքը՝ $2k+1$ կամ $2m+1$ կամ $2b-1$

10) $\left(\frac{a}{b}\right)^{-1} = \frac{b}{a}$, $\left(\frac{a}{b}\right)^{-n} = \left(\frac{b}{a}\right)^n$, $a^n \cdot a^{-n} = 1$, $\left(\frac{a}{b}\right)^n \cdot \left(\frac{b}{a}\right)^n = 1$

11) $x^2 \leq a \iff -\sqrt{a} \leq x \leq \sqrt{a}$ կամ $x \in [-\sqrt{a}; \sqrt{a}]$ $(a \geq 0)$
$x^2 \geq a \iff x \leq -\sqrt{a} \cup x \geq \sqrt{a}$ կամ $x \in (-\infty; -\sqrt{a}] \cup [\sqrt{a}; \infty)$

12) $|x| \leq a \iff -a \leq x \leq a$
$|x| \geq a \iff x \leq -a \cup x \geq a$

Գծային ֆունկցիա

2

Հակադարձ գծային $y = kx + b$

k — կոչվում է անկյունադրման գործակից

b — ազատ անդամ

Գրաֆիկը միշտ գիծ է:

Հետևություն $y = kx + b$ ֆունկցիայի գրաֆիկը հատում է Oy առանցքը $(0; b)$ կետում, Ox-ը՝ $\left(\frac{-b}{k}; 0\right)$ կետում, եթե $k \neq 0$:
Եթե $k = 0$, ապա գրաֆիկը զուգահեռ է Ox-ին և անցնում է $(0; b)$ կետով:

Հետևություն ա) $A(x_0; y_0)$ կետը պատկանում է $y = kx + b$ ուղղին միայն և միայն այն դեպքում, երբ $y_0 = kx_0 + b$ հավասարությունը ճիշտ է:

բ) $y = kx + b$ ուղիղը կանցնի $A(x_0; y_0)$ կետով, եթե A կետի կոորդինատները բավարարեն ուղղի հավասարմանը:

գ) Եթե $b = 0$ $y = kx$ ուղիղը կանցնի $(0; 0)$ կետով:

Ուղիղների փոխադասավորությունը

ա) $y = k_1 x + b_1$, $y = k_2 x + b_2$ ուղիղները կլինեն $\parallel$, եթե $\begin{cases} k_1 = k_2 \\ b_1 \neq b_2 \end{cases}$

բ) Եթե $k_1 \neq k_2 \iff$ ուղիղները հատվում են:

գ) Եթե $k_1 = k_2$, $b_1 = b_2 \iff$ ուղիղները համընկնում են

Օրինակ Գտնել բանաձևով այն ուղղի հավասարումը, որը անցնում է $A(-1; 2)$ կետով և $\parallel$ $y = 3 - 2x$ ուղղին $(k = -2)$:

Լուծում Եթե պահանջվող ուղղի հավասարումը $y = kx + b$:
Քանի որ անցնում A-կետով $\Rightarrow 2 = k \cdot (-1) + b$ $\left\{ \begin{matrix} b = 7 \\ k = -2 \end{matrix} \right.$ Պատ՝ $y = -2x + 7$
$\parallel$ $y = 3 - 2x$ $\Rightarrow$ տարածք $\Rightarrow k = -2$

Ֆունկցիաների գրաֆիկների ձևափոխումներ ($y = f(x)$)

1) Եթե $f(-x) = f(x)$ — ֆունկցիան կոչվում է զույգ:

Զույգ ֆունկցիայի գրաֆիկը սիմետրիկ է OY-ի նկատմամբ:

$y = x^2 + 1$: $f(-x) = (-x)^2 + 1 = x^2 + 1 = f(x) \Rightarrow$

$\Rightarrow$ ֆունկցիան զույգ է:

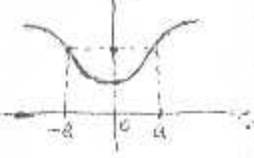

2) Եթե $f(-x) = -f(x)$ — ֆունկցիան կենտ է:

Գրաֆիկը սիմետրիկ է $O(0;0)$ կոորդինատային սկզբնակետի նկատմամբ:

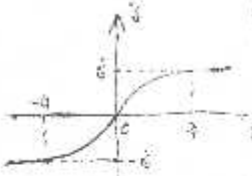

$f(x) = \frac{x^2}{x^3+x}$; $f(-x) = \frac{(-x)^2}{(-x)^3+(-x)} = \frac{x^2}{-x^3-x} = \frac{x^2}{-(x^3+x)} = -\frac{x^2}{x^3+x} = -f(x) \Rightarrow$

$\Rightarrow$ ֆունկցիան կենտ է:

3) Եթե $x_1 < x_2$, $f(x_1) < f(x_2)$ — ֆունկցիան աճող է.

Գրաֆիկը բարձրանում է ձախից աջ:

Եթե $x_1 < x_2$, $f(x_1) > f(x_2)$ — ֆունկցիան նվազող է

Գրաֆիկը իջնում է ձախից աջ

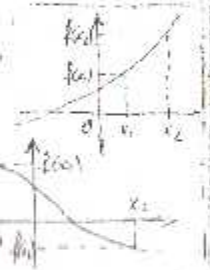

4) Եթե տրված է $y = f(x)$ ֆունկցիայի գրաֆիկը, ապա

$y = f(x+a)$ ֆունկցիայի գրաֆիկը ստացվում է

$y = f(x)$-ի գրաֆիկից, որը a մեծության զուգահեռ

տեղափոխում ա) աջ, եթե $a < 0$

բ) ձախ, եթե $a > 0$ կոորդինատային առանցքով:

5) Եթե տրված է $y = f(x)$ ֆունկցիայի գրաֆիկը, ապա

$y = f(x) + B$ ֆունկցիայի գրաֆիկը ստացվում է $f(x)$-ի

գրաֆիկից, որը B մեծության չափով $B > 0$, դեպի վերև, եթե $B < 0$, դեպի ներքև

զուգահեռ տեղափոխելով:

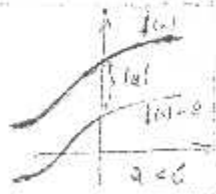

$y = |f(x)|$ ֆունկցիայի գրաֆիկը ստացվում է

$y = f(x)$ ֆունկցիայի գրաֆիկից հետևյալ կերպ՝

պահում ենք $f(x)$-ի այն գրաֆիկի մասերը, որոնք գտնվում են OX-ի վերևում կամ վրա,

իսկ OX-ի տակ գտնվող մասերը արտապատկերում ենք OX-ի նկատմամբ:



Գծային հավասարումներ

Եթե x-ի և y-ի նկատմամբ գծային հավասարումը տրված է

$$A_1x + B_1y + C_1 = 0,$$

ապա միայն կոորդինատների սկզբնակետով չանցնող ուղիղ է, որի հավասարումը $y = kx + b$ տեսքի է: Գտնենք

$$y = -\frac{A_1}{B_1}x - \frac{C_1}{B_1} \Rightarrow k = -\frac{A_1}{B_1},\ b = -\frac{C_1}{B_1}.$$

Գծերի փոխադարձ դիրքը (հատում, զուգահեռություն)

Դիցուք տրված են երկու գծային հավասարումներ.

$$A_1x + B_1y + C_1 = 0,\quad A_2x + B_2y + C_2 = 0$$

$k_1 = -\frac{A_1}{B_1}$ $\qquad$ $k_2 = -\frac{A_2}{B_2}$

ա) Եթե $\frac{A_1}{A_2} = \frac{B_1}{B_2}$ և $\frac{C_1}{C_2} \neq \frac{B_1}{B_2} \Leftrightarrow$ ուղիղները $\parallel$ են: Այլ

կերպ՝ $\frac{A_1}{A_2} = \frac{B_1}{B_2} \neq \frac{C_1}{C_2} \Leftrightarrow$ ուղիղները $\parallel$ են:

բ) Եթե $\frac{A_1}{A_2} \neq \frac{B_1}{B_2} \Leftrightarrow$ ուղիղները հատվող են:

գ) Եթե $\frac{A_1}{A_2} = \frac{B_1}{B_2} = \frac{C_1}{C_2} \Leftrightarrow$ ուղիղները համընկնում են:

Օրինակ x-ի և m-ի ինչպիսի արժեքների դեպքում $4x - my + 3 = 0$ և $2x - 3y + K = 0$ ուղիղները հիշյալ դեպքում $\parallel$ (կամ համընկնող):

Լուծում I եղանակով $k_1 = \frac{4}{m}$, $k_2 = -\frac{2}{3}$, $b_1 = \frac{3}{m}$, $b_2 = \frac{K}{3}$

$\frac{4}{m} = -\frac{2}{3}$, $\frac{3}{m} \neq \frac{K}{3} \Rightarrow m = -6,\ K \neq -\frac{9}{2}$

II եղանակով $\frac{4}{-2} = \frac{-m}{-3} \neq \frac{3}{K} \Rightarrow m = -6,\ K \neq -\frac{3}{2}$

Մասնավոր դեպքեր ա) $y = b$ տեսքի ուղիղը $\parallel OX$ առանցքին,

բ) $x = a$ տեսքի ուղիղը $\parallel OY$ առանցքին,



Գծային հավասարումներ և անհավասարումներ

$ax = b$ տեսքի հավասարումը կոչվում է գծային հավասարում:

1) եթե $a \neq 0$ —— ունի մեկ լուծում՝ $x = \frac{b}{a}$

2) եթե $a = 0$, $b \neq 0$ —— լուծում չունի;

3) եթե $a = 0$, $b = 0$ —— ունի անթիվ (բազմաթիվ) լուծումներ

Օրինակ a-ի ինչ արժեքների դեպքում $(2a^2 - a)x + 1 = a^2 + x$ հավասարումը լուծում չունի:

Լուծում բերենք գծ. հավ. տեսքի. $(2a^2 - a - 1)x = a^2 - 1$

լուծում չի ունենա եթե $\begin{cases} 2a^2 - a - 1 = 0 \\ a^2 - 1 \neq 0 \end{cases}$ $\begin{cases} a_1 = -\frac{1}{2};\ a_2 = 1 \\ a \neq \pm 1 \end{cases}$ Պատ. $a = -\frac{1}{2}$

$y = |x|$ ֆունկցիայի գրաֆիկը

եթե $x \geqslant 0 \Rightarrow |x| = x$ և $y = |x|$ ֆունկցիան համընկնում է $y = x$ ֆունկցիայի հետ (երբ $x \geqslant 0$):

եթե $x < 0 \Rightarrow |x| = -x$ և $y = |x|$ ֆունկցիան համընկնում է $y = -x$ ֆունկցիայի հետ (երբ $x < 0$):

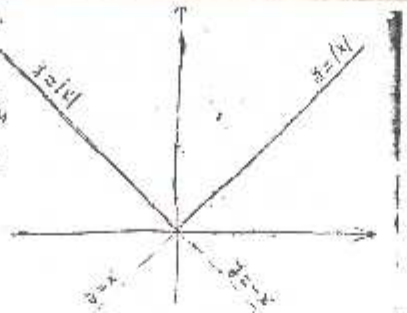

№1 Գտնել $y = |x-2|$ ֆունկցիայի գրաֆիկը:

$y = |x|$-ի գրաֆիկը 2 միավոր ձախ տեղափոխենք կստանանք $y = |x+2|$ ֆունկցիայի գրաֆիկը:

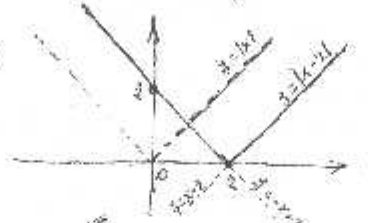

№2 Գտնել $y = 3 - |1-x|$ ֆունկցիայի գրաֆիկը

ա) եթե $1 - x \geqslant 0 \Rightarrow y = 2 + x$ (երբ $x \leqslant 1$)

բ) եթե $1 - x < 0 \Rightarrow y = 4 - x$ (երբ $x > 1$)

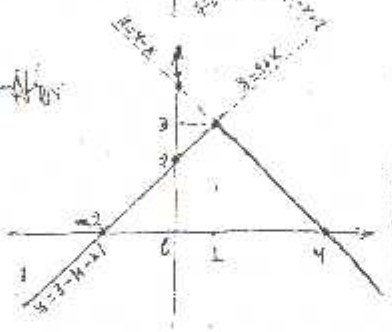

№3 Գտնել $y = |x-1| - 2|$ ֆունկցիայի գրաֆիկը:

Նախ տեղափոխենք $y = |x|$ ֆունկցիայի գրաֆիկը միավոր աջ, ապա կիրառենք y առանցքի նկատմամբ համաչափություն, ապա տեղափոխենք $y = |x-1|$ ֆունկցիայի գրաֆիկը 2 միավոր ներքև, ապա կիրառենք x առանցքի նկատմամբ համաչափություն և ստացված գրաֆիկի բոլոր կետերը տեղափոխենք 2 միավոր վերև:

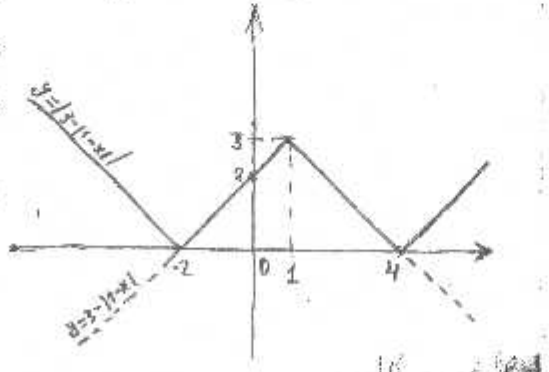

Կրճատ բազմապատկման բանաձևեր

1) $(a+b)^2 = a^2+2ab+b^2$

2) $(a-b)^2 = a^2-2ab+b^2$

3) $a^2-b^2 = (a-b)(a+b)$

4) $a^3+b^3 = (a+b)(a^2-ab+b^2)$

5) $a^3-b^3 = (a-b)(a^2+ab+b^2)$

6) $(a+b)^3 = a^3+3a^2b+3ab^2+b^3$

7) $(a-b)^3 = a^3-3a^2b+3ab^2-b^3$

8) $(a+b+c)^2 = a^2+b^2+c^2+2ab+2bc+2ac$

7 Բնական ցուցիչով աստիճան

Սահմանում $a^n = \underbrace{a\cdot a\cdot \dots \cdot a}_{n \text{ անգամ}}$ $\boxed{a^0 = 1}$

Հատկություններ 1) $a^m \cdot a^n = a^{m+n}$ $2^3 \cdot 2^5 = 2^8$

2) $\frac{a^m}{a^n} = a^{m-n}$ $5^6 : 5^2 = 5^4$

3) $(a^m)^n = a^{mn}$ $(3^2)^3 = 3^6$

4) $(ab)^n = a^n b^n$ $6^5 = (2\cdot 3)^5 = 2^5 \cdot 3^5$

5) $\left(\frac{a}{b}\right)^n = \frac{a^n}{b^n}$ $\left(\frac{2}{3}\right)^3 = \frac{2^3}{3^3}$

6) եթե $a \geqslant 0 \Rightarrow a^n \geqslant 0$ $n \in \mathbb{N}$ (բնական թվերի)

եթե $a \leqslant 0 \Rightarrow \begin{cases} a^n \geqslant 0 & \text{եթե } n\text{-ը զույգ է } (a=2k) \\ a^n \leqslant 0 & \text{եթե } n\text{-ը կենտ է } (a=2k+1) \end{cases}$

Նկատի $(-2)^3 = -8$ $(-2)^4 = 16$

Սահմանում $a^{-n} = \frac{1}{a^n}$ $n \in \mathbb{N}$

$2^{-3} = \frac{1}{2^3} = \frac{1}{8}$ $\left(\frac{1}{3}\right)^{-2} = \frac{1}{\left(\frac{1}{3}\right)^2} = \frac{1}{\frac{1}{9}} = 9$

Հետևություն $a^n \cdot a^{-n} = 1$

9 Գծային հավասարումների համակարգեր

(1) $\begin{cases} a_1x + b_1y + c_1 = 0 \\ a_2x + b_2y + c_2 = 0 \end{cases}$ $\left(k_1 = -\frac{a_1}{b_1}\right.$ անկյունային գործ.$)$

$\left(k_2 = -\frac{a_2}{b_2}\right.$ անկյունային գ-ծ.$)$

(1) համակարգի լուծում կոչվում է այնպիսի $(x;y)$ թվերի զույգ, որոնք համակարգի յուրաքանչյուր հավասարումը դարձնում են նույնություն:

2 գծային հավասարումների համակարգ

ա) Եթե $k_1 \neq k_2 \iff$ հավասարումները տարբեր անկյունային գործակիցներ ունեն, հետևաբար $\frac{a_1}{a_2} \neq \frac{b_1}{b_2}$, իսկ նաև $\frac{a_1}{a_2} \neq \frac{b_1}{b_2} \iff$ համակարգն ունի մի միակ լուծում:

բ) Եթե $k_1 = k_2$ և $\frac{c_1}{c_2} \neq -\frac{a_1}{a_2} \iff$ համակարգը լուծում չունի:

Եթե նաև $\frac{a_1}{a_2} = \frac{b_1}{b_2} \neq \frac{c_1}{c_2} \iff$ համակարգն ունի անթիվ շատ լուծումներ:

գ) Եթե $k_1 = k_2$ և $\frac{c_1}{c_2} = \frac{a_1}{a_2} \iff$ համակարգի բոլոր հավասարումները համարժեք են:

Եթե նաև $\frac{a_1}{a_2} = \frac{b_1}{b_2} = \frac{c_1}{c_2} \iff$ համակարգի բոլոր գործակիցները համեմատական են:

Օրինակներ

1) $\begin{cases} \frac{x}{3} - \frac{y}{2} = -4 \\ \frac{x}{2} + \frac{y}{4} = -2 \end{cases} \iff \begin{cases} 2x - 3y = -24 \\ 2x + y = -8 \end{cases} \iff \begin{cases} 2x = -4y \\ y = -2x - 8 \end{cases} \iff \begin{cases} x = -\frac{24}{8} \\ y = \frac{24}{4} \end{cases}$

Պատ. $\left(-\frac{24}{8}; \frac{24}{4}\right)$

2) $\begin{cases} \frac{x}{3} - \frac{y}{2} = -4 \\ \frac{x}{2} + \frac{y}{4} = -2 \end{cases} \iff \begin{cases} 2x - 3y = -24 \\ 2x + y = -8 \end{cases} \iff \begin{cases} 2x = -4y \\ 2x + y = -8 \end{cases} \iff \begin{cases} x = -\frac{24}{8} \\ y = \frac{24}{4} \end{cases}$ Պատ. $\left(-\frac{24}{8}; \frac{24}{4}\right)$

Սահմանում: Գծային հավասարումների համակարգի լուծում ասելով կհասկանանք $A(x;y)$ կետը xOy հարթության վրա, որի կոորդինատները (abscissa և ordinate) համակարգի հավասարումներից յուրաքանչյուրը դարձնում են նույնություն:

9 Գծային հավասարումների համակարգեր

(1) $\begin{cases} a_1x + b_1y + c_1 = 0 \\ a_2x + b_2y + c_2 = 0 \end{cases}$ $\left(k_1 = -\frac{a_1}{b_1}\right.$ անկյունադարձման գործ.$)$

$\left(k_2 = -\frac{a_2}{b_2}\right.$ անկյունադարձման գործ.$)$

Սահմանում: (1) համակարգի լուծում կոչվում է այն $(x;y)$ թվազույգը որը բավարարում է համակարգի յուրաքանչյուր հավասարմանը:

Գծային համակարգերի լուծելիությունը

1) Եթե $k_1 \neq k_2 \iff$ համակարգը ունի մեկ լուծում:
Կամ երբ $\frac{a_1}{b_1} \neq \frac{a_2}{b_2}$, կամ երբ $\frac{a_1}{a_2} \neq \frac{b_1}{b_2} \iff$ համակ. ունի մեկ լուծում:

2) Երբ $k_1 = k_2$ և $-\frac{c_1}{b_1} \neq \frac{c_2}{b_2} \iff$ համակարգը լուծում չունի:
Կամ, երբ $\frac{a_1}{a_2} = \frac{b_1}{b_2} \neq \frac{c_1}{c_2} \iff$ համակարգը լուծում չունի

3) Երբ $k_1 = k_2$ և $\frac{c_1}{b_1} = \frac{c_2}{b_2} \iff$ համակարգը ունի անթիվ քանակությամբ լուծումներ:
Կամ, երբ $\frac{a_1}{a_2} = \frac{b_1}{b_2} = \frac{c_1}{c_2} \iff$ անթիվ բազմ. լուծումներ:

Օրինակ a-ի ինչ արժեքների դեպքում համակարգը լուծում չունի.

Ադ.-2 $\begin{cases} 3x + (a+5)y = -11 \\ x + 4y - 7 = 0 \end{cases} \iff \begin{cases} 3x + (a+5)y + 11 = 0 \\ x + 4y - 7 = 0 \end{cases}$

Լուծում I եղանակ $\begin{cases} y = -\frac{3}{a+5}\cdot x - \frac{11}{a+5}, & k_1 = -\frac{3}{a+5},\ b_1 = -\frac{11}{a+5} \\ y = -\frac{1}{4}x + \frac{7}{4}, & k_2 = -\frac{1}{4},\ b_2 = \frac{7}{4} \end{cases}$

Համակ. չի ունենա, երբ $\begin{cases} -\frac{3}{a+5} = -\frac{1}{4} \\ -\frac{11}{a+5} \neq \frac{7}{4} \end{cases} \begin{cases} a = 7 \\ a \neq -\frac{27}{7} \end{cases}$ Պատ. $a = 7$.

II եղանակ Համակ. չունի, երբ $\frac{3}{1} = \frac{a+5}{4} \neq -\frac{11}{7}$ Պատ: $a = 7$.

10. Համակարգերի լուծումը փոխարինման եղանակով.

$\begin{cases} \frac{x}{3} - \frac{y}{2} = -4 \\ \frac{x}{2} + \frac{y}{4} = -2 \end{cases}$ $\begin{cases} 2x - 3y = -24 \\ 2x + y = -8 \end{cases}$ $\begin{cases} 2x - 3(-2x-8) = -24 \\ y = -2x - 8 \end{cases}$ $\begin{cases} x = -6 \\ y = -20 \end{cases}$

Պատ. $(-6;-20)$

Համակարգերի լուծման գումարման եղանակ

$\begin{cases} \frac{x}{3} - \frac{y}{2} = -4 \\ \frac{x}{2} + \frac{y}{4} = -2 \end{cases}$ $\begin{cases} 2x - 3y = -24 \\ 2x + y = -8 \end{cases} \Big|\begin{matrix} 1 \\ + \\ 3 \end{matrix}$ $\begin{cases} 8x = -48 \\ 6x + 3y = -24 \end{cases}$ $\begin{cases} x = -6 \\ y = -20 \end{cases}$ Պատ $(-6;-20)$

Մեկնաբանություն. Գծային հավասարումների համակարգի լուծում $(x;y)$ թվազույգը համակարգի հավասարումների որոշման տիրույթի կետերի հարմանը կոչվում է $(x;y)$ թվազույգին համապատասխան $A(x;y)$ կետը xOy հարթության վրա):

11

Հակադարձ համեմատականության ֆունկցիա

$y = \frac{k}{x}$

գրաֆիկը – հիպերբոլ

$\mathcal{D}(y): \{x / x \in R,\ x \neq 0\}$

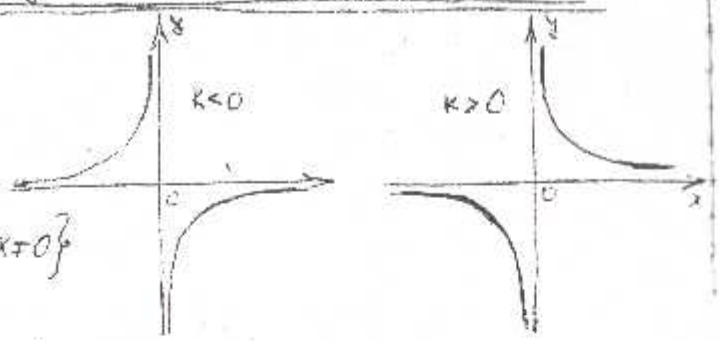

Խնդիր 2.5.2) x-ի և y-ի կախման աղյուսակով տրված $y = \frac{k}{x}$ հիպերբոլը և $y = kx - 6$ ուղիղը անցնում են $Q(-2; 3)$ կետով:

Լուծում

$$\begin{cases} 3 = \frac{k}{-2} \\ 3 = k \cdot (-2) + 6 \end{cases} \quad \begin{cases} k = -6 \\ 3 = 12 + 6 \end{cases} \quad \begin{cases} k = -6 \\ 6 = -9 \end{cases}$$

Պատ. -6; -9

12

Պարզագույն թվեր

Սահմանում $\frac{m}{n}$ անկրճատելի կոտորակը կոչվում է պարզագույն տեսքի, եթե m և n թվերը կոչվում են պարզագույն թվեր: (Q)

Նկատողություն Պարզ են այն բոլոր անկրճատ կոտորակները, որոնց համարիչ և հայտարար թվերը տարբեր են ± 1-ից: Օրինակ՝ $-6 = -\frac{6}{1}$, $\frac{12}{1} = \frac{12}{1}$

Նկատողություն Ցանկացած ոչ զրոյական ռացիոնալ թիվ կարելի է ներկայացնել անվերջ պարբերական տասնորդական կոտորակի տեսքով:

Օրինակ $7 = 7,000\ldots$, $\frac{2}{3} = 0,666\ldots = 0,(6)$, $\frac{1}{4} = 0,25 = 0,25(0)$

$\frac{5}{7} = 0,714285714285\ldots = 0,(714285)$

Սահմանում Ոչ ռացիոնալ թվերը, որոնք ներկայացվում են անվերջ ոչ պարբերական տասնորդական կոտորակի տեսքով կոչվում են իռացիոնալ թվեր:

Օրինակ Ապացուցենք, որ $\sqrt{2}$-ը իռացիոնալ թիվ է:

Լուծում Ենթադրենք հակառակը՝ $\sqrt{2}$-ը ռացիոնալ թիվ է, այսինքն՝ $\sqrt{2} = \frac{m}{n}$, որտեղ $\frac{m}{n}$-ը անկրճատելի կոտորակ է:

Այդ դեպքում $\frac{m^2}{n^2} = 2 \Rightarrow m^2 = 2n^2 \Rightarrow m^2$-ը զույգ է

$\Rightarrow m$-ը զույգ է, այսինքն՝ $m = 2k \Rightarrow$

$\Rightarrow 4k^2 = 2n^2 \Rightarrow n^2 = 2k^2 \Rightarrow n$-ը զույգ է, $n = 2l$

Ստացանք $\frac{m}{n} = \frac{2k}{2l}$, կրճատելի $\Rightarrow \sqrt{2}$-ը իռացիոնալ թիվ է:

Նմանապես են իռացիոնալ են $\sqrt{3}$, $\sqrt{5}$, $\sqrt{6}$, $\sqrt{7}$, ... $-$ են:

Սահմանում Բոլոր ռացիոնալ և իռացիոնալ թվերի բազմությունը կոչվում է իրական թվերի

11

Հակադարձ համեմատականության ֆունկցիա

$y = \frac{k}{x}$

գրաֆիկը – հիպերբոլ

$D(y): \{x / x \in R, x \neq 0\}$

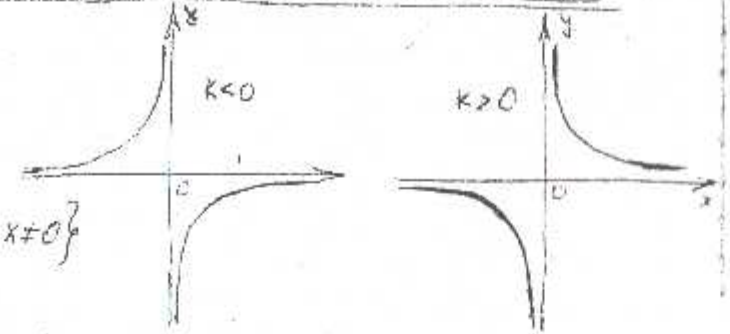

Օրինակ 2.50(բ) x-ի և y-ի որոշ արժեքների դեպքում $y = \frac{k}{x}$ հիպերբոլը և $y = kx + 6$ ուղիղը անցնում են $C(-2;3)$ կետով:

Լուծում
$$\begin{cases} 3 = \frac{k}{-2} \\ 3 = k\cdot(-2) + 6 \end{cases} \quad \begin{cases} k = -6 \\ 3 = 12 + 6 \end{cases} \quad \begin{cases} k = -6 \\ 6 = -9 \end{cases}$$
Պատ. $-6; -9$

12

Իռացիոնալ թվեր

Սահմանում $\frac{m}{n}$ անկրճատելի կոտորակի տեսքով ներկայացվող ռացիոնալ թվերը կոչվում են ռացիոնալ թվեր: (Q)

Հիշողության Պարզել, թե հետևյալ անվերջ պարբերական կոտորակներից որոնք են ռացիոնալ թվեր են: Գրանցել $-6 = -\frac{6}{1}$, $13 = \frac{13}{1}$

Հիշողության Ցանկացած ռացիոնալ թիվ կարելի է գրել վերջավոր կամ անվերջ պարբերական տասնորդական կոտորակի տեսքով:

Օրինակ
$$x = 0,333\ldots, \quad \frac{8}{3} = 0,333\ldots = 2,(6), \quad \frac{1}{7} = 0,142857\ldots$$
$$\frac{5}{2} = 0,714285714285\ldots = 0,(285714)$$

Սահմանում Ցանկ թվերը, որոնք ներկայացվում են անվերջ ոչ պարբերական տասնորդական կոտորակների տեսքով կոչվում են իռացիոնալ թվեր:

Օրինակ Ապացուցենք որ $\sqrt{2}$-ը իռացիոնալ թիվ է:

Լուծում Ենթադրենք հակառակը՝ $\sqrt{2}$-ը ռացիոնալ թիվ է, այսինքն կարելի է ներկայացնել $\frac{m}{n}$ անկրճատելի կոտորակի տեսքով:
Այդ դեպքում $\sqrt{2} = \frac{m}{n}$ (երկու կողմերը քառակուսի բարձրացնենք)
$\frac{m^2}{n^2} = 2 \Rightarrow m^2 = 2n^2 \Rightarrow m^2$-ը զույգ է
$\Rightarrow m$-ը զույգ է, այսինքն $m = 2k \Rightarrow$
$\Rightarrow 4k^2 = 2n^2 \Rightarrow n^2 = 2k^2 \Rightarrow n$-ը զույգ է $n = 2p$:
Ստացանք $\frac{m}{n} = \frac{2k}{2p}$ կրճատելի $\Rightarrow \sqrt{2}$-ը իռացիոնալ է:
Իռացիոնալ են նաև $\sqrt{3}$, $\sqrt{5}$, $\sqrt{6}$, $\sqrt{7}$, ... $= C$.

Սահմանում Ցանկ ռացիոնալ և իռացիոնալ թվերի միավորումը կոչվում է իրական թվերի բազմություն:

9. Քառակուսի ֆունկցիա և պարաբոլ

Սահմանում a թվից ոչ բացասական քառակուսի արմատ կոչվում է այն ոչ բացասական թիվը, որի քառակուսին $= a$ և նշանակվում է $\sqrt{a}$:

Դիտողություն Սահմանումից հետևում է, որ $a \geq 0$ և $\left(\sqrt{a}\right)^2 = a$

Եթե $a < 0$ $\sqrt{a}$-ն իմաստ չունի:

$x^2 = a$ հավասարման լուծումը

$$\boxed{x = \pm\sqrt{a}} \qquad a \geq 0$$

Դիտողություն $\boxed{\sqrt{x^2} = |x|}$ **Օրինակ** $\sqrt{(-3)^2} = |-3| = 3$

$y = \sqrt{x}$ ֆունկցիայի գրաֆիկը

x	0	1	4	9	16
y	0	1	2	3	4

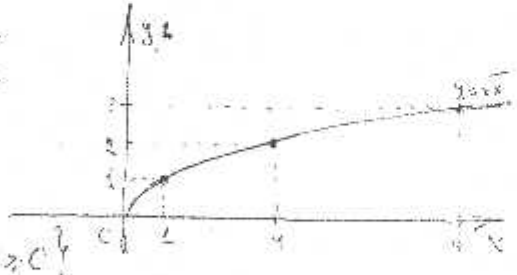

Սահմանման տիրույթը՝ $D(y) = \{x / x \geq 0\}$

Արժեքների բազմությունը՝ $E(y) = \{y / y \geq 0\}$

Օրինակ Գտնել $y = 2 - \sqrt{x+1}$ ֆունկցիայի գրաֆիկը:

Լուծում

$f(x) = \sqrt{x}$

$g(x+1) = \sqrt{x+1}$

$-g(x+1) = -\sqrt{x+1}$

$h(x) = -g(x+1) + 2 = 2 - \sqrt{x+1}$

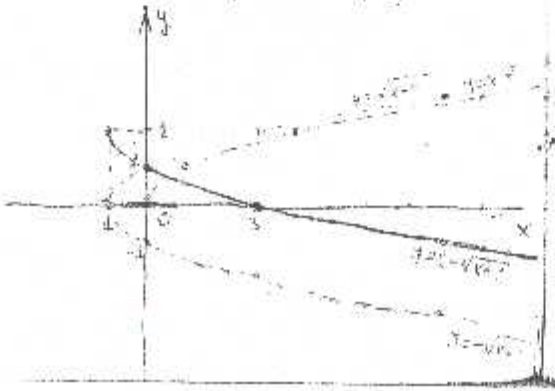

10 Քառ. արմատի հատկությունները

1) $\sqrt{ab} = \sqrt{a} \cdot \sqrt{b}$

2) $\sqrt{\frac{a}{b}} = \frac{\sqrt{a}}{\sqrt{b}}$

3) $\sqrt[2k]{a^{2k}} = a^k$, $a \geq 0$

Հետևանք ա) $a\sqrt{b} = \begin{cases} -\sqrt{a^2 b}, & a < 0 \\ \sqrt{a^2 b}, & a \geq 0 \end{cases}$

բ) $\sqrt{a^{2k+1}} = \sqrt{a^{2k} \cdot a} = a^k \sqrt{a}$, $a \geq 0$

Օրինակ $a\sqrt{b^3 a^3} = -\sqrt{b^2 a^8}$, եթե $a < 0$

Բացասական չէ $= \sqrt{b^2 a^8}$, եթե $a \geq 0$

Օրինակ արտահայտությունը տանք բազմապատկիչը արմատի տակ.

$\sqrt{a^6 b^3 c^7}$, եթե $a < 0$, $b < 0$, $c < 0$ ։

Լուծում $\sqrt{a^6 b^3 c^7} = -a^3 b c^3 \sqrt{bc}$

Օրինակ ազատվել հայտարարի իռացիոնալությունից:

ա) $\frac{1}{\sqrt{2}} = \frac{\sqrt{2}}{\sqrt{2}\sqrt{2}} = \frac{\sqrt{2}}{2}$ բ) $\frac{1}{1-\sqrt{2}} = \frac{1+\sqrt{2}}{(1-\sqrt{2})(1+\sqrt{2})} = \frac{1+\sqrt{2}}{-1} = -1-\sqrt{2}$

գ) $\frac{1}{\sqrt{2}-\sqrt{3}+2} = \frac{\sqrt{2}+2+\sqrt{3}}{(\sqrt{2}+2-\sqrt{3})(\sqrt{2}+2+\sqrt{3})} = \frac{\sqrt{2}+2+\sqrt{3}}{(\sqrt{2}+2)^2-(\sqrt{3})^2} =$

$= \frac{\sqrt{2}+\sqrt{3}+2}{2+4\sqrt{2}+4-3} = \frac{\sqrt{2}+\sqrt{3}+2}{4\sqrt{2}+3} = \frac{(\sqrt{2}+\sqrt{3}+2)(4\sqrt{2}-3)}{(4\sqrt{2}+3)(4\sqrt{2}-3)} =$

$= \frac{(\sqrt{2}+\sqrt{3}+2)(4\sqrt{2}-3)}{32-9}$

Օրինակ Լուծել $\sqrt{(x-3)^2} = 1$ հավասարումը:

Լուծում $|x-3| = 1$

ա) $\begin{cases} x-3 \geq 0 \\ x-3 = 1 \end{cases}$ $\begin{cases} x \geq 3 \\ x = 4 \end{cases}$ $x = 4$ լուծում է:

բ) $\begin{cases} x-3 < 0 \\ -x+3 = 1 \end{cases}$ $\begin{cases} x < 3 \\ x = 2 \end{cases}$ $x = 2$ լուծում է:

Պատ. 2; 4.

Ռացիոնալ ցուցիչով աստիճան

Սահմանում $\boxed{a^{\frac{m}{n}} = \sqrt[n]{a^m}}$ $\quad a^{\frac{mk}{n}} = \left(a^{\frac{m}{n}}\right)^k$

$3^{\frac{15}{2}} = \left(3^{\frac{1}{2}}\right)^3$

Հատկություններ Եթե p-ն և q-ն ռացիոնալ թվեր են, ապա

1) $a^p \cdot a^q = a^{p+q}$ Օրինակ $2^{\frac{1}{3}} \cdot 2^{\frac{2}{5}} = 2^{\frac{10+6}{15}} = 2^{\frac{16}{15}} = \sqrt[15]{2^{16}}$

2) $a^p : a^q = a^{p-q}$ Օրինակ $2^{-\frac{1}{4}} : 2^{\frac{2}{5}} = 2^{-\frac{3}{4}-\frac{2}{5}} = 2^{-\frac{23}{20}} = \sqrt[20]{2^{-23}}$

3) $(a \cdot b)^{\frac{m}{n}} = a^{\frac{m}{n}} \cdot b^{\frac{m}{n}}$

4) $\left(\frac{a}{b}\right)^{\frac{m}{n}} = \frac{a^{\frac{m}{n}}}{b^{\frac{m}{n}}}$

5) $\sqrt[n]{a^{mk}} = \sqrt[n]{a^m}$ Օրինակ $\sqrt[12]{a^{15}b^9c^{12}} = \sqrt[4]{a^5b^3c^4}$

6) $\left(a^{\frac{m}{n}}\right)^{\frac{k}{p}} = a^{\frac{mk}{np}}$ Օրինակ $\left(3^{\frac{2}{3}}\right)^{-\frac{3}{5}} = 3^{-\frac{2}{5}} = \sqrt[5]{3^{-2}} = \frac{1}{\sqrt[5]{3^2}}$

7) $\sqrt[n]{\sqrt[m]{a}} = \sqrt[nm]{a}$ Օրինակ $\sqrt[3]{\sqrt{6}} = \sqrt[6]{6}$, $\sqrt[4]{\sqrt[3]{-3}} = \sqrt[12]{-3}$

Օրինակ $\dfrac{\left(\frac{1}{\sqrt{a}+\sqrt{a+1}} + \frac{1}{\sqrt{a}\cdot\sqrt{a-1}}\right) : \left(1+\sqrt{\frac{a-1}{a-1}}\right)}{}$

$= \left(\frac{\sqrt{a}-\sqrt{a+1}}{(\sqrt{a})^2-(\sqrt{a+1})^2} + \frac{\sqrt{a}+\sqrt{a-1}}{(\sqrt{a})^2-(\sqrt{a-1})^2}\right) : \frac{\sqrt{a-1}+\sqrt{a+1}}{\sqrt{a-1}}$

$= \left(-(\sqrt{a}-\sqrt{a+1}) + \sqrt{a}+\sqrt{a-1}\right) : \frac{\sqrt{a-1}}{\sqrt{a-1}+\sqrt{a+1}}$

$= \frac{(\sqrt{a+1}+\sqrt{a-1})\cdot\sqrt{a-1}}{\sqrt{a-1}+\sqrt{a+1}} = \sqrt{a-1}$

Սահմանում $a^{\frac{m}{n}} = \left(a^{\frac{1}{n}}\right)^k$ Օրինակ $2^{\frac{3}{5}} = \left(2^{\frac{1}{5}}\right)^3$, $2^{\frac{3}{10}} = \left(2^{\frac{1}{10}}\right)^3$

$a^{\frac{k}{n}} = \left(a^{\frac{1}{n}}\right)^k$ կամ $a^{\frac{km}{n}} = \left(a^{\frac{m}{n}}\right)^k$ Օրինակ $3^{\frac{1}{10}} = \left(3^{\frac{1}{20}}\right)^2$

Բացասական ցուցիչով (ամբողջ) աստիճան

$\boxed{a^{-n} = \frac{1}{a^n}} \Rightarrow \frac{1}{a^{-n}} = a^n$

Օրինակ $\dfrac{6^n}{2^{n-1}\cdot 3^{n+1}} = \dfrac{2^n\cdot 3^n}{2^n\cdot 2^{-1}\cdot 3^{n+1}} = 2^{n-(n-1)}\cdot 3^{n-(n+1)} = 2\cdot 3^{-1} = 2\cdot\frac{1}{3} = \frac{2}{3}$

Օրինակ $0{,}1\cdot x^{-3}\cdot y\cdot (0{,}1\cdot x^{-2}\cdot y^{-2})^{-1} = \dfrac{0{,}1\cdot y}{x^3}\cdot\left(\dfrac{0{,}1\cdot x}{y}\right)^{-1} = \dfrac{0{,}1\cdot y}{x^3}\cdot\dfrac{y}{0{,}1\cdot x} = \dfrac{0{,}1\cdot y^2}{0{,}1\cdot x^4} = 0{,}1\cdot x^{-4}\cdot y^2$

Օրինակ $\dfrac{5^{n+1}\cdot 2^{n-3}+5^{n-2}\cdot 2^{n-1}}{10^{n-2}} = \dfrac{2^{n-3}\cdot 5^{n-2}\left(5^3+2\right)}{10^{n-3}} = \dfrac{10^{n-2}\cdot 127}{10^{n-2}} = 127$

n-աստիճանի արմատ

$\left(\sqrt[n]{a}\right)^m = \sqrt[n]{a^m}$

Սահմանում a թվի n աստիճանի արմատ կոչվում է այն n աստիճանի թիվը, որի n աստիճանը հավասար է a-ի։ Գրվում է՝ $\sqrt[n]{a}$։

Հատկություններ

ա) Եթե $a \geq 0$, ապա $\sqrt[n]{a}$-ն ոչ բացասական թիվ է։

բ) Եթե $a < 0$, n կենտ է, ապա $\sqrt[n]{a}$-ն բացասական թիվ է։

գ) Եթե a և n կենտ են, ապա $\sqrt[n]{a}$-ն նույն նշանի թիվ է։

Օրինակ $\sqrt[3]{8} = 2$, $\sqrt[3]{-8} = -2$, $\sqrt[4]{16} = 2$

$\sqrt[4]{-16}$ իմաստ չունի։

Ծանոթություն Ցանկացած դրական a թվի համար $\sqrt[n]{a}$ և $-\sqrt[n]{a}$ թվերը հակադիր են։

Հատկություններ

1) $\sqrt[n]{a^n} = a$, եթե $a \geq 0$

2) $\sqrt[n]{a^n} = |a|$, եթե n-ը զույգ է

3) $\sqrt[n]{a^n} = a$, եթե n-ը կենտ է

4) $\sqrt[n]{a}\cdot\sqrt[n]{b} = \sqrt[n]{ab}$, եթե $a \geq 0$, $b \geq 0$

5) $\dfrac{\sqrt[n]{a}}{\sqrt[n]{b}} = \sqrt[n]{\dfrac{a}{b}}$, եթե $a \geq 0$, $b > 0$

6) $\sqrt[n]{a^k} = \sqrt[np]{a^{kp}}$, եթե $a \geq 0$

7) $\sqrt[n]{\sqrt[m]{a}} = \sqrt[nm]{a}$, եթե $a \geq 0$

№ 0.47 $\left(\frac{(a+b)^{-7/4}\cdot c^{1/2}}{a^{2-1}\,b^{-3/4}}\right)^{1/3} : \left(\frac{b^3 c^4}{(a+b)^{2/3}\,a^{1/6-2/3}}\right)^{1/6} =$

$= \frac{(a+b)^{-7/3}\cdot c^{1/3}}{a^{2-1/3}\,b^{-1}} : \frac{(a+b)^{1/3}\cdot a^{\frac{2-4c}{3}}}{b^{1/2}\,c^{1/3}} = \frac{b}{b^{1/2}} = b^{1/2} = \sqrt{b}$

№ 0.49 $\frac{x-y}{x^{3/4}+x^{1/2}y^{1/4}}\cdot\frac{x^{1/2}y^{1/4}+x^{1/4}y^{1/2}}{x^{1/2}+y^{1/2}}\cdot\frac{x^{1/4}-y^{1/4}}{x^{1/2}-2x^{1/4}y^{1/4}+y^{1/2}} =$

$= \frac{(x^{1/4}-y^{1/4})(x^{1/4}+y^{1/4})\cdot x^{1/4}y^{1/4}(x^{1/4}+y^{1/4})(x^{1/4}-y^{1/4})}{x^{1/2}(x^{1/4}+y^{1/4})\cdot(x^{1/2}+y^{1/2})\cdot(x^{1/4}-y^{1/4})^2} =$

$= \frac{x^{1/4}y^{1/4}(x^{1/4}+y^{1/4})}{x^{1/4}}$

№ 0.48 $\frac{1-\sqrt{2t}}{\frac{1-\sqrt[4]{8t^3}}{1-\sqrt[4]{2t}}-\sqrt{2t}}\cdot\left(\frac{\sqrt[4]{\frac{1}{2t}}+\sqrt[4]{4t^2}}{1+\sqrt[4]{\frac{1}{2t}}}-\sqrt{2t}\right)^{-1} =$

$= \frac{1-\sqrt{2t}}{\frac{(1-\sqrt[4]{2t})(1+\sqrt[4]{2t}+\sqrt{2t})}{1-\sqrt[4]{2t}}-\sqrt{2t}}\cdot\left(\frac{\frac{(1+\sqrt[4]{2t})^2}{\sqrt[4]{2t}}}{\frac{\sqrt{2t}+1}{\sqrt[4]{2t}}}-\sqrt{2t}\right)^{-1} =$

$= \frac{1-\sqrt{2t}}{1+\sqrt{2t}}\cdot\left(\frac{(1+\sqrt[4]{2t})(1-\sqrt[4]{2t}+\sqrt{2t})}{\sqrt{2t}+1}-\sqrt{2t}\right)^{-1} =$

$= \frac{(1-\sqrt[4]{2t})(1+\sqrt[4]{2t})}{1+\sqrt{2t}}\cdot\left(1-\sqrt{2t}\right)^{-1} = \frac{1}{1}$

№ 2.115 Упростить: $(4+\sqrt{15})(\sqrt{10}-\sqrt{6})\sqrt{4-\sqrt{15}} = 2$

$(4+\sqrt{15})(\sqrt{10}-\sqrt{6})\sqrt{4-\sqrt{15}} = \sqrt{(4+\sqrt{15})^2(\sqrt{2}(\sqrt{5}-\sqrt{3}))^2(4-\sqrt{15})} =$

$= \sqrt{(4+\sqrt{15})2(5-2\sqrt{15}+3)(16-15)} =$

$= \sqrt{(4+\sqrt{15})2(8-2\sqrt{15})} = \sqrt{4(4+\sqrt{15})(4-\sqrt{15})} = \sqrt{4\cdot 1} = 2$

№ 2.122 Упростить: $\frac{1}{\sqrt{2}-\sqrt{3}} = \frac{3}{\sqrt{2}-\sqrt{3}} + \frac{4}{\sqrt{2}+\sqrt{3}}$

$\frac{\sqrt{2}+\sqrt{6}}{1} = \frac{3(\sqrt{2}+\sqrt{3})}{3} + \frac{4(\sqrt{2}-\sqrt{3})}{4}$

$\sqrt{2}+\sqrt{6} = \sqrt{2}+\sqrt{3}+\sqrt{2}-\sqrt{3}$

$\sqrt{2}+\sqrt{6} = \sqrt{2}+\sqrt{6}$

№ 1.53 Вычислить $\sqrt{7+4\sqrt{3}}+\sqrt{7-4\sqrt{3}}$ с точностью до 0,5:

Решение. I способ. Пусть $a = \sqrt{7+4\sqrt{3}}+\sqrt{7-4\sqrt{3}}$, $a>0$

$a^2 = \left(\sqrt{7+4\sqrt{3}}+\sqrt{7-4\sqrt{3}}\right)^2 =$

$= 7+4\sqrt{3}+2\sqrt{(7+4\sqrt{3})(7-4\sqrt{3})}+7-4\sqrt{3} = 14+2\sqrt{49-48} = 16 \Rightarrow$

$\Rightarrow \sqrt{7+4\sqrt{3}}+\sqrt{7-4\sqrt{3}} = 4$; $\left.\begin{matrix} a^2=16 \\ a>0 \end{matrix}\right] \Rightarrow a = 4$ Ответ: 4.

II способ $\sqrt{7+4\sqrt{3}}+\sqrt{7-4\sqrt{3}} = \sqrt{2^2+2\cdot2\sqrt{3}+(\sqrt{3})^2}+\sqrt{2^2-2\cdot2\sqrt{3}+(\sqrt{3})^2}$

$= \sqrt{(2+\sqrt{3})^2}+\sqrt{(2-\sqrt{3})^2} = |2+\sqrt{3}|+|2-\sqrt{3}| = 2+\sqrt{3}+2-\sqrt{3} = 4$

№ 1.53 $\sqrt{8-a}+\sqrt{5+a} = 5$, найти $\sqrt{(8-a)(5+a)}$:

$8-a+2\sqrt{(8-a)(5+a)}+5+a = 25$

$\sqrt{(8-a)(5+a)} = 6$ Ответ: 6.

№ 1.47 (б) Вычислить:

$2(\sqrt{5}-\sqrt{3})^{-1}+5(\sqrt{8}+\sqrt{3})^{-1}-3(\sqrt{8}-\sqrt{5})^{-1} = 0$

$\frac{2}{\sqrt{5}-\sqrt{3}}+\frac{5}{\sqrt{8}+\sqrt{3}}-\frac{3}{\sqrt{8}-\sqrt{5}} = \frac{2(\sqrt{5}+\sqrt{3})}{5-3}+\frac{5(\sqrt{8}-\sqrt{3})}{8-3}-\frac{3(\sqrt{8}+\sqrt{5})}{8-5}$

$= \sqrt{5}+\sqrt{3}+\sqrt{8}-\sqrt{3}-\sqrt{8}-\sqrt{5} = 0$

Քառակուսի հավասարումներ

$$\boxed{ax^2+bx+c=0}$$

1)) Լուծումները՝ $$\boxed{x_{1,2}=\frac{-b\pm\sqrt{b^2-4ac}}{2a}}$$

Մեկ օրինակ՝ Եթե b-ն զույգ է ($b=2k$) արմատները կլինեն՝

$$\boxed{x_{1,2}=\frac{-\frac{b}{2}\pm\sqrt{\left(\frac{b}{2}\right)^2-ac}}{a}}$$

2)) $\boxed{D=b^2-4ac}$ արտահայտությունը կոչվում է դիսկրիմինանտ

3)) $ax^2+bx+c=0$ քառ. հավասարման լուծումները՝

ա) Եթե $D=b^2-4ac>0$ — ունի երկու տարբեր արմատներ

բ) Եթե $D=0$ — ունի մեկ արմատ (կրկնակի)

գ) Եթե $D<0$ — ունի լուծում իրական թվերի

4)) Թերի քառ. հավասարումներ

ա) $ax^2+c=0$ եթե $-\frac{c}{a}\geq 0$ $x_{1,2}=\pm\sqrt{-\frac{c}{a}}$

բ) $ax^2+bx=0$ $(c=0)$ միշտ ունի լուծում՝

$x(ax+b)=0 \Rightarrow x_1=0,\ x_2=-\frac{b}{a}$

Դիտողություն՝ վերջին բ) դեպքի քառ. հավասարումներն միշտ ունեն երկու լուծում, որոնցից մեկը 0։

5)) **Վիետի թեորեմը** Եթե x_1, x_2-ը $ax^2+bx+c=0$ քառ. հավասարման արմատներն են, ապա

$$\begin{cases} x_1+x_2=-\frac{b}{a} \\ x_1\cdot x_2=\frac{c}{a} \end{cases}$$

Հակադարձ թեորեմ՝

Եթե $\begin{cases} x_1+x_2=-p \\ x_1\cdot x_2=q \end{cases} \Rightarrow x_1, x_2$-ը $x^2+px+q=0$ քառ. հավասարման արմատներն են

6)) Քառ. հավասարման արմատների նշանները՝

ա) Եթե $\begin{cases} D>0 \\ x_1\cdot x_1=\frac{c}{a}>0 \\ x_2+x_2=-\frac{b}{a}>0 \end{cases} \Rightarrow$ քառ. հավասարումն ունի երկու իրական տարբեր դրական արմատներ $(x_1>0,\ x_2>0)$

բ) Եթե $\begin{cases} D>0 \\ x_1\cdot x_1=\frac{c}{a}>0 \\ x_2+x_2=-\frac{b}{a}<0 \end{cases} \Rightarrow$ քառ. հավասարումն ունի երկու իրական տարբեր բացասական արմատներ՝ $(x_1<0,\ x_2<0)$

գ) Եթե $\begin{cases} D>0 \\ x_1\cdot x_2=\frac{c}{a}<0 \end{cases} \Rightarrow$ քառ. հավասարումն ունի երկու իրական տարբեր նշանների արմատներ.

Բիքվադրատային հավասարումներ

$$\boxed{ax^4+bx^2+c=0}$$

Լուծվում է հետևյալկերպ՝ $x^2=t$։ Ստանում ենք՝

$at^2+bt+c=0$ քառ. հավասարումը $(t\geq 0)$

Վերջ հավասարման դրական լուծումներից գտնելով $x^2=t$ հավասարման մեջ ենք տեղադրում և գտնում ենք բիքվադրատային հավասարման լուծումները։

№1

Зад. 16

$x^2+\sqrt{a+1}\cdot x+24=0$

$x_1=3x_2$

$a-?$

$a+1\geq 0 \Rightarrow a\geq -1$

$\begin{cases} x_1\cdot x_1=24 \\ x_1=3x_2 \\ x_1+x_2=-\sqrt{a+1} \end{cases}$ $\begin{cases} 3x_2^2=24,\ x_1=\pm 2\sqrt{2} \\ x_2=\pm 6\sqrt{2} \\ x_1+x_2=-\sqrt{a+1} \end{cases}$

а) $x_1=2\sqrt{2},\ x_2=6\sqrt{2} \Rightarrow x_1+x_2=8\sqrt{2}$

$x_1+8\sqrt{2}=-\sqrt{a+1}=8\sqrt{2}$ ✓

б) $x_1=-2\sqrt{2},\ x_2=-6\sqrt{2} \Rightarrow x_1+x_2=-8\sqrt{2}$

$-\sqrt{a+1}=-8\sqrt{2} \Rightarrow \sqrt{a+1}=8\sqrt{2}$

$a+1=128 \Rightarrow a=127$ Ответ: 127

№2

Дано: $x^2-3x+2=0$ функциясының нөлдерін табыңыз

Шешуі: $x^2-3x+2=x^2-2\cdot\frac{3}{2}x+\left(\frac{3}{2}\right)^2-\frac{9}{4}+2=$

$=\left(x-\frac{3}{2}\right)^2-\frac{1}{4}=\left(\left(x-\frac{3}{2}\right)-\frac{1}{2}\right)\left(\left(x-\frac{3}{2}\right)+\frac{1}{2}\right)=$

$=(x-2)(x-1)=0 \Rightarrow x_1=2,\ x_2=1$

№3

Зад. 30

$x^2+(a-1)x+a+3=0$

$2x_1(6x_2+1)=2-x_2$

$a-?$

$\begin{cases} x_1+x_2=1-a \\ x_1\cdot x_2=a+3 \\ 3x_1x_2+x_1=2-x_2 \end{cases}$ $\begin{cases} x_1+x_2=1-a \\ x_1\cdot x_2=a+3 \\ 3(a+3)=(2-a)+x_2 \end{cases}$

$x_2=-3 \quad a=-4$ Ответ: -4

№4

Зад. 10

$(2p-1)x^2-(3p-2)x-8p=0$

$x_1=3$

$p-?,\ x_2-?$

Если $x_1=3$ удовлетворяет уравнению, то

$9(2p-1)-3(3p-2)-8p=0$

$p=3$

$x_1\cdot x_2=-\frac{8p}{2p-1}$ при $3x_2=-\frac{24}{2\cdot 3-1}$

$x_2=-\frac{8}{5}$ Ответ: $p=3,\ x_2=-8/5$

№5

Дано: $x^2-4x-2=0$

x_1,x_2 — его корни

$x_1^{-2}+x_2^{-2}-?$

$x_1^{-2}+x_2^{-2}=\frac{1}{x_1^2}+\frac{1}{x_2^2}=\frac{x_1^2+x_2^2}{x_1^2x_2^2}=$

$=\frac{(x_1+x_2)^2-2x_1x_2}{(x_1x_2)^2}$

По теореме Виета $\begin{cases} x_1+x_2=4 \\ x_1x_2=-2 \end{cases} \Rightarrow$

$\Rightarrow x_1^{-2}+x_2^{-2}=\frac{16-2\cdot(-2)}{(-2)^2}=3\frac{1}{4}$ Ответ: $3\frac{1}{4}$

№6

Дано: $3a=5c$

$ax^2-6x+c=0$

x_1,x_2 — корни уравнения

$x_1=-2,\ x_2=1$

$z=(c-a)(a+b)^{-1}-?$

$z=\frac{c-a}{a+b}=\frac{\frac{c}{a}-1}{1+\frac{b}{a}}$

$\begin{cases} -\frac{b}{a}=x_1+x_2=-1 \Rightarrow \frac{b}{a}=1 \\ \frac{c}{a}=x_1\cdot x_2=-2 \Rightarrow \frac{c}{a}=-2 \end{cases} \Rightarrow$

$\Rightarrow z=\frac{-2-1}{1+1}=-\frac{1}{2}$ Ответ: $-\frac{1}{2}$

№7

Дано: $3b=5c$

$cx^2+bx+c=0$

$x_1=\frac{1}{4},\ x_2=c,\ c\neq 0{,}25$

$6\cdot c^{-1}+16^c-?$

$6\cdot c^{-1}+16^c=\frac{6}{x_2}+16^{x_1}$

$\begin{cases} x_1+x_2=-\frac{b}{c} \\ x_1x_2=\frac{c}{c} \end{cases} \Rightarrow \begin{cases} c+\frac{1}{4}=-\frac{b}{c} \\ \frac{1}{4}c=1 \end{cases} \Rightarrow$

$\Rightarrow \begin{cases} c=4 \\ c\left(\frac{1}{4}+4\right)=-b \end{cases} \Rightarrow \begin{cases} b=-17 \\ c=4 \end{cases} \Rightarrow 6\cdot 4^{-1}+16^4=$

$=\frac{6}{4}+2^8=1{,}5+256=257{,}5$ Ответ: 257,5

№8

Дано: $x^2-3x+2=0$ — квадратное уравнение

x_1,x_2 — его корни

$x_1^3+x_2^3-?$

$\begin{cases} x_1^3+x_2=3 \\ x_1\cdot x_2=2 \end{cases}$ — сумма кубов корней

$x_1^3+x_2^3=(x_1+x_2)(x_1^2-x_1x_2+x_2^2)=$

$=(x_1+x_2)\left((x_1+x_2)^2-3x_1x_2-x_1x_2\right)=$

$=(x_1+x_2)\left((x_1+x_2)^2-3x_1x_2\right)=3\left(3^2-3\cdot 2\right)=9$

Ответ: 9

Քառակուսի եռանդամ

$$y = ax^2+bx+c$$

1) $D = b^2-4ac$ - եռանդամի դիսկրիմինանտ:

2) Ինչպես գտնել քառակուսի եռանդամի արժեքները?

$$ax^2+bx+c = a\left(x^2+\frac{b}{a}x+\frac{c}{a}\right) = a\left(x^2+2\cdot\frac{b}{2a}x+\frac{b^2}{4a^2}-\frac{b^2}{4a^2}+\frac{c}{a}\right) =$$

$$= a\left[\left(x+\frac{b}{2a}\right)^2-\frac{b^2-4ac}{4a^2}\right] = a\left(x+\frac{b}{2a}\right)^2+\frac{4ac-b^2}{4a}$$

3) Քառ. եռանդամի արտադրիչների մեթոդը:

Եթե $D = b^2-4ac \geq 0 \Rightarrow$ կարող ենք գտնել

$$\frac{b^2-4ac}{4a^2} = \left(\sqrt{\frac{b^2-4ac}{4a^2}}\right)^2 \Rightarrow$$

$$ax^2+bx+c = a\left[\left(x+\frac{b}{2a}\right)^2-\left(\sqrt{\frac{b^2-4ac}{4a^2}}\right)^2\right] =$$

$$= a\left[x-\frac{-b+\sqrt{b^2-4ac}}{2a}\right]\left(x+\frac{b}{2a}+\frac{\sqrt{b^2-4ac}}{2a}\right) =$$

$$= a\left(x-\frac{-b+\sqrt{b^2-4ac}}{2a}\right)\left(x-\frac{-b-\sqrt{b^2-4ac}}{2a}\right) =$$

$= a(x-x_1)(x-x_2)$, որտեղ x_1, x_2 [illegible]

Վերջնական, երբ $D>0$, ապա

$$ax^2+bx+c = a(x-x_1)(x-x_2)$$

Պարզաբանենք Ինչպես, որ

$$ax^2+bx+c = a\left(x+\frac{b}{2a}\right)^2+\frac{4ac-b^2}{4a} \quad (*)$$

[illegible] քառակուսի եռանդամ

$y = ax^2+bx+c$ գրաֆիկ պարաբոլա է:

Մասնավոր դեպքեր

1) $y = x^2$, $a=1$, $b=0$, $c=0$

գրաֆիկը սիմետրիկ է Oy-ի նկատմամբ,
գագաթը $(0,0)$ կոորդ. սկզբնակետն է,
$x\in(-\infty;1)$ – նվազող, $x\in(0;\infty)$ – աճող

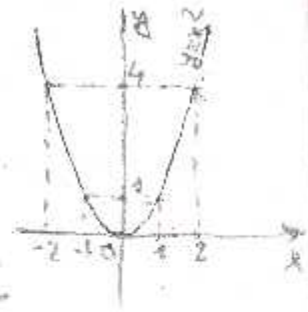

Մեթոդաբանություն $y=-x^2$, ֆունկցիան (երբ $a=-1$, $b=0$, $c=0$) գրաֆիկը ստացվում է $y=x^2$ ֆ-ի գրաֆիկից այն սիմետրիկ արտապատկերելով Ox-ի նկատմամբ: Գագաթը կրկին սկզբնակետն է:

2) $y = ax^2$, $b=0$, $c=0$

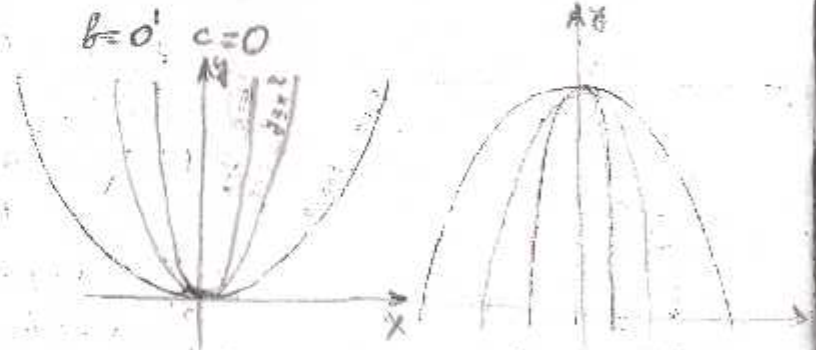

[illegible] $|a|<1$ -

$|a|>1$ -

ա) $a>0$ – պարաբոլի ճյուղերը [illegible] ուղղված են վեր,
բ) $a<0$ – պարաբոլի ճյուղերը ուղղված են վար:

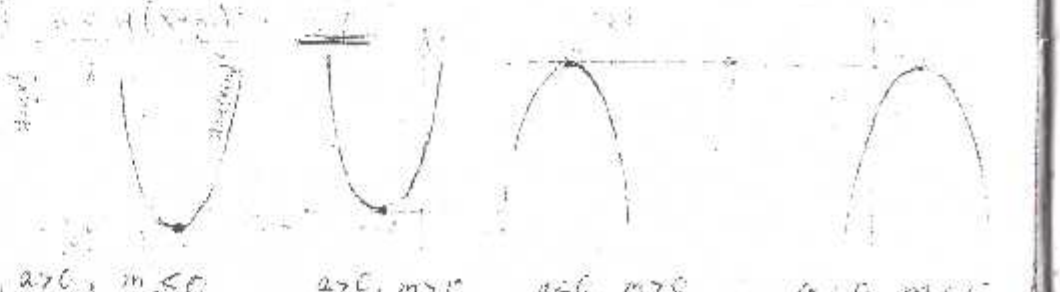

եթե $a>0$, $m<0$ $a>0$, $m>0$ $a<0$, $m>0$ $a<0$, $m<0$

$y = a(x+m)^2 + n$

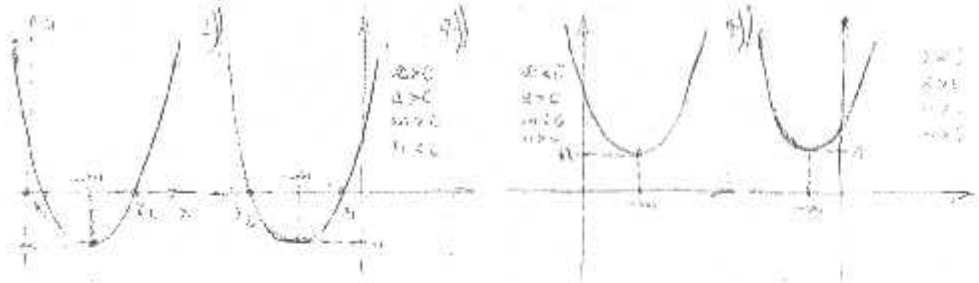

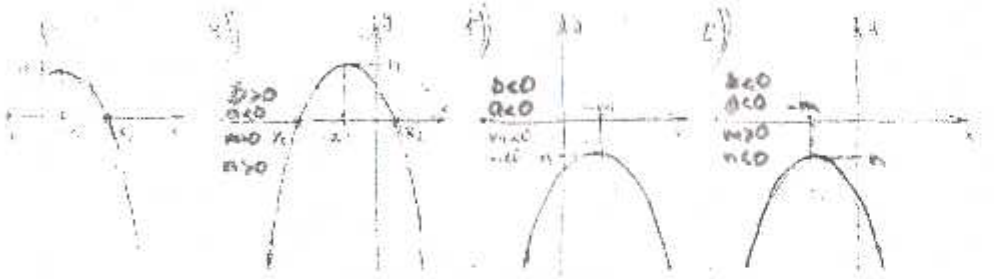

$y = ax^2 + bx + c$ ֆունկցիայի գրաֆիկը

$(*) \Rightarrow ax^2+bx+c = a\left(x+\frac{b}{2a}\right)^2 + \frac{4ac-b^2}{4a} \Rightarrow$

$\Rightarrow m = \frac{b}{2a}$, $n = \frac{4ac-b^2}{4a}$

$M_1\left(-\frac{b}{2a}; \frac{4ac-b^2}{4a}\right)$

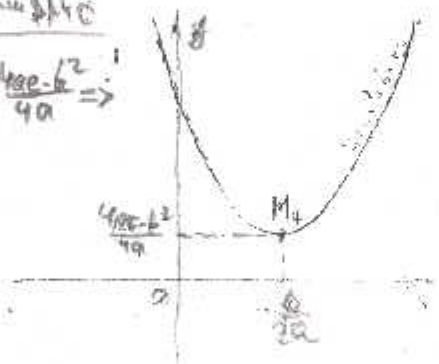

Օրինակ Գտնել $y = 1+2x-x^2$ ֆունկցիայի մեծագույն արժեքը ($a=-1, b=2, c=1$)

$x = -\frac{b}{2a} = -\frac{2}{-2} = 1$ — գագաթի աբսցիսը

$y_{max} = \frac{4ac-b^2}{4a} = \frac{-4-4}{-4} = 2$ Պատ՝ 2

Օրինակ a-ի ի՞նչ արժեքերի դեպքում x^2+ax+a քառակուսային եռանդամի արմատների քառակուսիների գումարը հնարավոր ամենափոքրն է։

Լուծում

$\left.\begin{matrix} x_1+x_2 = -a \\ x_1 x_2 = a \end{matrix}\right| \Rightarrow x_1^2+x_2^2 = (x_1+x_2)^2 - 2x_1x_2 = a^2-2a = a(a-2)$

$y = x^2+ax+a$ քառակուսային եռանդամի գրաֆիկը [illegible]

[illegible] $x_0 = -\frac{a}{2} = 1$ Պատ՝ 1

Квадратные неравенства

1)) $y = ax^2 + bx + c > 0$

а) $a > 0$, $D > 0$

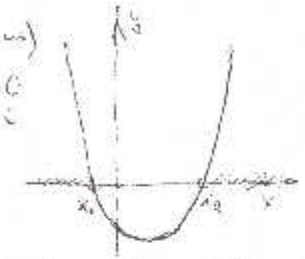

$x \in (-\infty; x_1) \cup (x_2; +\infty)$

$x < x_1 \cup x > x_2$

б) $a > 0$, $D = 0$

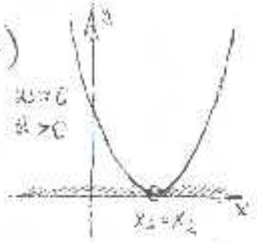

$x \in (-\infty; x_1) \cup (x_1; +\infty)$

$x \neq x_1$

в) $a < 0$, $D < 0$

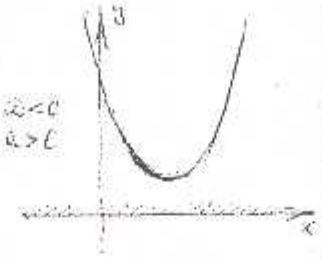

$x \in (-\infty; +\infty)$

$-\infty < x < +\infty$

г) $a < 0$, $D > 0$

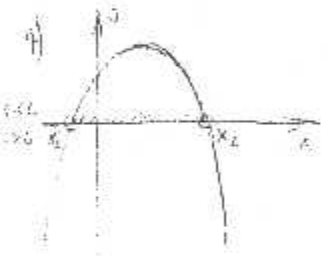

$x \in (x_1; x_2)$

$x_1 < x < x_2$

д) $a < 0$, $D = 0$

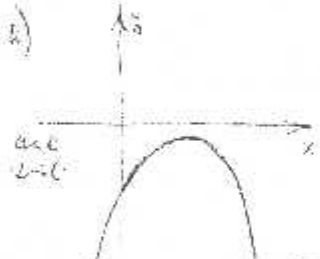

$x \in \varnothing$

е) $a < 0$, $D < 0$

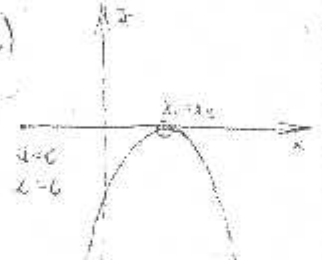

$x \in \varnothing$

2)) $y = ax^2 + bx + c < 0$

а) $a > 0$, $D > 0$

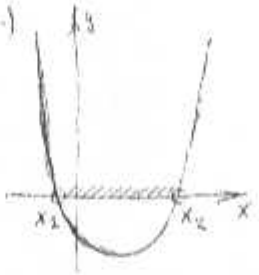

$x \in (x_1; x_2)$

$x_1 < x < x_2$

б) $a > 0$, $D = 0$



$x \in \varnothing$

в) $a > 0$, $D < 0$

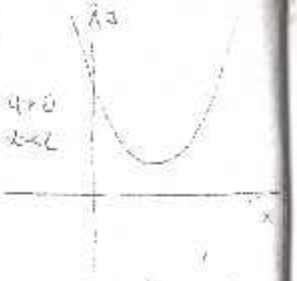

$x \in \varnothing$

г) $a < 0$, $D > 0$

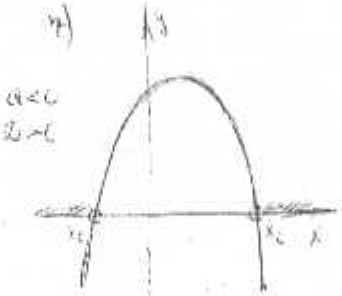

$x \in (-\infty; x_1) \cup (x_2; +\infty)$

$x < x_1 \cup x > x_2$

д) $a < 0$, $D = 0$

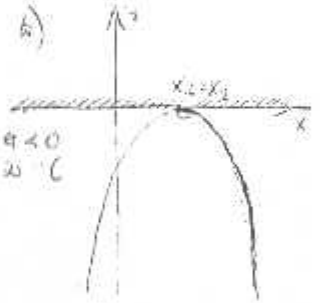

$x \in (-\infty; x_1) \cup (x_1; +\infty)$

$x \neq x_1 \cup x > x_1$

е) $a < 0$, $D < 0$



$x \in (-\infty; +\infty)$

$-\infty < x < +\infty$

Неравенство: $ax^2 + bx + c \geq 0$ имеет следующие решения:

а) $a > 0$, $D > 0$

$x \in (-\infty; x_1] \cup [x_2; +\infty)$

б) $a > 0$, $D = 0$

$x \in (-\infty; +\infty)$

в) $a > 0$, $D < 0$

$x \in (-\infty; +\infty)$

г) $a < 0$, $D > 0$

$x \in [x_1; x_2]$

д) $a < 0$, $D = 0$

$\varnothing$

е) $a < 0$, $D < 0$

$\varnothing$

Неравенство: $ax^2 + bx + c \leq 0$ имеет следующие решения:

а) $a > 0$, $D > 0$

$x \in (-\infty; x_1] \cup [x_2; +\infty)$

б) $a > 0$, $D = 0$

$x \in (-\infty; +\infty)$

в) $a > 0$, $D < 0$

$x \in (-\infty; +\infty)$

г) $a < 0$, $D > 0$

$x \in [x_1; x_2]$

д) $a < 0$, $D = 0$

$x = x_1$

е) $a < 0$, $D < 0$

$\varnothing$

№ 6

№ 4

№ 3

№ 5

Пример

Решение I вариант

Решение II вариант

Рациональные неравенства

Пример 6

$$\frac{(x-\frac{1}{4})(9x-1)^2}{(x-3)(4x-3)^2} < 0$$

Решение: $x_1=-3$, $x_2=\frac{1}{4}$, $x_3=3$, $x_4=\frac{3}{4}$

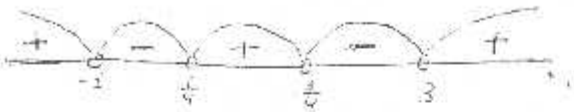

О.В.Ф.
$x \neq 3$, $x \neq \frac{3}{4}$
$x \in (-\infty; \frac{3}{4}) \cup (\frac{3}{4}; 3) \cup (3; \infty)$

Ответ: $x \in (-3; \frac{1}{4}) \cup (\frac{3}{4}; 3)$

Замечание: Если в неравенстве (с) знаменатель $\frac{1}{4}$ и $-\frac{1}{4}$ то $\frac{1}{4}$ выколотая точка.

Пример 4

$$\frac{(x-3)(x+1)}{(x+3)^2(x-4)} \leq 0$$

Решение: $x_1=3$; $x_2=-1$, $x_3=-3$, $x_4=4$

О.В.Ф.
$x \neq -3$, $x \neq 4$
$x \in (-\infty; -3) \cup (-3; 4) \cup (4; \infty)$

Ответ: $x \in (-\infty; -3) \cup (-3; -1] \cup [3; 4)$

Пример 13

$$\frac{x^2+5x-3}{x^2+5x+6} \leq 1$$

$$\frac{x^2+5x-3}{x^2+5x+6} - 1 \leq 0$$

$$\frac{-10x-9}{x^2+5x+6} \leq 0$$

Числитель: $-10x-9=0 \Rightarrow x_1=-\frac{9}{10}$

Знаменатель: $x^2+5x+6=0 \Rightarrow x_2=-3$, $x_3=-2$

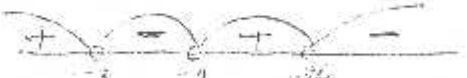

О.В.Ф.
$x \neq -3$, $x \neq -2$

Ответ: $x \in (-3; -2) \cup (-\frac{9}{10}; \infty)$

Пример 59

$$\frac{(x-1)^2(x-4)}{\sqrt{2x^2-x-6}} \geq 0$$

$(x-1)^2 \geq 0$ при $\forall x$
О.О.Ф.-ով $\sqrt{2x^2-x-6} > 0$ при $\forall x$
$\Rightarrow x-4 \geq 0 \Rightarrow x \geq 4$

О.О.Ф.:
$2x^2-x-6 \geq 0$
$x_1=-\frac{3}{2}$; $x_2=2$

$x \in [4; \infty) \cup \{1\} \cup (-\infty; -\frac{3}{2})$

Пример 1

$$\frac{2x-3}{1+x} \leq 0$$

Решение I вариантом

а) $\begin{cases} 2x-3 \geq 0 \\ 1+x < 0 \end{cases} \begin{cases} x \geq 3/2 \\ x < -1 \end{cases}$

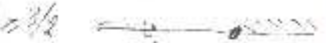

Ответ: $x = \varnothing$

б) $\begin{cases} 2x-3 \leq 0 \\ 1+x > 0 \end{cases} \begin{cases} x \leq 3/2 \\ x > -1 \end{cases}$

Ответ: $x \in (-1; 3/2]$

Решение II вариантом: общий вид: О.В.Ф. $x \in (-\infty; -1) \cup (-1; \infty)$
Функция имеет 2 критических точки
$x_1=-1$; $x_2=3/2$

Ответ: $x \in (-1; 3/2]$

3) Բիքվադրատային հավասարման լուծումների վերաբերյալ

$ax^4+bx^2+c=0$ (*) (լուծումները x_1,x_2,x_3,x_4)

Նշանակենք $t=x^2$ փոփոխականը

$at^2+bt+c=0$ (**) (լուծումները t_1,t_2):

ա) $D<0 \Rightarrow$ (**)-ը լուծում չունի $\Rightarrow$ (*) նույնպես չունի:

Կունենք $\begin{cases} D\geq 0 \\ t_1t_2=\frac{c}{a}>0 \\ t_1+t_2=-\frac{b}{a}<0 \end{cases} \Rightarrow$ (**)-ը ունի ~~դրական~~ 2 հատ (կամ $t_1=t_2<0$ դեպք) բացասական արմատներ $\Rightarrow$ $\Rightarrow$ (*)-ը լուծում չունի:

բ) Դիցուք $\begin{cases} c=0 \\ a\cdot b>0 \end{cases} \Rightarrow t_1=0,\ t_2<0 \Rightarrow$ (*)-ը ունի մեկ (բազմակի) $x=0$:

գ) Դիցուք $\begin{cases} D>0 \\ t_1t_2=\frac{c}{a}<0 \end{cases}$ $\Rightarrow$ ֆունկցիան ունի երկու տարբերանիշ արմատներ

$\Rightarrow$ (**)-ը ունի երկու տարբերանիշ արմատներ $(t_1<0,\ t_2>0) \Rightarrow$ (*)-ը ունի երկու արմատ $x_{1,2}=\pm\sqrt{t_2}$

Կամ $\begin{cases} D=0 \\ t_1+t_2=-\frac{b}{a}>0 \end{cases} \Rightarrow$ (**)-ը ունի $t_1=t_2>0$ մեկ արմատ $\Rightarrow$ (*)-ը ունի երկու արմատ $x_{1,2}=\pm\sqrt{t_1}$:

դ) Դիցուք $\begin{cases} c=0 \\ a\cdot b<0 \end{cases} \Rightarrow t_1=0,\ t_2>0 \Rightarrow$ (*)-ը ունի 3 արմատ $x_1=0,\ x_{2,3}=\pm\sqrt{t_2}$

ե) Դիցուք $\begin{cases} D>0 \\ t_1t_2=\frac{c}{a}>0 \\ t_1+t_2=-\frac{b}{a}>0 \end{cases} \Rightarrow$ (**)-ը ունի 2 դրական արմատներ $t_1>0,\ t_2>0 \Rightarrow$ (*)-ը ունի 4 արմատ

$x_{1,2}=\pm\sqrt{t_1},\ x_{3,4}=\pm\sqrt{t_2}$

Օրինակ

Խնդիր 6ա-33

$y=x^2+(3a+2)x+8a+14=0$

$x_1<1,\ x_2>1$

a — ?

I եղանակ (ուժեղ ելք)

$\begin{cases} D>0 \\ x_1=\frac{-3a-2-\sqrt{(3a+2)^2-4(8a+14)}}{2}<1 \\ x_2=\frac{-3a-2+\sqrt{(3a+2)^2-4(8a+14)}}{2}>1 \end{cases}$

Սրանցից բարդ համակարգեր կստացվեն:

II եղանակ (գրաֆիկական)

$y=f(x)$:

$\begin{cases} D>0 \\ f(1)<0 \end{cases} \begin{cases} (3a+2)^2-4(2a+14)>0 \\ 1^2+(3a+2)\cdot 1+8a+14<0 \end{cases}$

$\begin{cases} 9a^2-104-52>0 \\ 11a+17<0 \end{cases} \begin{cases} a_{1,2}=\frac{10\pm\sqrt{560}}{9} \\ a<-\frac{17}{11} \end{cases}$

Ակնհայտ է, որ $a_2=\frac{10+\sqrt{560}}{9}>-\frac{17}{11}$ (ոչ է)

$a_1-\left(-\frac{17}{11}\right)=\frac{10-\sqrt{560}}{9}+\frac{17}{11}=\frac{263-11\sqrt{560}}{99}=\frac{\sqrt{69169}-\sqrt{68728}}{99}>0 \Rightarrow$

$\Rightarrow a_2>-\frac{17}{11}$

Պատ.

$a\in\left(-\infty;-\frac{17}{11}\right)$

Տրված է $Ax^2+Bx+C=0$

$x^2-2(a-1)x^2-a^2-a=0$

ունի մի հատ լուծում

a — ?

Դիցուք $x^2=t>0$

$t^2-2(a+1)t-a^2-a=0$ $\quad A=1,\ B=-2(a+1),\ C=-a^2-a$

$\begin{cases} C=-a^2-a=0 \\ A\cdot B=-2(a+1)<0 \end{cases} \begin{cases} a_1=0,\ a_2=-1 \\ a>-1 \end{cases}$

Պատ.

$a=0$;

Տր-13 33

Ե-13 $5-a$ $ax^2+bx-5=0$ $(a>0)$ հավասարման արմատների b: Գրեք $ax^4+bx^2-5=0$ հավասարման

Հայտնի է, որ $t_1=5-a$ $at^2+bt-5=0$ հավասարման արմատն է b:

Հավելված քառակուսային հավասարումը: Ես. $x^2=t\geq 0$:

Հայտնի՝ $at^2+bt-5=0$: $t_1=5$

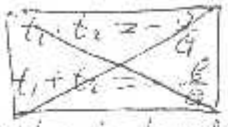

$\begin{cases} a>0 \\ t_1=5>0 \\ t_1\cdot t_2=5\cdot t_2=-\frac{5}{a}<0 \end{cases} \Rightarrow t_2<0 \Rightarrow$

$\Rightarrow$ հիմնա. հավ. լուծում կլինի՝ $x_{1,2}=\pm\sqrt{5}$ Պատ՝ $\boxed{\pm\sqrt{5}}$

Տր-5

Ե-5 $\begin{cases} (-2x+5)(x-a)>0 \\ a-3x\leq 1 \end{cases}$

Համակարգը լուծում կունի

a — ?

$\begin{cases} 2x^2-7x+5<0 \\ x\geq \frac{a-1}{3} \end{cases}$

$\begin{cases} x_1=1;\ x_2=5/2 \\ x\geq \frac{a-1}{3} \end{cases}$

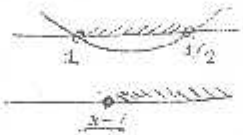

Համակարգը լուծում չի ունենա երբ $\frac{a-1}{3}>\frac{5}{2}$: Հ

$2a-2>15 \Rightarrow a>\frac{17}{2}$:

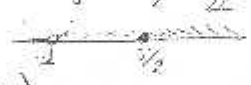

Պատ. $a\in\left[\frac{17}{2};\infty\right)$

Ար-13

$\begin{cases} 5-3x\leq 0{,}5(2+x) \\ 6x-4\leq 3 \end{cases}$

Համակարգի լուծումների բազմությունում պարունակվում է միայն երեք ամբողջ թիվ

a — ?

$\begin{cases} 3{,}5x\geq 4 \\ 6x\leq 3-a \end{cases}$ $\begin{cases} x\geq 8/7 \\ x\leq \frac{3-a}{6} \end{cases}$

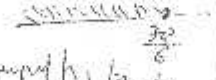

պետքի արդյունքը կբավարարվի եթե



$4\leq\frac{3-a}{6}<5$

$24\leq 3-a<30$

$21\leq -a<27$

$-27<a\leq -21$

Պատ. $a\in[-27;-21)$

Տր — 23 5՝

$x^2+2ax-1\leq 0$

համակարգի բազմությունում 2 ամբողջ թիվ կա միայն և միայն այդ թվերը:

a — ?

$a=a^2+1>0 \Rightarrow$ միշտ դրական է

$x_2-x_1=2$.

$\left.\begin{aligned} x_1&=-a-\sqrt{a^2+1} \\ x_2&=-a+\sqrt{a^2+1} \end{aligned}\right| \Rightarrow x_2-x_1=$

$=-a+\sqrt{a^2+1}+a+\sqrt{a^2+1}=2\sqrt{a^2+1}$

$2\sqrt{a^2+1}=2 \Rightarrow a^2+1=1 \Rightarrow a=0$

Պատ՝ $a=0$

Տր-54

$\sqrt{x-a}+\sqrt{x^2-2a^2+7a}=0$, $a>0$

Քանի որ $\sqrt{x-a}\geq 0$ և $\sqrt{x^2-2a^2+7a}\geq 0$ բ.ա.կ.-ում միշտ $\Rightarrow$

$\Rightarrow \sqrt{x-a}=\sqrt{x^2-2a^2+7a}=0$ Համ

$\begin{cases} \sqrt{x-a}=0 \\ \sqrt{x^2-2a^2+7a}=0 \\ a>0 \end{cases}$ $\begin{cases} x-a=0 \\ x^2-2a^2+7a=0 \\ a>0 \end{cases}$ $\begin{cases} x=a \\ a^2-2a^2+7a=0 \\ a>0 \end{cases}$ $\begin{cases} x=a \\ a_1=0,\ a_2=7 \\ a>0 \end{cases}$

Պ-պ. $a=7$.

Модуль и неравенства

а) $|f(x)| = g(x) \iff \begin{cases} f(x) = g(x) \\ f(x) \geq 0 \end{cases}$ или $\begin{cases} -f(x) = g(x) \\ f(x) < 0 \end{cases}$

а) $f(x) = g(x)$

б) $f(x) = -g(x)$

совокупность

Пример: $|2x-1| = 3x+6$

$$\begin{cases} 2x-1 = 3x+6 \\ 2x-1 \geq 0 \end{cases} \cup \begin{cases} -(2x-1) = 3x+6 \\ 2x-1 < 0 \end{cases}$$

$$\begin{cases} x = -7 \\ x \geq 1/2 \end{cases} \quad \emptyset$$

$$\begin{cases} x = -1 \\ x < 1/2 \end{cases} \quad x = -1$$

Ответ: $x = -1$

в) $|f(x)| \pm |g(x)| = P(x)$ — раскрываем модули

Пример: $|x+1| = 2|x-1| + x$

Нули подмодульных выражений: $x_1 = -1$, $x_2 = 1$

а) $x \in (-\infty; -1] \Rightarrow \begin{matrix} x+1 \leq 0 \\ x-1 < 0 \end{matrix} \Rightarrow \begin{matrix} |x+1| = -(x+1) = -x-1 \\ |x-1| = -(x-1) = 1-x \end{matrix} \Rightarrow$ подставляем

$\Rightarrow -x-1 = 2-2x+1+x \Rightarrow 0 = 3$ ✗

б) $x \in (-1; 1) \Rightarrow \begin{matrix} x+1 > 0 \\ x-1 < 0 \end{matrix} \Rightarrow \begin{matrix} |x+1| = x+1 \\ |x-1| = 1-x \end{matrix} \Rightarrow$ подставляем

$x+1 = 2-2x+x \Rightarrow x = \frac{1}{2} \in (-1; 1)$ подходит

в) $x \in [1; +\infty) \Rightarrow \begin{matrix} x+1 \geq 0 \\ x-1 \geq 0 \end{matrix} \Rightarrow \begin{matrix} |x+1| = x+1 \\ |x-1| = x-1 \end{matrix} \Rightarrow$ подставляем

$x+1 = 2x-2+x \Rightarrow x = \frac{3}{2} \in [1; +\infty)$ подходит

Ответ: $x_1 = \frac{1}{2}$, $x_2 = 3/2$

Модуль и неравенства

а) $|f(x)| \leq g(x) \iff -g(x) \leq f(x) \leq g(x)$ или $\begin{cases} f(x) \leq g(x) \\ f(x) \geq -g(x) \end{cases}$

Пример: $|2x^2-13x+17| \geq 7-x$

$$\begin{cases} 2x^2-13x+17 \geq 7-x \\ 2x^2-13x+17 \geq -(7-x) \end{cases} \quad \begin{cases} x^2-6x+5 \geq 0 \\ x^2-7x+12 \geq 0 \end{cases}$$

$$\begin{cases} x \in [2; 3] \\ x \in (-\infty; 3] \cup [4; \infty) \end{cases}$$

Ответ: $x \in [2; 3] \cup [4; \infty)$

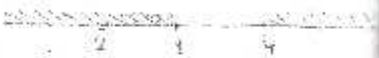

б) $|f(x)| > g(x) \iff \left[\begin{matrix} f(x) < -g(x) \\ f(x) > g(x) \end{matrix}\right.$

Пример: $|4x^2-2x-3| > 13-4x$

$$\left[\begin{matrix} 4x^2-2x-3 < 4x-13 \\ 4x^2-2x-3 > 13-4x \end{matrix}\right. \quad \left[\begin{matrix} 2x^2-3x+5 < 0 \\ 2x^2+x-22 > 0 \end{matrix}\right.$$

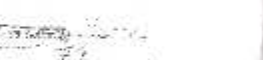

Ответ:

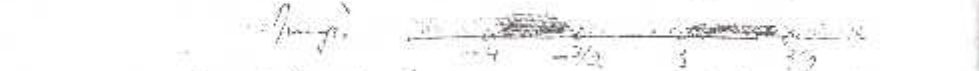

$x \in (-\infty; -4) \cup (-4; -3/2) \cup (3; +\infty)$ $x \in (-4; -3/2) \cup (3; 22/5)$

$2|x-1| + |3x+4| \leq 5x+2$ — раскрываем модули

1) $x \in (-\infty; -4/3)$

$-2x+2-3x-4 \leq 5x+2 \Rightarrow x \geq -\frac{4}{15}$ ✗

2) $x \in [-4/3; 1]$

$-2x+2+3x+4 \leq 5x+2 \Rightarrow x \geq 1$ $x = 1$

3) $x \in (1; +\infty)$

$2x-2+3x+4 \leq 5x+2$ $x \in (1; +\infty)$

$2 \leq 2$

Ответ: $[1; +\infty)$

Функциональные иррациональные

$\sqrt{f(x)} = g(x) \iff$ а) $\begin{cases} f(x) \geq 0 & \text{О.О.Р.} \\ g(x) \geq 0 & \text{неотр.} \\ f(x) = [g(x)]^2 \end{cases}$ б) $f(x) = [g(x)]^2$ (имеет иррациональный)

Пример $\sqrt{2x+3} = x-6$

I способ $\begin{cases} 2x+3 \geq 0 \\ x-6 \geq 0 \\ 2x+3 = (x-6)^2 \end{cases} \begin{cases} x \geq -3/2 \\ x \geq 6 \\ x^2-14x+33=0 \end{cases}$ $x_{1,2} = 7 \pm 4$

Отв. $x = 11$

II способ $2x+3 = x^2-12x+36$

$x^2-14x+33=0$ $x_1 = 3$ не подх. $x_2 = 11$ подх. Отв. 11

$\sqrt{f(x)} \pm \sqrt{g(x)} = P(x) \iff$ а) $\begin{cases} f(x) \geq 0 \\ g(x) \geq 0 \\ \left(\sqrt{f(x)} \pm \sqrt{g(x)}\right)^2 = [P(x)]^2 \end{cases}$

а) имеет иррациональность

Пример $\sqrt{6x-2} - 2\sqrt{x+1} = \sqrt{2x-6}$

$\sqrt{2x-6} + 2\sqrt{x+1} = \sqrt{6x-2}$

$2x-6+4\sqrt{2x^2-4x-6}+4x+4 = 6x-2$

$\sqrt{2x^2-4x-6} = 0$ имеет $2x^2-4x-6=0$

$x^2-2x-3=0$ $x_1 = -1$ не подх., $x_2 = 3$ подх. Отв. 3

$(x-1)\sqrt{x^2-x-6} = 6x-6$

$|x-1|\sqrt{x^2-x-6} - 6(x-1) = 0$

$|x-1|\left(\sqrt{x^2-x-6} - 6\right) = 0$

а) $x-1=0$ $x_1 = 1$ не подх.

б) $\sqrt{x^2-x-6} - 6 = 0$

$x^2-x-6 = 36$

$x^2-x-42=0$

$x_1 = -6$, $x_2 = 7$ подх.

Отв. -6; 1

Функциональные иррациональные

1) $\sqrt{f(x)} \leq g(x) \iff \begin{cases} f(x) \geq 0 & \text{О.О.Р.} \\ g(x) \geq 0 \\ f(x) \leq [g(x)]^2 \end{cases}$ (имеет О.О.Р. – решение)

Пример $6x-5$

$\sqrt{5x+4} - 2 \leq x$

$\sqrt{5x+4} \leq x+2$

$\begin{cases} x+2 \geq 0 \\ 5x+4 \leq x^2+4x+4 \end{cases} \begin{cases} x \geq -2 \\ x^2-x \geq 0 \end{cases}$

$x \in [-2; 0] \cup [1; \infty)$

О.О.Р.

$5x+4 \geq 0$

$x \geq -4/5$

$x \in [-4/5; \infty)$

Отв.

$x \in [-4/5; 0] \cup [1; \infty)$

---

2) $\sqrt{f(x)} \geq g(x) \iff$ имеет иррациональность: а) $\begin{cases} f(x) \geq 0 & \text{О.О.Р.} \\ g(x) \geq 0 \\ f(x) \geq [g(x)]^2 \end{cases}$ б) $\begin{cases} g(x) < 0 \\ \text{О.О.Р.} - f(x) \geq 0 \end{cases}$

имеет О.О.Р. – решение неравенства

Пример 1337

$4x - \sqrt{6x^2-18x+12} \leq 10$

$\sqrt{6x^2-18x+12} \geq 4x-10$

а) $\begin{cases} 4x-10 \geq 0 \\ 6x^2-18x+12 \geq 16x^2-80x+100 \end{cases} \begin{cases} x \geq 5/2 \\ 5x^2-31x+44 \leq 0 \\ x_1 = 2{,}2,\ x_2 = 4 \end{cases}$

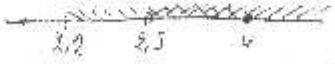

$x \in [2{,}5; 4]$

О.О.Р.

$6x^2-18x+12 \geq 0$

$x^2-3x+2 \geq 0$

$x \in (-\infty; 1] \cup [2; \infty)$



б) $\begin{cases} 4x-10 \leq 0 \\ \text{О.О.Р.} \end{cases} \begin{cases} 4x-10 < 0 \\ x^2-3x+2 \geq 0 \end{cases}$

$\begin{cases} x < 5/2 \\ x \in (-\infty; 1] \cup [2; \infty) \end{cases}$ $x \in (-\infty; 1] \cup [2; 5/2)$

Отв.

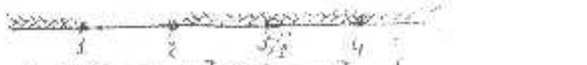

$x \in (-\infty; 1] \cup [2; 4]$

3) $\sqrt{f(x)}\cdot g(x)\geq 0 \Leftrightarrow \begin{cases} f(x)\geq 0 \\ g(x)\geq 0 \end{cases}$ ← в ОДЗ / или $\begin{cases} f(x)=0 \\ g(x)\geq 0 \end{cases}$

$\sqrt{f(x)}\cdot g(x)>0 \Leftrightarrow \begin{cases} f(x)>0 \\ g(x)\geq 0 \end{cases}$ и равны $\frac{f}{g}$.

Пример 3.3 (3) $\sqrt{f(x)}\cdot g(x)\geq 0$

Пример 6 № 14

$(x-2)\sqrt{11x-5-2x^2}\geq 0$

Найдём ОДЗ: $\sqrt{11x-5-2x^2}\geq 0$ — найдём (О.Д.З.-ка) $\Rightarrow$

$\Rightarrow \begin{bmatrix} x-2\geq 0 \\ 11x-5-2x^2=0 \end{bmatrix} \begin{bmatrix} x\geq 2 \\ x_1=\frac{1}{2};\ x_2=5 \end{bmatrix}$

О.Д.З.: $2x^2-11x+5\leq 0$

$x_{1,2}=\frac{11\pm 9}{4}$ $x_1=\frac{1}{2}$, $x_2=5$

$x\in[\frac{1}{2};\ 5]$

Ответ:

$x\in[2;\ 5]\cup\{\frac{1}{2}\}$

---

4) $\sqrt{f(x)}\cdot g(x)\leq 0 \Leftrightarrow \begin{cases} f(x)\geq 0 \\ g(x)\leq 0 \\ f(x)=0 \end{cases}$ ← О.Д.З. / или

Пример 4 № 1317

$(3x^2-11x+15)\sqrt{7-6x-x^2}\leq 0$

Найдём ОДЗ: $\sqrt{7-6x-x^2}\geq 0$ — найдём (О.Д.З.-ка) $\Rightarrow$

$\Rightarrow \begin{bmatrix} 3x^2-11x+15\leq 0 \\ 7-6x-x^2=0 \end{bmatrix} \begin{bmatrix} x_1=-7;\ x_2=1 \end{bmatrix}$

О.Д.З.: $7-6x-x^2\geq 0$

$x^2+6x-7\leq 0$

$x_1=-7$, $x_2=1$

$x\in[-7;\ 1]$

Ответ:

$x_1=-7$, $x_2=1$

---

5) $\sqrt{f(x)}\geq\sqrt{g(x)} \Leftrightarrow \begin{cases} f(x)\geq 0 \\ g(x)\geq 0 \\ f(x)\geq g(x) \end{cases}$ ← О.Д.З.

---

6) $\sqrt{f(x)}\leq\sqrt{g(x)} \Leftarrow \begin{cases} f(x)\geq 0 \\ g(x)\geq 0 \\ f(x)\leq g(x) \end{cases}$ ← О.Д.З.

---

7) $\sqrt{f(x)}+\sqrt{g(x)}\geq P(x) \Leftrightarrow \begin{cases} f(x)\geq 0 \\ g(x)\geq 0 \\ P(x)\geq 0 \\ \left(\sqrt{f(x)}+\sqrt{g(x)}\right)^2\geq [P(x)]^2 \end{cases}$ ← О.Д.З.

Найдём О.Д.З.-ку выражения

$\begin{cases} P(x)<0 \\ \text{О.Д.З.} \end{cases} \begin{cases} P(x)<0 \\ f(x)\geq 0 \\ g(x)\geq 0 \end{cases}$

---

8) $\sqrt{f(x)}+\sqrt{g(x)}\leq P(x) \Leftrightarrow \begin{cases} f(x)\geq 0 \\ g(x)\geq 0 \\ P(x)\geq 0 \\ \left(\sqrt{f(x)}+\sqrt{g(x)}\right)^2\leq [P(x)]^2 \end{cases}$ ← О.Д.З.

Найдём О.Д.З.-ку выражения

---

9) $\sqrt{f(x)}+\sqrt{g(x)}\geq\sqrt{P(x)} \Leftarrow \begin{cases} f(x)\geq 0 \\ g(x)\geq 0 \\ P(x)\geq 0 \\ \left(\sqrt{f(x)}+\sqrt{g(x)}\right)^2\geq P(x) \end{cases}$ ← О.Д.З.

Найдём О.Д.З.-ку выражения

Пример 9 № 1381

$\sqrt{2x-8}+\sqrt{x-5}>\sqrt{3x-9}$

$2x-8+2\sqrt{2x^2-18x+40}+x-5>3x-9$

$\sqrt{2x^2-18x+40}>4$

$\begin{cases} 2x^2-18x+40>16 \\ 2x^2-18x+40\geq 0 \end{cases} \begin{cases} x^2-9x+12>0 \\ x^2-9x+20\geq 0 \end{cases}$

$\begin{cases} x_{1,2}=\frac{9\pm\sqrt{33}}{2} \\ x_{1,2}=\frac{9\pm 1}{2} \end{cases}$

$x\in(-\infty;\ \frac{9-\sqrt{33}}{2}]\cup[\frac{9+\sqrt{33}}{2};\ \infty)$

О.Д.З.: $\begin{cases} 2x-8\geq 0 \\ x-5\geq 0 \\ 3x-9\geq 0 \end{cases} \begin{cases} x\geq 4 \\ x\geq 5 \\ x\geq 3 \end{cases}$

$x\in[5;\ \infty)$

Ответ:

$x\in[\frac{9+\sqrt{33}}{2};\ \infty)$

$\sqrt{g(x)} - \sqrt{s(x)} \geq \sqrt{p(x)} \Rightarrow$

$\Rightarrow \sqrt{p(x)} + \sqrt{s(x)} \leq \sqrt{g(x)} \Leftrightarrow \begin{cases} p(x) \geq 0 \\ s(x) \geq 0 \\ g(x) \geq 0 \\ \left(\sqrt{p(x)} + \sqrt{s(x)}\right)^2 \leq g(x) \end{cases}$ ← О. У. Р.

1327 самостоятельно

$\sqrt{x-2} + \sqrt{3x+2} \leq \sqrt{3x+2}$

$x - 2 + 2\sqrt{2x^2 - 2x - 4} + 2x + 2 \leq 3x + 2$

$\sqrt{2x^2 - 2x - 4} \leq 1$

$\begin{cases} 2x^2 - 2x - 4 \geq 0 \\ 2x^2 - 2x - 4 \leq 1 \end{cases} \begin{cases} x^2 - x - 2 \geq 0 \\ 2x^2 - 2x - 5 \leq 0 \end{cases}$

О. У. Р.

$\begin{cases} x - 2 \geq 0 \\ 2x + 2 \geq 0 \\ 3x + 2 \geq 0 \end{cases} \begin{cases} x \geq 2 \\ x \geq -1 \\ x \geq -2/3 \end{cases}$

$x \in [2; \infty)$

$\begin{cases} x_{1,2} = \frac{1 \pm 3}{2} \\ x_{1,2} = \frac{1 \pm \sqrt{11}}{2} \end{cases}$

$x \in \left(\frac{1-\sqrt{11}}{2}; -1\right] \cup \left[2; \frac{1+\sqrt{11}}{2}\right)$

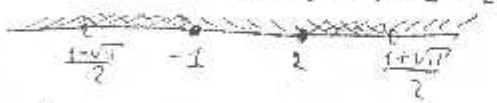

Ответ: $x \in \left[2; \frac{1+\sqrt{11}}{2}\right)$

1357 самостоятельно

$\sqrt{x+4} + \sqrt{1-x} \leq \sqrt{3-2x}$

$x + 4 + 2\sqrt{x^2 - 3x + 4} + 1 - x \leq 3 - 2x$

$\sqrt{x^2 - 3x + 4} \leq -1 - x$

а) $\begin{cases} -1 - x > 0 \\ x^2 - 3x + 4 \leq x^2 - 2x + 1 \\ x^2 - 3x + 4 \geq 0 \end{cases} \begin{cases} x < -1 \\ x \geq 3/5 \\ -\infty < x < \infty \end{cases}$

О. У. Р.

$\begin{cases} x \geq -4 \\ x \geq 1 \\ x \leq 3/2 \end{cases}$

$x \in [-4; 3/2]$

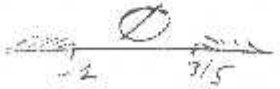

Ответ: ∅

43

Показательная функция

$y = a^x$, $(a > 0,\ a \neq 1)$

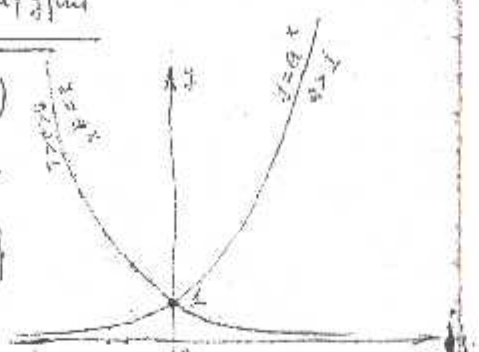

1) Область определения $D(y) = \{x / x \in (-\infty; +\infty)\}$

2) Область значений $E(y) = \{y / y \in (0; +\infty)\}$

3) При $a > 1$ — возрастающая (большему значению x соответствует большее значение y), при $x \to -\infty \Rightarrow y \to 0$

При $0 < a < 1$ — убывающая (большему значению x соответствует меньшее значение y), при $x \to +\infty \Rightarrow y \to 0$;

Показательные уравнения

$$a^x = a^c \iff x = c$$

Пример

№ 24

$3^{x+1} + 3^{2-x} = 28$

$3 \cdot 3^x + 3^2 \cdot 3^{-x} = 28$

$3 \cdot 3^x + \frac{9}{3^x} = 28$

Пусть $3^x = y \quad (y > 0)$

$3y + \frac{9}{y} = 28$

$3y^2 - 28y + 9 = 0$

а) $y_1 = \frac{1}{3} \Rightarrow 3^x = \frac{1}{3} = 3^{-1} \Rightarrow x = -1$

б) $y_2 = 9 \Rightarrow 3^x = 9 = 3^2 \Rightarrow x = 2$

Удовлетворяют У.

Ответ: $x_1 = -1, \quad x_2 = 2$

№ 5

$3 \cdot 16^x + 2 \cdot 81^x = 5 \cdot 36^x$

$3 \cdot 2^{4x} + 2 \cdot 3^{4x} = 5 \cdot 2^{2x} \cdot 3^{2x}$ / 2^{4x} отлично от нуля

$3 + 2 \cdot \left(\frac{3}{2}\right)^{4x} = 5 \cdot \left(\frac{3}{2}\right)^{2x}$

Пусть $\left(\frac{3}{2}\right)^{2x} = y > 0$

$3 + 2y^2 = 5y$

$2y^2 - 5y + 3 = 0$

$y_{1;2} = \frac{5 \pm 1}{4}$ / $y_1 = 1$, $y_2 = 3/2$

а) $y = 1 \Rightarrow \left(\frac{3}{2}\right)^{2x} = 1 \Rightarrow x = 0$

б) $y = \frac{3}{2} \Rightarrow \left(\frac{3}{2}\right)^{2x} = \frac{3}{2} \Rightarrow 2x = 1 \Rightarrow x = \frac{1}{2}$

Удовлетворяют У.

Ответ: $x_1 = 0 \quad x_2 = 1/2$

№ 5

$4^{\frac{1}{x}} - 6^{\frac{1}{x}} = 2 \cdot 9^{\frac{1}{x}}$ Отлично от нуля

$2^{\frac{2}{x}} - 2^{\frac{1}{x}} \cdot 3^{\frac{1}{x}} = 2 \cdot 3^{\frac{2}{x}}$ / $2^{\frac{2}{x}}$

$1 - \left(\frac{3}{2}\right)^{\frac{1}{x}} = 2 \cdot \left(\frac{3}{2}\right)^{\frac{2}{x}}$ Пусть $\left(\frac{3}{2}\right)^{\frac{1}{x}} = y > 0$

$2y^2 + y - 1 = 0$

$y_{1;2} = \frac{-1 \pm 3}{4}$

а) $y = -1$ не удовл.

б) $y = \frac{1}{2} \Rightarrow \left(\frac{3}{2}\right)^{\frac{1}{x}} = \frac{1}{2} \Rightarrow \frac{1}{x} = \log_{3/2} \frac{1}{2} =$

$\Rightarrow x = \frac{1}{\log_{3/2} 1/2} = \log_{1/2} 3/2$

Ответ: $x = \log_{1/2} 3/2$

Логарифмы

Определение $\log_a b = c$, где c — такое число, что $a^c = b$

$$a^{\log_a b} = b \qquad a>0,\ a\neq 1,\ b>0$$

Следствие $\log_a b = c \iff a^c = b$

Примеры $\log_2 8 = 3$, $\log_{\frac{1}{2}} 8 = -3$, $\log_{\sqrt{3}} 27 = -3$

Свойства

1) $\log_a a = 1$
2) $\log_a 1 = 0$
3) $\log_a (x\cdot y) = \log_a x + \log_a y$
4) $\log_a \frac{x}{y} = \log_a x - \log_a y$
5) $\log_a b^k = k \log_a b$
6) $\log_{a^k} b = \frac{1}{k}\log_a b$
7) $\log_a b = \frac{1}{\log_b a}$
8) $\log_a b = \frac{\log_c b}{\log_c a}$
9) $a^{\log_c b} = b^{\log_c a}$

Следствие $\log_{10} b = \lg b$, $\log_e b = \ln b$

Определение $\log_a b$ имеет смысл при $\begin{cases} a>0 \\ a\neq 1 \\ b>0 \end{cases}$

Следствие
а) при $\begin{cases} a>1 \\ b>1 \end{cases} \Rightarrow \log_a b > 0$
при $\begin{cases} a>1 \\ 0<b<1 \end{cases} \Rightarrow \log_a b < 0$
б) при $\begin{cases} 0<a<1 \\ b>1 \end{cases} \Rightarrow \log_a b < 0$
при $\begin{cases} 0<a<1 \\ 0<b<1 \end{cases} \Rightarrow \log_a b > 0$

№1 $\log_2 4 = 2 > 0$
№2 $\log_{\frac{1}{2}} 4 = -2 < 0$
№3 $\log_{\frac{1}{3}} 8 = -3 < 0$
№4 $\log_{\frac{1}{3}} \frac{1}{27} = 3 > 0$

№5 $3^{1+\log_{\sqrt{3}}\sqrt{2}} \cdot \lg\frac{25}{4} \cdot \log_{\sqrt{2}} 64 = 3\cdot 3^{\log_{3^{\frac{1}{2}}} 2^{\frac{1}{2}}} \cdot (-1)\cdot \log_{2^{\frac{1}{2}}} 2^{-1} =$
$= 3\cdot\frac{1}{2}\cdot 2\cdot 3^{\log_3 2}\cdot(-1)\cdot(-1)\cdot\frac{1}{\frac{1}{2}}\cdot\log_2 2 = 3\cdot 2\cdot 2 = 12$

№6 $4^{1+\frac{1}{\log_3 2}} \cdot \log_{\sqrt{3}} 64 \cdot \log_{16} 169 = 4\cdot 4^{\log_2 3}\cdot\log_{13^{\frac{1}{2}}} 2^6 \cdot \log_{2^4} 13^2 =$
$= 4\cdot 2^{2\log_2 3}\cdot 6\cdot\frac{1}{\frac{1}{2}}\cdot\log_{13} 2\cdot 2\cdot\frac{1}{4}\cdot\log_2 13 =$
$= 4\cdot 2^{\log_2 9}\cdot 12\cdot\frac{1}{2}\cdot\log_{13} 2\cdot\underbrace{\log_2 13}_{=\frac{1}{\log_{13} 2}} = 4\cdot 9\cdot 6\cdot\frac{1}{\log_{13} 2}\log_2 13 = 216$

№7 $\log_{\sqrt{3}} a\cdot b^2 + \log_{\frac{1}{3}} b^3 = 16$ при $\log_a b = 4$

$\log_{3^{\frac{1}{2}}} a + \log_{3^{-\frac{1}{2}}} b^2 + 3\log_a b = 16$

$2\log_{3^{\frac{1}{2}}} a + 2\cdot 2\cdot\log_{3^{-1}} b + 3\log_a b = 16$

$-4\log_3 b + 3\log_a b = 16$

$\log_3 b = -4$

$\log_a b = 2$ Ответ: 12

№8 $\log_{\frac{1}{x}} 3 = \frac{1}{\log_{\frac{1}{3}} x}$

№9 $\log_{\frac{1}{3}x} 9 = \log_{3^{-1}x} 3^2 = -\frac{2}{\log_3 x} = -\frac{2}{-2} = 1$

№10 $\log_2 16 = \log_2 2^4 = 4\log_2 2 = 4$

№ 47-52

$\log_{12} 27 = a$, $\log_6 2 - ?$

$a = \log_{12} 3^3 = 3\log_{12} 3 = 3 \cdot \frac{1}{\log_3 12} = \frac{3}{\log_3(3\cdot 4)} = \frac{3}{\log_3 3 + \log_3 4} = \frac{3}{1+\log_3 4} \Rightarrow$

$\Rightarrow a = \frac{3}{1+2\log_3 2} \Rightarrow \log_3 2 = \frac{3-a}{2a}$

Формула $\log_a b = \frac{1}{\log_b a}$: $\log_6 2 = \frac{1}{\log_2 6} = \frac{1}{\log_2 2 + \log_2 3} = \frac{1}{1+\log_2 3} = \frac{1}{1+\frac{1}{\log_3 2}} =$

$= \frac{1}{1+\frac{2a}{3-a}} = \frac{3-a}{3-a+2a} = \frac{3-a}{3+a}$ Отв: $\boxed{\frac{3-a}{3+a}}$

№ 53

$\frac{|21a-16| = 22}{\log_7(3-14a) - ?}$

а) $\begin{cases} 3-14a > 0 \\ 21a-16 = 22 \\ 21a-16 \geq 0 \end{cases} \begin{cases} a < \frac{3}{14} = \frac{3}{14} \\ a = 38/21 = \frac{38}{21} \\ a \geq 16/21 = \frac{16}{21} \end{cases}$

$\varnothing$

б) $\begin{cases} 21a-16 < 0 \\ 21a-16 = 22 \\ 3-14a > 0 \end{cases} \begin{cases} a < 16/21 \\ a = -3/2 \\ a < 3/14 \end{cases}$

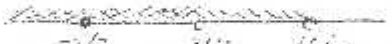

$a = -3/2 \Rightarrow$

$\Rightarrow \log_7(3-14a) = \log_{\frac{1}{2}}\left(3+14\cdot\frac{3}{2}\right) \Rightarrow \log_{\frac{1}{2}}(3+4) = \log_{\frac{1}{2}} 7 = -1$

Отв: $\boxed{-1}$

№ 54

$\frac{\log_3(a-4) - \log_{\frac{1}{3}} a = 1}{\log_{2\sqrt{7}}(a-2) - ?}$

$1 = \log_3(a-4) - \log_{3^{-1}} a =$

$= \log_3(a-4) + \log_3 a = \log_3(a(a-4))$

Формула $\log_a b = c \Rightarrow b = a^c$: $\log_3(a^2-4a) = 1 \Rightarrow a^2-4a = 3^1$

$a^2-4a-3 = 0$

а) $a_1 = -1$ не подходит (не в О.О.Р.)

б) $a_2 = 5 \Rightarrow \log_{2\sqrt{7}}(a-2) = \log_{2\sqrt{7}}(5-2) =$

$= \log_{2\sqrt{7}} 3 = \frac{1}{2}\log_7 3 = \frac{1}{2}$

О.О.Р.:
$\begin{cases} a-4 > 0 \\ a > 0 \\ a-2 > 0 \end{cases} \begin{cases} a > 4 \\ a > 0 \\ a > 2 \end{cases}$
$a > 4$

Отв: $\boxed{\frac{1}{2}}$

№ 49

$\frac{\log_2 a - \log_{\frac{1}{2}}(a+3) = 1 + \log_{a^2} 5}{\log_{\frac{1}{\sqrt{5}}}(a-1,8) - ?}$

О.О.Р.:
$\begin{cases} a > 0 \\ a+3 > 0 \\ a-1,8 > 0 \end{cases} \begin{cases} a > 0 \\ a > -3 \\ a > 1,8 \end{cases}$
$a > 1,8$

$\log_2 a + \log_2(a+3) = \log_2 2 + \log_{a^2} 5 = \log_2 10$

$\log_2(a^2+3a) = \log_2 10 \Rightarrow a^2+3a = 10$

$a^2+3a-10 = 0$

а) $a = -5$ не подходит (не в О.О.Р.)

б) $a = 2 \Rightarrow \log_{\frac{1}{\sqrt{5}}}(a-1,2) = \log_{\frac{1}{\sqrt{5}}}(2-1,2) = \log_{5^{-\frac{1}{2}}} 0,2 =$

$= \log_{5^{-\frac{1}{2}}} \frac{1}{5} = -\frac{1}{\frac{1}{2}}\log_5 5^{-1} = -2\cdot(-1)\cdot\log_5 5 = 2$

Отв: $\boxed{2}$

Логарифмическая функция

$y = \log_a x$, $a > 0$, $a \neq 1$, $x > 0$

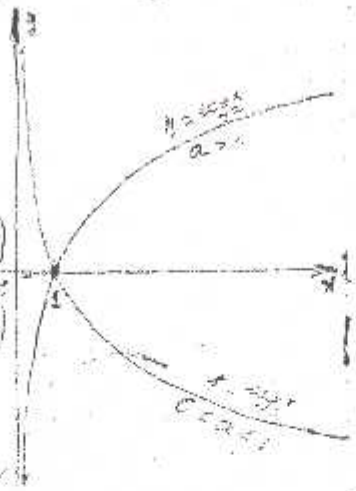

Область определения: $D(y) = \{x \mid x \in (0; +\infty)\}$

Область значений: $E(y) = \{y \mid y \in (-\infty; +\infty)\}$

При $a > 1$ — $\log_a x_1 > \log_a x_2 \Leftrightarrow x_1 > x_2$

При $0 < a < 1$ — убывает $\log_a x_1 > \log_a x_2 \Leftrightarrow x_1 < x_2$

Асимптота: $\log_{0<a<1} x \to +\infty$, при $\begin{cases} a \to 0 \\ x \to 0 \end{cases}$

$\log_{a>1} x \to -\infty$, при $\begin{cases} a > 1 \\ x \to 0 \end{cases}$

Логарифмические неравенства

$$\log_a x = \log_a y \Leftrightarrow x = y$$

$\log_3(2x+3) - \log_x 3 = 1$

$\log_3(2x+3) \cdot \frac{1}{\log_3 x} = 1$

$\log_x(2x+3) = 2$

$x^2 = 2x + 3$

$x^2 - 2x - 3 = 0$

$x_1 = -1$, $x_2 = 3$

x_1 не подходит

Ответ: [3]

№ 1

$\log_5(x-2) = 1 - \log_5(x-6)$

$\log_5(x-2) = \log_5 5 - \log_5(x-6)$

$\log_5(x-2) = \log_5 \frac{5}{x-6}$

$x - 2 = \frac{5}{x-6}$

$x^2 - 8x + 7 = 0$

$x_1 = 1$; $x_2 = 7$

x_1 не подходит

$x_2 = 7$ подходит

Ответ: [7]

№ 2

$\log_{6x+1}(6x+1) = 2$

$6x + 1 = (x+1)^2$

$x^2 - 4x = 0$

$x_1 = 0$ не подходит по ОДЗ

$x_2 = 4$ подходит

Ответ: [4]

№ 3

$4 \cdot x^{\log_2 x} - 2^{1 + \log_2^2 x} = 32$

$4 \cdot x^{\log_2 x} - 2 \cdot 2^{\log_2 x \cdot \log_2 x} = 32$

$4 \cdot x^{\log_2 x} - 2 \cdot \left(2^{\log_2 x}\right)^{\log_2 x} = 32$

$4 \cdot x^{\log_2 x} - 2 \cdot x^{\log_2 x} = 32$

$2 \cdot x^{\log_2 x} = 32$

$x^{\log_2 x} = 16$

$\log_2\left(x^{\log_2 x}\right) = \log_2 16$

$\log_2^2 x = 4$

1) $\log_2 x = -2$, $x_1 = \frac{1}{4}$ подходит

2) $\log_2 x = 2$, $x_2 = 4$ подходит

Ответ: $\frac{1}{4}$; 4

№ 4

$\begin{cases} 3^3 \cdot 3^x = 81 \\ \log_3(x-3)^2 - \log_3 x = 2\log_3 3 \end{cases}$ $\begin{cases} 3^{3+x} = 3^4 \\ \log_3 \frac{(x-3)^2}{x} = \log_3 9 \end{cases}$ $\begin{cases} 3 + x = 4 \\ (x-3)^2 = 9x \end{cases}$

$\begin{cases} y = 4 - x \\ (x-3)^2 = 9x \end{cases}$ $\begin{cases} y = 4 - x \\ x^2 - 17x + 16 = 0 \end{cases}$ $\begin{cases} y_1 = 2 \quad y_2 = -12 \\ x_1 = 1, \ x_2 = 16 \end{cases}$

Ответ: $(1; 2)$, $(16; -12)$

51

Логарифмические неравенства

1) $\log_a x \geq \log_a y \iff \begin{cases} x \geq y, & \text{при } a > 1 \\ x \leq y, & \text{при } 0 < a < 1 \end{cases}$

2) $\log_a x \leq \log_a y \iff \begin{cases} x \leq y, & \text{при } a > 1 \\ x \geq y, & \text{при } 0 < a < 1 \end{cases}$

Частные случаи

1) $a^x \leq b \iff \begin{cases} x \leq \log_a b, & \text{при } a > 1 \\ x \geq \log_a b, & \text{при } 0 < a < 1 \end{cases}$

2) $\log_a x \leq b \iff \begin{cases} x \leq a^b, & \text{при } a > 1 \\ x \geq a^b, & \text{при } 0 < a < 1 \end{cases}$

Показательные неравенства

1) $a^x > a^y \iff \begin{cases} x > y, & \text{при } a > 1 \\ x < y, & \text{при } 0 < a < 1 \end{cases}$

2) $a^x < a^y \iff \begin{cases} x < y, & \text{при } a > 1 \\ x > y, & \text{при } 0 < a < 1 \end{cases}$

Частные случаи 3) $\log_a b > 0 \iff \begin{cases} b > 1, & \text{при } a > 1 \\ 0 < b < 1, & \text{при } 0 < a < 1 \end{cases}$

4) $\log_a b < 0 \iff \begin{cases} b < 1, & \text{при } a > 1 \\ b > 1, & \text{при } 0 < a < 1 \end{cases}$

Пример

$7^{2x} + 49 \cdot 25^{x-1} < 2{,}96 \cdot 35^x$ | $x \in (-\infty; \infty)$

$7^{2x} + \frac{49}{25} \cdot 5^{2x} < 2{,}96 \cdot 7^x \cdot 5^x \quad / 5^{2x}$ разд.

$\left(\frac{7}{5}\right)^{2x} - 2{,}96 \cdot \left(\frac{7}{5}\right)^x + \frac{49}{25} < 0$

Зам. $\left(\frac{7}{5}\right)^x = y > 0$

$25y^2 - 74y + 49 < 0$

$y_{1,2} = \frac{37 \pm \sqrt{12}}{25}$

$y_1 = 1, \quad y_2 = \frac{49}{25}$

$1 < y < \frac{49}{25}$

$\begin{cases} y > 1 \\ y < \frac{49}{25} \end{cases} \begin{cases} \left(\frac{7}{5}\right)^x > 1 \\ \left(\frac{7}{5}\right)^x < \left(\frac{7}{5}\right)^2 \end{cases} \begin{cases} x > 0 \\ x < 2 \end{cases}$

$x \in (0; 2)$

Ответ: $x \in (0; 2)$

Пример

$2 \cdot 3^{x+3} < 9 + 3^{x-1}$

$162 \cdot 3^{x-1} < 9 + 3^{x-1}$

$161 \cdot 3^{x-1} < 9$

$3^{x-1} < \frac{9}{161}$

$x - 1 < \log_3 \frac{9}{161}$

$x < 1 + \log_3 \frac{9}{161}$

Пример

$4 \cdot 6^x - 9 \cdot 4^x < 0$

$4 \cdot 6^x < 9 \cdot 4^x \quad / 4^x$ разд.

$\left(\frac{6}{4}\right)^x < \frac{9}{4}$

$\left(\frac{3}{2}\right)^x < \left(\frac{3}{2}\right)^2$

$x < 2$

Ответ: $x \in (-\infty; 2)$

53

№4 $4 \cdot 3^{2x} + 5 \cdot 12^x \geq 3 \cdot 2^{4x+1}$

$4 \cdot 3^{2x} + 5 \cdot 3^x \cdot 4^x \geq 6 \cdot 2^{2x} \quad / 3^{2x}$ рив.

$6 \cdot \left(\frac{4}{3}\right)^{2x} - 5 \cdot \left(\frac{4}{3}\right)^x - 4 \leq 0$

2) $\left(\frac{4}{3}\right)^x = y > 0$

$6y^2 - 5y - 4 \leq 0$

$y_1 = -\frac{1}{2}, \quad y_2 = \frac{4}{3}$

$0 < y \leq 4/3$

$\begin{cases} \left(\frac{4}{3}\right)^x > 0 \\ \left(\frac{4}{3}\right)^x \leq \frac{4}{3} \end{cases} \quad \begin{cases} -\infty < x < \infty \\ x \leq 1 \end{cases}$

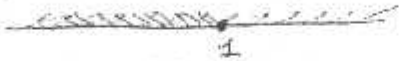

Отв. $x \in (-\infty; 1]$

№5 $\frac{6\log_2 x - 3}{\log_4 x} > \sqrt[3]{0{,}008^{2\log_2 x + 1}}$

$0{,}2^{\frac{6\log_2 x - 3}{\log_4 x}} > 0{,}2^{2\log_2 x - 1}$

$\frac{6\log_4 x - 3}{\log_4 x} < 2\log_4 x - 1$

2) $\log_4 x = y$

$\frac{6y - 3}{y} < 2y - 1$

$\frac{2y^2 - 7y + 3}{y} > 0$

$0 < y < \frac{1}{2}; \quad y > 3$

Д.в. R.

$\begin{cases} x > 0 \\ x \neq 1 \end{cases}$

$x \in (0; 1) \cup (1; \infty)$

$\begin{cases} 0 < \log_4 x < \frac{1}{2} \\ \log_4 x > 3 \end{cases} \quad \begin{cases} 1 < x < 2 \\ x > 64 \end{cases}$

$x \in (1; 2) \cup (64; \infty)$

Отв.

$x \in (1; 2) \cup (64; \infty)$

№6 $\log_{\log_2 \log_2} \log_{x-1} g > 0$

$\log_2 \log_{x-1} g < 1$

$\log_{x-1} g < 2$

1) $\begin{cases} 0 < x-1 < 1 \\ g > (x-1)^2 \end{cases} \quad \begin{cases} 1 < x < 2 \\ x^2 - 2x - 8 < 0 \end{cases}$

$x_1 = -2, \quad x_2 = 4$

$x \in (1; 2)$

2) $\begin{cases} x-1 > 1 \\ g < (x-1)^2 \end{cases} \quad \begin{cases} x > 2 \\ x^2 - 2x - 8 > 0 \end{cases}$

$x \in (4; \infty)$

Отв.

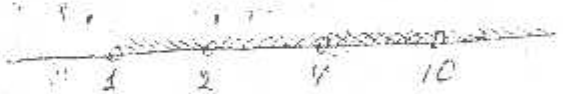

$x \in (4; 10)$

Д.в. $\begin{cases} x-1 > 0 \\ x-1 \neq 1 \\ \log_{x-1} g > 0 \Rightarrow x-1 > 1 \\ \log_2 \log_{x-1} g > 0 \end{cases}$

$\begin{cases} x > 1 \\ 0 < x-1 \neq 1 \\ \log_{x-1} g > 1 \end{cases} \quad \begin{cases} x > 1 \\ x > 2 \\ g > x-1 \end{cases} \quad \begin{cases} x > 2 \\ x < 10 \end{cases}$

$x \in (2; 10)$

ԱԾԱՆՑՅԱԼՆԵՐ

Դիցուք տրված է $y=f(x)$ ֆունկցիան

x_0 -ին տանք աճ — Δx աճ

ֆ-ն կընդունի — $\Delta y=f(x_0+\Delta x)-f(x_0)$ աճ

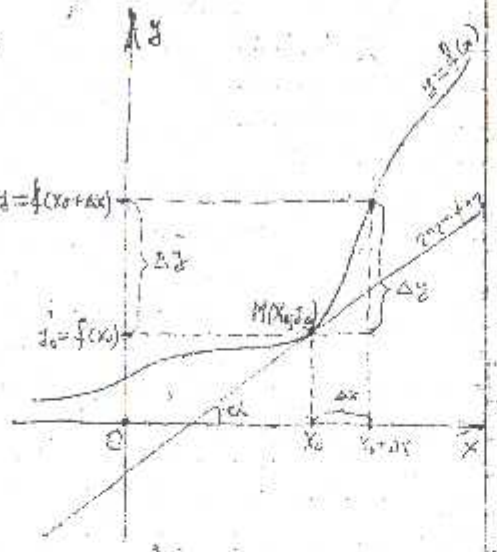

Սահմանում Δx կտրվի $y=f(x)$ ֆունկցիայի որոշման տիրույթի որևէ կետում։ Եթե գոյություն ունի հետևյալ սահմանը՝

$$y'=f'(x)=\lim_{\Delta x\to 0}\frac{\Delta y}{\Delta x}$$

կոչվում է $y=f(x)$ ֆունկցիայի ածանցյալ

$$f'(x)=\lim_{\Delta x\to 0}\frac{f(x+\Delta x)-f(x)}{\Delta x}$$

Ածանցյալի երկրաչափական իմաստը x_0 կետում $y=f(x)$ ֆունկցիայի գրաֆիկին տարված շոշափողի անկյունային գործակիցը հավասար է x_0 կետում ֆունկցիայի ածանցյալին

$$f'(x_0)=\operatorname{tg}\alpha$$

Շոշափողի հավասարումը $y=f(x)$ ֆունկցիայի գրաֆիկին $M(x_0;f(x_0))$ կետում տարված շոշափողի հավասարումը

$$y-y_0=f'(x_0)(x-x_0)$$

Նորմալի հավասարումը $M(x_0;f(x_0))$ կետում գրաֆիկին տարված նորմալի հավասարումը

$$y-y_0=-\frac{1}{f'(x_0)}(x-x_0)$$

Օրինակ Գրել $x_0=2$ կետում $y=x^2$ ֆունկցիայի գրաֆիկին տարված շոշափողի և նորմալի հավասարումները։

Լուծում $y_0=f(x_0)=2^2=4$

$y'=(x^2)'=2x \Rightarrow f'(2)=2\cdot 2=4$

շոշափողի հավասարումը՝ $y-4=4(x-2)$

կամ $y=4x-4$

նորմալի հավասարումը՝ $y-4=-\frac{1}{4}(x-2)$

$(k=\frac{1}{4})$

Ածանցման կանոնները

1) $C'=0$ (հաստատունի ածանցյալը հավասար է 0-ի)

2) $\big(a\cdot f(x)\big)'=a\cdot f'(x)$

3) $\big(f(x)\pm g(x)\big)'=f'(x)\pm g'(x)$

4) $\big(f(x)\cdot g(x)\big)'=f'(x)\cdot g(x)+f(x)\cdot g'(x)$

5) $\left(\frac{f(x)}{g(x)}\right)'=\frac{f'(x)\cdot g(x)-g'(x)\cdot f(x)}{[g(x)]^2}$

$X'=1$

6) **Բարդ ֆունկցիայի ածանցյալը**

$$\big(f(\varphi)\big)'=f'_{\varphi}\cdot\varphi'_x$$

Տարրական ֆունկցիաների ածանցյալները

1) $y=x^m$	$y'=m\cdot x^{m-1}$	$y=\varphi^m$	$y'=m\cdot\varphi^{m-1}\cdot\varphi'$
2) $y=\sqrt{x}$	$y'=\frac{1}{2\sqrt{x}}$	$y=\sqrt{\varphi}$	$y'=\frac{1}{2\sqrt{\varphi}}\cdot\varphi'$
3) $y=\frac{1}{x}$	$y'=-\frac{1}{x^2}$	$y=\frac{1}{\varphi}$	$y'=-\frac{1}{\varphi^2}\cdot\varphi'$
4) $y=a^x$	$y'=a^x\cdot\ln a$	$y=a^{\varphi}$	$y'=a^{\varphi}\cdot\ln a\cdot\varphi'$
$y=e^x$	$(e^x)'=e^x$	$y=e^{\varphi}$	$y'=e^{\varphi}\cdot\varphi'$

Օրինակ $y=2^{\sqrt{1+3x^3}}$

$$y'=2^{\sqrt{1+3x^3}}\cdot\ln 2\cdot\big(\sqrt{1+3x^3}\big)'=$$

$$=2^{\sqrt{1+3x^3}}\cdot\ln 2\cdot\frac{1}{2\sqrt{1+3x^3}}\cdot(1+3x^3)'=$$

$$=2^{\sqrt{1+3x^3}}\cdot\ln 2\cdot\frac{1}{2\sqrt{1+3x^3}}\cdot(0+3\cdot 3x^2)$$

$y = \log_a x \quad y' = \frac{1}{x \cdot \ln a} \qquad y = \log_a \varphi \quad y' = \frac{1}{\varphi \cdot \ln a} \cdot \varphi'$

$y = \ln x \quad y' = \frac{1}{x} \qquad y = \ln \varphi \quad y' = \frac{1}{\varphi} \cdot \varphi'$

11.4 $y = \ln \frac{2x^2 - \frac{1}{3x}}{\sqrt{1+3^{2x^2}}}$ բարդ ֆ-ցիայի ածանցյալը

$$y' = \frac{1}{\frac{2x^2 - \frac{1}{3x}}{\sqrt{1+3^{2x^2}}}} \cdot \frac{(2x^2 - \frac{1}{3x})' \sqrt{1+3^{2x^2}} - (\sqrt{1+3^{2x^2}})' (2x^2 - \frac{1}{3x})}{1+3^{2x^2}} =$$

$$= \frac{\sqrt{1+3^{2x^2}}}{2x^2 - \frac{1}{3x}} \cdot \frac{(4x - \frac{1}{3}(-\frac{1}{x^2}))\sqrt{1+3^{2x^2}} - \frac{3^{2x^2} \ln 3 \cdot 4x}{2\sqrt{1+3^{2x^2}}} (2x^2 - \frac{1}{3x})}{1+3^{2x^2}}$$

$y = \sin x \quad y' = \cos x \qquad y = \sin \varphi \quad y' = \cos \varphi \cdot \varphi'$

$y = \cos x \quad y' = -\sin x \qquad y = \cos \varphi \quad y' = -\sin \varphi \cdot \varphi'$

$y = \operatorname{tg} x \quad y' = \frac{1}{\cos^2 x} \qquad y = \operatorname{tg} \varphi \quad y' = \frac{1}{\cos^2 \varphi} \cdot \varphi'$

$y = \operatorname{ctg} x \quad y' = -\frac{1}{\sin^2 x} \qquad y = \operatorname{ctg} \varphi \quad y' = -\frac{1}{\sin^2 \varphi} \cdot \varphi'$

11.4 $y = \operatorname{ctg}\left(\cos\left(\log_2\left(3^{\sqrt{\operatorname{tg}^3 \frac{1}{x}}}\right)\right)\right)$

$$y' = -\frac{1}{\sin^2\left(\cos\left(\log_2 3^{\sqrt{\operatorname{tg}^3 \frac{1}{x}}}\right)\right)} \cdot \left(-\sin\left(\log_2\left(3^{\sqrt{\operatorname{tg}^3 \frac{1}{x}}}\right)\right)\right) \cdot$$

$$\cdot \frac{1}{3^{\sqrt{\operatorname{tg}^3 \frac{1}{x}}} \cdot \ln 3} \cdot 3^{\sqrt{\operatorname{tg}^3 \frac{1}{x}}} \cdot \ln 3 \cdot \frac{1}{2\sqrt{\operatorname{tg}^3 \frac{1}{x}}} \cdot 3 \operatorname{tg}^2 \frac{1}{x} \cdot \frac{1}{\cos^2 \frac{1}{x}} \cdot \left(\frac{1}{x^2}\\right)$$

(5) $y = \frac{x}{x^2+1} \qquad y' = \frac{x'(x^2+1) - (x^2+1)' x}{(x^2+1)^2} = \frac{x^2+1-2x^2}{(x^2+1)^2} = \frac{1-x^2}{(x^2+1)^2}$

(3) $y = \frac{x \cdot \sin x}{x-3} \qquad y' = \frac{(x \cdot \sin x)' \cdot (x-3) - (x-3)' x \cdot \sin x}{(x-3)^2} =$

$$= \frac{(x' \sin x + \sin x)' x)(x-3) - 1 \cdot x \cdot \sin x}{(x-3)^2} =$$

$$= \frac{(\sin x + x \cos x)(x-3) - x \cdot \sin x}{(x-3)^2} = \frac{x^2 \cos x - 3x \cos x - 3 \sin x}{(x-3)^2}$$

(8) $y = x \sin^3 x + \cos^3 2x$

$y' = x' \cdot \sin^3 x + x(\sin^3 x)' + 3 \cos^2 2x \cdot (\cos 2x)' =$

$= \sin^3 x + 3x \sin^2 x (\sin x)' + 3 \cos^2 2x (-\sin 2x) \cdot (2x)' =$

$= \sin^3 x + 3x \sin^2 x \cdot \cos x - 3 \cos^2 2x \cdot \sin 2x \cdot 2$

(7) $x_0 = 2$ կետում տարված $y = x^2$ ֆունկցիայի շոշափողի անկյունային գործակիցը:

$y' = 2x \qquad y'(x_0) = 2 \cdot 2 = 4$

(6) $f(x) = \frac{x-2}{\cos x}$ հաշվել $f'(0)$

$f'(x) = \frac{(x-2)' \cdot \cos x - (\cos x)'(x-2)}{\cos^2 x} = \frac{\cos x + \sin x \cdot (x-2)}{\cos^2 x}$

$f'(0) = \frac{\cos 0 + \sin 0 \cdot (0-2)}{\cos^2 0} = \frac{1+0}{1} = 1$

Շոշափողի հավասարում

Գր-41 $f(x)=2\cdot(1+x^2)^{-1}$, $x_0=-1$

Լուծում Շոշափողի հավասարումն է՝ $y-y_0=f'(x_0)(x-x_0)$ $\left(k=f'(x_0)\right)$

$y_0=f(x_0)=2\cdot(1+(-1)^2)^{-1}=2\cdot2^{-1}=2\cdot\frac{1}{2}=1$, $y_0=1$

$y'=f'(x)=\left(\frac{2}{1+x^2}\right)'=2\cdot\left(\frac{1}{1+x^2}\right)'=2\cdot\left(-\frac{1}{(1+x^2)^2}\cdot 2x\right)=-\frac{4x}{(1+x^2)^2}$

$f'(x_0)=f'(-1)=-\frac{4\cdot(-1)}{(1+(-1)^2)^2}=\frac{4}{(1+1)^2}=\frac{4}{4}=1$, $f'(-1)=1$

Շոշափող՝ $y-1=1\cdot(x-(-1))$ կամ $\boxed{y=x+2}$ $(y=kx+b)$

Գր 56 $y=\operatorname{tg}2x$, $y=2x$ $(k=2)$

Լուծում $y'=\frac{1}{\cos^2 2x}\cdot(2x)'=\frac{2}{\cos^2 2x}$.

Շոշափողի անկյունային գործակից $y'(x)=2$ $\left(k=\operatorname{tg}\alpha=y'(x)\right)\Rightarrow$

$\Rightarrow\frac{2}{\cos^2 2x}=2\Rightarrow\cos^2 2x=1\Rightarrow\cos 2x=\pm 1$

ա) $\cos 2x=-1\Rightarrow 2x=\pi+2\pi k\Rightarrow x=\frac{\pi}{2}+\pi k$

բ) $\cos 2x=1\Rightarrow 2x=2\pi k\Rightarrow x=\pi k$

Պատ. $x=\pi k$, $x=\frac{\pi}{2}+\pi k$

Գր 57 $y=\sin 2x$, $\varphi=60^\circ$

Լուծում Շոշափողի անկյունային գործակից $y'(x_0)=\operatorname{tg}60^\circ=\sqrt{3}$

$y'=\cos 2x\cdot(2x)'=2\cos 2x\Rightarrow 2\cos 2x=\sqrt{3}\Rightarrow\cos 2x=\frac{\sqrt{3}}{2}$

$2x=\pm\arccos\frac{\sqrt{3}}{2}+2\pi k=\pm\frac{\pi}{6}+2\pi k$

$x_0=\pm\frac{\pi}{12}+\pi k$ Պատ. $x_0=\pm\frac{\pi}{12}+\pi k$

Գր 25

$f(x)=3x^2-5x$

$A(3;5)$ $f(x)$-ի

գրաֆիկի

կետով

Լուծում

Շոշափողի՝ $y-y_0=f'(x_0)(x-x_0)$

$A\in$ շոշափող $\Rightarrow y_0-5=f'(x_0)(3-x_0)$

$y_0=f(x_0)=3x_0^2-5x_0$

$f(x)=6x-5\Rightarrow f'(x_0)=6x_0-5$

$3x_0^2-5x_0-5=(6x_0-5)(3-x_0)$

$3x_0^2-18x_0+27=0$

$x_0^2-6x_0+9=0$

ա) $x_0=3\Rightarrow y_0=3x_0^2-5x_0=27-15=12$ $B(3;12)$, $f'(3)=13$

բ) $x_0=1\Rightarrow y_0=3x_0^2-5x_0=3-5=-2$ $B'(1;-2)$, $f'(1)=1$

Նշանակում է, որ A կետից $f(x)=3x^2-5x$ ֆունկցիայի գրաֆիկին տարված

կա երկու շոշափող և դրանց հավասարումները՝

ա) $y-12=7(x-3)$ կամ $y=7x-9$

բ) $y+2=1(x-1)$ կամ $y=x-3$

Պատ. $y=7x-9$

$y=x-3$



Trigonometrische Funktionen

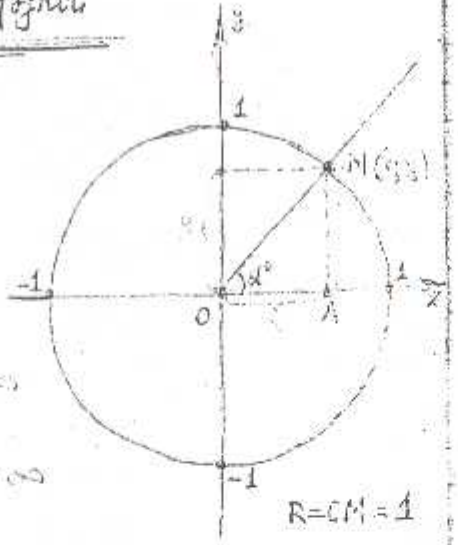

R = OM = 1

Definition

$\sin\alpha^\circ = \frac{y}{R} = y \qquad -1 \le \sin\alpha \le 1$

$\cos\alpha^\circ = \frac{x}{R} = x \qquad -1 \le \cos\alpha \le 1$

$\operatorname{tg}\alpha^\circ = \frac{y}{x} = \frac{\sin\alpha^\circ}{\cos\alpha^\circ} \qquad -\infty < \operatorname{tg}\alpha^\circ < +\infty$

$\operatorname{ctg}\alpha^\circ = \frac{x}{y} = \frac{\cos\alpha^\circ}{\sin\alpha^\circ} \qquad -\infty < \operatorname{ctg}\alpha^\circ < +\infty$

Znaki funkcji trygonometrycznych

Zależności

1) $\operatorname{tg}\alpha^\circ = \frac{1}{\operatorname{ctg}\alpha^\circ}, \quad \operatorname{ctg}\alpha^\circ = \frac{1}{\operatorname{tg}\alpha^\circ}$; ① $\boxed{\operatorname{tg}\alpha^\circ \cdot \operatorname{ctg}\alpha^\circ = 1}$

2) $\sin^2\alpha + \cos^2\alpha = y^2 + x^2 = OM^2 = R^2 = 1^2 = 1$

① $\boxed{\sin^2\alpha^\circ + \cos^2\alpha^\circ = 1} \Rightarrow \boxed{\begin{array}{l}\sin^2\alpha = 1 - \cos^2\alpha \\ \cos^2\alpha = 1 - \sin^2\alpha\end{array}}$

Okresowość: Jeżeli α° różni się od β° o całkowitą wielokrotność 360°, to wartości funkcji trygonometrycznych kąta α° są równe wartościom funkcji trygonometrycznych kąta β°.

$\sin(\alpha^\circ \pm 360^\circ) = \sin\alpha^\circ \qquad \cos(\alpha^\circ \pm 360^\circ) = \cos\alpha^\circ$

$\operatorname{tg}(\alpha^\circ \pm 360^\circ) = \operatorname{tg}\alpha^\circ \qquad \operatorname{ctg}(\alpha^\circ \pm 360^\circ) = \operatorname{ctg}\alpha^\circ$

Jeżeli przystające kąty różnią się o α° i β° o całkowitą wielokrotność 180° ($n = 0, \pm 1, \pm 2, \ldots$), to wartości funkcji trygonometrycznych są takie same.

$\sin(\alpha^\circ \pm 360^\circ n) = \sin\alpha^\circ \qquad \cos(\alpha^\circ \pm 360^\circ n) = \cos\alpha^\circ$

$\operatorname{tg}(\alpha^\circ \pm 360^\circ n) = \operatorname{tg}\alpha^\circ \qquad \operatorname{ctg}(\alpha^\circ \pm 360^\circ n) = \operatorname{ctg}\alpha^\circ$

Znaki funkcji trygonometrycznych

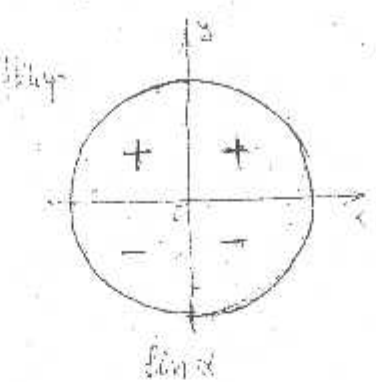

$\sin\alpha$

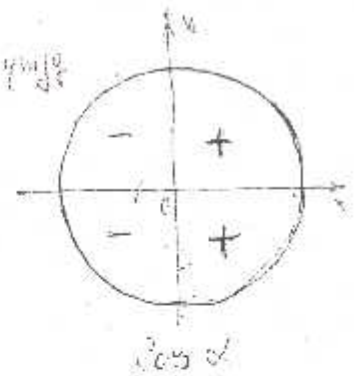

$\cos\alpha$

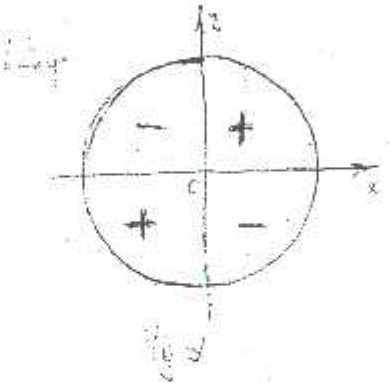

$\operatorname{tg}\alpha$

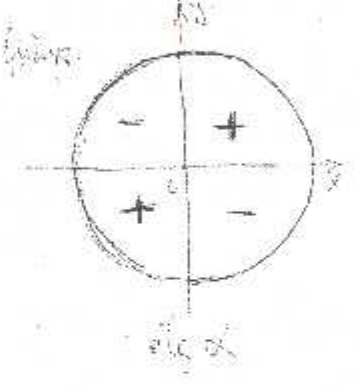

$\operatorname{ctg}\alpha$

Wykresy funkcji trygonometrycznych

Definicja: Miarą łukową kąta środkowego okręgu o promieniu 1 nazywamy długość łuku, na którym ten kąt środkowy jest oparty.

$|\overset{\frown}{AB}| = R \qquad (R = OA = OB)$

Definicja: $\boxed{1 \text{ radian} = \frac{180^\circ}{\pi}}$ $\boxed{1^\circ = \frac{\pi}{180^\circ} \text{ rad}}$

Przykłady: $30^\circ = \frac{\pi}{6}$; $45^\circ = \frac{\pi}{4}$; $60^\circ = \frac{\pi}{3}$; $90^\circ = \frac{\pi}{2}$; $120^\circ = \frac{2\pi}{3}$; $135^\circ = \frac{3\pi}{4}$; $150^\circ = \frac{5\pi}{6}$; $180^\circ = \pi$; $210^\circ = \frac{7\pi}{6}$; $225^\circ = \frac{5\pi}{4}$; $240^\circ = \frac{4\pi}{3}$; $270^\circ = \frac{3\pi}{2}$; $300^\circ = \frac{5\pi}{3}$; $315^\circ = \frac{7\pi}{4}$; $360^\circ = 2\pi$

Wykresy funkcji trygonometrycznych

$y = \sin x$, $D = \mathbb{R}$, $ZW = \langle -1; 1 \rangle$

$y = \cos x$, $D = \mathbb{R}$, $ZW = \langle -1; 1 \rangle$

$y = \operatorname{tg} x$, $D = \mathbb{R} \setminus \{\frac{\pi}{2} + k\pi : k \in \mathbb{Z}\}$, $ZW = \mathbb{R}$

$y = \operatorname{ctg} x$, $D = \mathbb{R} \setminus \{k\pi : k \in \mathbb{Z}\}$, $ZW = \mathbb{R}$

Աղյուսակ

α	0°	30°	45°	60°	90°	120°	135°	150°	180°
$\sin\alpha$	0	$\frac{1}{2}$	$\frac{\sqrt{2}}{2}$	$\frac{\sqrt{3}}{2}$	1	$\frac{\sqrt{3}}{2}$	$\frac{\sqrt{2}}{2}$	$\frac{1}{2}$	0
$\cos\alpha$	1	$\frac{\sqrt{3}}{2}$	$\frac{\sqrt{2}}{2}$	$\frac{1}{2}$	0	$-\frac{1}{2}$	$-\frac{\sqrt{2}}{2}$	$-\frac{\sqrt{3}}{2}$	-1
$\operatorname{tg}\alpha$	0	$\frac{\sqrt{3}}{3}$	1	$\sqrt{3}$	$\nexists$	$-\sqrt{3}$	-1	$-\frac{\sqrt{3}}{3}$	0
$\operatorname{ctg}\alpha$	$\nexists$	$\sqrt{3}$	1	$\frac{\sqrt{3}}{3}$	0	$-\frac{\sqrt{3}}{3}$	-1	$-\sqrt{3}$	$\nexists$

$-\alpha$	0°	-30°	-45°	-60°	-90°	-120°	-135°	-150°	-180°

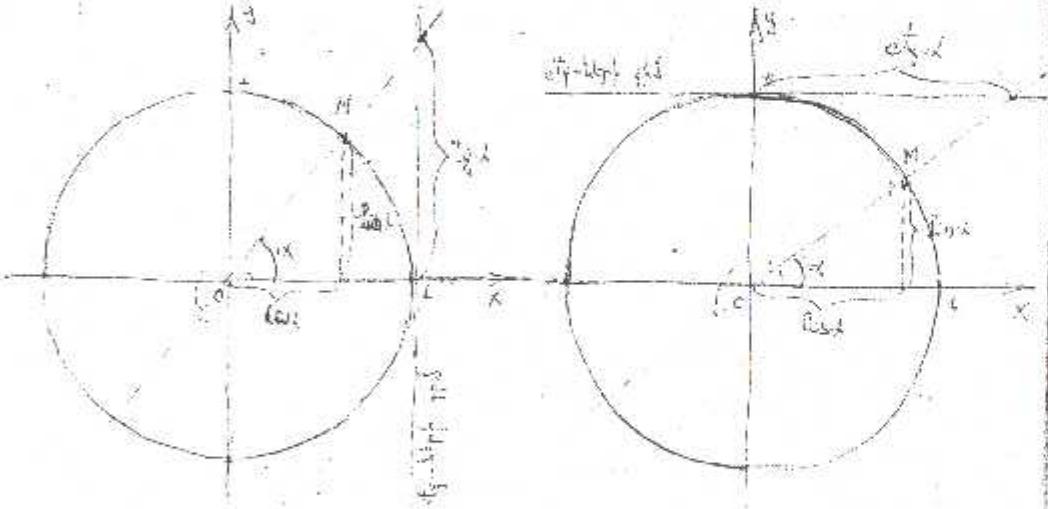

Սահմանում. $y=f(x)$ ֆունկցիան կոչվում է պարբերական, եթե $\exists\ T\neq 0$ թիվ, որի համար $f(x+T)=f(x)$: T-ն կոչվում է պարբերի պարբերություն: Եթե կա ամենափոքր դրական պարբերություն, ապա այն կոչվում է հիմնական պարբերություն ($n=\pm1;\pm2;\dots$)

Նշում. ա) $y=\sin x$ և $y=\cos x$ ֆունկցիաների հիմնական պարբերությունը $T=360^\circ$ կամ $T=2\pi$:

բ) $y=\operatorname{tg}x$ և $y=\operatorname{ctg}x$ ֆունկցիաների հիմնական պարբերությունը $T=180^\circ$ կամ $T=\pi$:

Այսինքն $\sin(x\pm360^\circ)=\sin x$, $\cos(x\pm360^\circ)=\cos x$, $\operatorname{tg}(x\pm\pi)=\operatorname{tg}x$, $\operatorname{ctg}(x\pm180^\circ)=\operatorname{ctg}x$

Բերման բանաձևեր

x	$\frac{\pi}{2}-\alpha$	$\frac{\pi}{2}+\alpha$	$\pi-\alpha$	$\pi+\alpha$	$\frac{3\pi}{2}-\alpha$	$\frac{3\pi}{2}+\alpha$	$2\pi-\alpha$
$\sin x$	$\cos\alpha$	$\cos\alpha$	$\sin\alpha$	$-\sin\alpha$	$-\cos\alpha$	$-\cos\alpha$	$-\sin\alpha$
$\cos x$	$\sin\alpha$	$-\sin\alpha$	$-\cos\alpha$	$-\cos\alpha$	$-\sin\alpha$	$\sin\alpha$	$\cos\alpha$
$\operatorname{tg}x$	$\operatorname{ctg}\alpha$	$-\operatorname{ctg}\alpha$	$-\operatorname{tg}\alpha$	$\operatorname{tg}\alpha$	$\operatorname{ctg}\alpha$	$-\operatorname{ctg}\alpha$	$-\operatorname{tg}\alpha$
$\operatorname{ctg}x$	$\operatorname{tg}\alpha$	$-\operatorname{tg}\alpha$	$-\operatorname{ctg}\alpha$	$\operatorname{ctg}\alpha$	$\operatorname{tg}\alpha$	$-\operatorname{tg}\alpha$	$-\operatorname{ctg}\alpha$

X	$\frac{\pi}{2}-\alpha$	$\frac{\pi}{2}+\alpha$	$\pi-\alpha$	$\pi+\alpha$	$\frac{3\pi}{2}-\alpha$	$\frac{3\pi}{2}+\alpha$	$2\pi-\alpha$
$\sin X$	$\cos\alpha$	$\cos\alpha$	$-\sin\alpha$	$-\sin\alpha$	$-\cos\alpha$	$-\cos\alpha$	$\sin\alpha$
$\cos X$	$-\sin\alpha$	$\sin\alpha$	$\sin\alpha$	$-\sin\alpha$	$-\sin\alpha$	$\sin\alpha$	$\cos\alpha$
$\operatorname{tg}X$	$-\operatorname{ctg}\alpha$	$\operatorname{ctg}\alpha$	$-\operatorname{tg}\alpha$	$\operatorname{tg}\alpha$	$\operatorname{ctg}\alpha$	$-\operatorname{ctg}\alpha$	$-\operatorname{tg}\alpha$
$\operatorname{ctg}X$	$-\operatorname{tg}\alpha$	$\operatorname{tg}\alpha$	$-\operatorname{ctg}\alpha$	$\operatorname{ctg}\alpha$	$\operatorname{tg}\alpha$	$-\operatorname{tg}\alpha$	$-\operatorname{ctg}\alpha$

Հիմնական նույնություններ

(4) $\sin\alpha=\pm\sqrt{1-\cos^2\alpha}$, $+$ եթե $\alpha\in I,II$ քառ., $-$ եթե $\alpha\in III,IV$ քառ.

(5) $\cos\alpha=\pm\sqrt{1-\sin^2\alpha}$, $+$ եթե $\alpha\in I,IV$ քառ., $-$ եթե $\alpha\in II,III$ քառ.

(6) $1+\operatorname{tg}^2\alpha=\frac{1}{\cos^2\alpha}$ (7) $1+\operatorname{ctg}^2\alpha=\frac{1}{\sin^2\alpha}$

(8) $\sin(\alpha+\beta)=\sin\alpha\cdot\cos\beta+\cos\alpha\cdot\sin\beta$

(9) $\sin(\alpha-\beta)=\sin\alpha\cdot\cos\beta-\cos\alpha\cdot\sin\beta$

(10) $\cos(\alpha+\beta)=\cos\alpha\cdot\cos\beta-\sin\alpha\cdot\sin\beta$

(11) $\cos(\alpha-\beta)=\cos\alpha\cdot\cos\beta+\sin\alpha\cdot\sin\beta$

(12) $\operatorname{tg}(\alpha+\beta)=\frac{\operatorname{tg}\alpha+\operatorname{tg}\beta}{1-\operatorname{tg}\alpha\cdot\operatorname{tg}\beta}$ (13) $\operatorname{tg}(\alpha-\beta)=\frac{\operatorname{tg}\alpha-\operatorname{tg}\beta}{1+\operatorname{tg}\alpha\cdot\operatorname{tg}\beta}$

arcsin x, arccos x, arctg x, arcctg x

1) Սահմանում՝ $\arcsin x$-ը կոչվում է այն անկյունը, որի $[-\frac{\pi}{2}; \frac{\pi}{2}]$ հատվածից, որի սինուսը հավասար է x-ի։

$$\sin\alpha = x$$

Օրինակ՝ $\arcsin\frac{1}{2} = 30°$, որովհետև $30° \in [-90°; 90°]$

$\arcsin\left(-\frac{\sqrt{3}}{2}\right) = -60°$, որովհետև $-60° \in [-90°; 90°]$

$\arcsin\left(-\frac{\sqrt{2}}{2}\right) = -\frac{\pi}{4}$, որովհետև $-\frac{\pi}{4} \in [-\frac{\pi}{2}; \frac{\pi}{2}]$

$\arcsin 1 = \frac{\pi}{2}$

2) Սահմանում՝ $\arccos x$-ը կոչվում է այն α անկյունը, որի $[0, \pi]$ հատվածից, որի կոսինուսը հավասար է x-ի։

$$\cos\alpha = x$$

Օրինակ՝ $\arccos\left(-\frac{\sqrt{2}}{2}\right) = 135°$, որովհետև $135° \in [0; 180°]$

$\arccos 0 = \frac{\pi}{2}$, $\arccos 1 = 0°$, $\arccos\frac{\sqrt{3}}{2} = 30°$;

3) Սահմանում՝ $\operatorname{arctg} x$-ը կոչվում է այն α անկյունը, որի $[-\frac{\pi}{2}; \frac{\pi}{2}]$ հատվածից, որի տանգենսը հավասար է x-ի։

$$\operatorname{tg}\alpha = x$$

($\operatorname{arctg}(-x) = -\operatorname{arctg} x$ կենտ)

Օրինակ՝ $\operatorname{arctg}(-1) = -\frac{\pi}{4}$, $\operatorname{arctg}\sqrt{3} = 60°$,

$\operatorname{arctg} 0 = 0$, $\operatorname{arctg}(+\infty) = 90°$, $\operatorname{arctg}(-\infty) = -90°$;

4) Սահմանում՝ $\operatorname{arcctg} x$-ը կոչվում է այն α անկյունը, որի $[0; \pi]$ հատվածից, որի կոտանգենսը հավասար է x-ի։

$$\operatorname{ctg}\alpha = x$$

Օրինակ՝ $\operatorname{arcctg} 1 = \frac{\pi}{4}$, $\operatorname{arcctg}\left(-\frac{1}{\sqrt{3}}\right) = 120°$

$\operatorname{arcctg} 0 = \frac{\pi}{2}$, $\operatorname{arcctg}(+\infty) = 0°$, $\operatorname{arcctg}(-\infty) = \pi$

Եռանկյան կիսանկյան բանաձևերը

14. $\sin 2\alpha = 2\sin\alpha\cdot\cos\alpha$ կամ $\sin\alpha = 2\sin\frac{\alpha}{2}\cdot\cos\frac{\alpha}{2}$

15. $\cos 2\alpha = \cos^2\alpha - \sin^2\alpha$ կամ $\cos\alpha = \cos^2\frac{\alpha}{2} - \sin^2\frac{\alpha}{2}$

16. $\operatorname{tg} 2\alpha = \frac{2\operatorname{tg}\alpha}{1-\operatorname{tg}^2\alpha}$ կամ $\operatorname{tg}\alpha = \frac{2\operatorname{tg}\frac{\alpha}{2}}{1-\operatorname{tg}^2\frac{\alpha}{2}}$

17. $\sin^2\alpha = \frac{1-\cos 2\alpha}{2}$ կամ $2\sin^2\alpha = 1-\cos 2\alpha$; $\sin^2\frac{\alpha}{2} = \frac{1-\cos\alpha}{2}$

18. $\cos^2\alpha = \frac{1+\cos 2\alpha}{2}$ կամ $2\cos^2\alpha = 1+\cos 2\alpha$; $2\cos^2\frac{\alpha}{2} = 1+\cos\alpha$

19. $\cos\alpha = \frac{1-\operatorname{tg}^2\frac{\alpha}{2}}{1+\operatorname{tg}^2\frac{\alpha}{2}}$

20. $\sin\alpha = \frac{2\operatorname{tg}\frac{\alpha}{2}}{1+\operatorname{tg}^2\frac{\alpha}{2}}$

21. $\sin\alpha - \sin\beta = 2\sin\frac{\alpha+\beta}{2}\cdot\cos\frac{\alpha-\beta}{2}$

22. $\sin\alpha - \sin\beta = 2\sin\frac{\alpha-\beta}{2}\cdot\cos\frac{\alpha+\beta}{2}$

23. $\cos\alpha + \cos\beta = 2\cos\frac{\alpha+\beta}{2}\cdot\cos\frac{\alpha-\beta}{2}$

24. $\cos\alpha - \cos\beta = -2\sin\frac{\alpha+\beta}{2}\cdot\sin\frac{\alpha-\beta}{2} = 2\sin\frac{\alpha+\beta}{2}\cdot\sin\frac{\beta-\alpha}{2}$

25. $\sin\alpha + \cos\alpha = \sqrt{2}\cos\left(\alpha-\frac{\pi}{4}\right) = \sqrt{2}\sin\left(\frac{\pi}{4}+\alpha\right)$

26. $\sin\alpha - \cos\alpha = \sqrt{2}\sin\left(\alpha-\frac{\pi}{4}\right) = -\sqrt{2}\cos\left(\alpha+\frac{\pi}{4}\right)$

27. $\sin\alpha\cdot\cos\beta = \frac{1}{2}\left[\sin(\alpha+\beta) + \sin(\alpha-\beta)\right]$

28. $\cos\alpha\cdot\cos\beta = \frac{1}{2}\left[\cos(\alpha+\beta) + \cos(\alpha-\beta)\right]$

29. $\sin\alpha\cdot\sin\beta = \frac{1}{2}\left[\cos(\alpha-\beta) - \cos(\alpha+\beta)\right]$

Եռանկյունաչափական հավասարումներ և անհավասարումներ

1°. $\sin x = a$, $-1 \le a \le 1$ — $\boxed{x = (-1)^k \arcsin a + \pi k}$ $k = 0; \pm 1; \pm 2; \dots$

2°. $\cos x = a$, $-1 \le a \le 1$ — $\boxed{x = \pm \arccos a + 2\pi k}$ $k = 0; \pm 1; \pm 2; \dots$

3°. $\operatorname{tg} x = a$ — $\boxed{x = \operatorname{arctg} a + \pi k}$ $k = 0; \pm 1; \pm 2; \dots$

4°. $\operatorname{ctg} x = a$ — $\boxed{x = \operatorname{arcctg} a + \pi k}$ $k = 0; \pm 1; \pm 2; \dots$

Մեկնաբանություն — Մասնավոր դեպքեր (անփոր)

$\sin x = 0 \Rightarrow x = \pi k$ $\quad \sin x = 1 \Rightarrow x = \frac{\pi}{2} + 2\pi k$

$\cos x = 0 \Rightarrow x = \frac{\pi}{2} + k\pi$ $\quad \cos x = 1 \Rightarrow x = 2\pi k$

$\operatorname{tg} x = 0 \Rightarrow x = \pi k$ $\quad \sin x = -1 \Rightarrow x = -\frac{\pi}{2} + 2\pi k$

$\operatorname{ctg} x = 0 \Rightarrow x = \frac{\pi}{2} + \pi k$ $\quad \cos x = -1 \Rightarrow x = \pi + 2\pi k$

Օրինակ $\sin x = -\frac{\sqrt{3}}{2}$ $\quad x = (-1)^k \arcsin\left(-\frac{\sqrt{3}}{2}\right) + \pi k = (-1)^k \left(-\frac{\pi}{3}\right) + \pi k =$
$= (-1)^{k+1} \frac{\pi}{3} + \pi k$

Օրինակ $\operatorname{tg} x = -1$ $\quad x = \operatorname{arctg}(-1) + \pi k = -\frac{\pi}{4} + \pi k$

Օրինակ $\cos x = \frac{\sqrt{2}}{2}$ $\quad x = \pm \arccos \frac{\sqrt{2}}{2} + 2\pi k = \pm \frac{\pi}{4} + 2\pi k$

Օրինակ $\operatorname{ctg} x = -\sqrt{3}$ $\quad x = \operatorname{arcctg}(-\sqrt{3}) + \pi k = -30^\circ + 180^\circ k$

(1) Համասեռ հավասարումներ

1°. $a \sin x + b \cos x = 0$ $\quad a \neq 0,\ b \neq 0$

Դարձ ենք, որ $\cos x \neq 0$, հակառակ դեպքում $\sin x = 0$ և հետևաբար $a = 0$ որը հնարավոր չէ $\Rightarrow$ հավասարման երկու մասը կարող ենք բաժանել $\cos x$-ի վրա

$\frac{a \sin x + b \cos x}{\cos x} = 0$ կամ $a \cdot \operatorname{tg} x + b = 0$

$\operatorname{tg} x = -\frac{b}{a} \Rightarrow \boxed{x = \operatorname{arctg}\left(-\frac{b}{a}\right) + \pi k}$ $k \in \mathbb{Z}$

1°. $3 \cos^4 x + 5 \sin^4 x = 3$ համասեռ է

ա) $\cos x \neq 0$, $x \neq \frac{\pi}{2} + \pi k$

բ) 2 կողմը բաժանենք $\cos^4 x$-ի վրա ($\cos x \neq 0$)

$3 + 5 \operatorname{tg}^4 x = \frac{3}{\cos^4 x}$

$3 + 5 \operatorname{tg}^4 x = 3(1 + \operatorname{tg}^2 x)^2$

$2 \operatorname{tg}^4 x - 6 \operatorname{tg}^2 x = 0$

$2 \operatorname{tg}^2 x (\operatorname{tg}^2 x - 3) = 0$

1) $\operatorname{tg} x = 0 \Rightarrow x = \pi k$

2) $\operatorname{tg}^2 x - 3 = 0$, $\operatorname{tg} x = \pm \sqrt{3} \Rightarrow$ $x = \frac{\pi}{3} + \pi k$, $x = -\frac{\pi}{3} + \pi k$

Պատ. $x = \pi k$, $x = \frac{\pi}{3} + \pi k$, $x = -\frac{\pi}{3} + \pi k$

3°. $3\sin x\cdot\cos x - 3\cos^2 x = \cos 2x$

I եղանակ

$3\sin x\cdot\cos x - 3\cos^2 x = 2\cos^2 x - 1$

$3\sin x\cdot\cos x - 5\cos^2 x = -1$ (համասեռ)

$\cos x \neq 0$, հակառակ դեպքում հիմնական եռանկ. նույնության $0=1$

$\Rightarrow$ կ-րդ աստ. բազմապատկենք $\cos^2 x + \sin^2 x$ գումարով:

$3\operatorname{tg} x - 5 = -\frac{1}{\cos^2 x}$

$3\operatorname{tg} x - 5 = -(1+\operatorname{tg}^2 x)$

$\operatorname{tg}^2 x + 3\operatorname{tg} x - 4 = 0$

Նշ. $\operatorname{tg} x = y$

$y^2 + 3y - 4 = 0$

ա) $y_1 = 1 \Rightarrow \operatorname{tg} x = 1 \Rightarrow x = \frac{\pi}{4} + \pi k$

բ) $y_2 = -4 \Rightarrow \operatorname{tg} x = -4 \Rightarrow x = \operatorname{arctg}(-4) + \pi k$

Պատ. $x = \frac{\pi}{4} + \pi k$, $x = -\operatorname{arctg} 4 + \pi k$

II եղանակ

$\frac{3}{2}\sin 2x - \frac{3(1+\cos 2x)}{2} = \cos 2x$

$3\sin 2x - 3 - 3\cos 2x = 2\cos 2x$

$3\sin 2x - 5\cos 2x = 3$

$\frac{3}{\sqrt{3^2+5^2}}\sin 2x - \frac{5}{\sqrt{3^2+5^2}}\cos 2x = \frac{3}{\sqrt{34}}$

$\frac{3}{\sqrt{34}}\sin 2x - \frac{5}{\sqrt{34}}\cos 2x = \frac{3}{\sqrt{34}}$

$\sin\alpha\cdot\sin 2x - \cos\alpha\cdot\cos 2x = -\frac{3}{\sqrt{34}}$

$-\cos(2x+\alpha) = \frac{3}{\sqrt{34}}$

$\cos(2x+\alpha) = -\frac{3}{\sqrt{34}}$, որտեղից

$\alpha = \operatorname{arccos}\frac{5}{\sqrt{34}}$

$2x+\alpha = \pm\operatorname{arccos}\left(-\frac{3}{\sqrt{34}}\right) + 2\pi k$

$x = -\frac{\alpha}{2} \pm \frac{1}{2}\operatorname{arccos}\left(-\frac{3}{\sqrt{34}}\right) + \pi k$

Պատ. $x = -\frac{1}{2}\operatorname{arccos}\frac{5}{\sqrt{34}} \pm \frac{1}{2}\operatorname{arccos}\frac{3}{\sqrt{34}} + \pi k$

II Օժանդակ անկյան մեթոդ

$a\sin x + b\cos x = c \quad a\neq 0,\ b\neq 0,\ c\neq 0$

Նշանակենք $\sqrt{a^2+b^2}$-ով կրճատելիս ստացվող կոտորակները $\cos\alpha$ և $\sin\alpha$-ով:

$\frac{a}{\sqrt{a^2+b^2}}\sin x + \frac{b}{\sqrt{a^2+b^2}}\cos x = \frac{c}{\sqrt{a^2+b^2}}$

$\sin\alpha\cdot\sin x + \cos\alpha\cdot\cos x = c_1$

$\cos(x-\alpha) = c_1$

$x-\alpha = \pm\arccos c_1 + 2\pi k$

$x = \alpha \pm \arccos c_1 + 2\pi k$

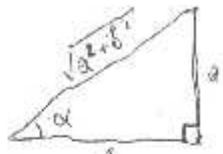

$\alpha = \arcsin\frac{a}{\sqrt{a^2+b^2}}$

կամ $\alpha = \arccos\frac{b}{\sqrt{a^2+b^2}}$

Պատ. $\left[x = \arccos\frac{b}{\sqrt{a^2+b^2}} \pm \arccos c_1 + 2\pi k\right]$

III Միատարր հավասարումներ

$a\sin x + b\cos x = c \quad a\neq 0,\ b\neq 0,\ c\neq 0$

Նշ. $\operatorname{tg}\frac{x}{2} = y$ ($\cos\frac{x}{2}\neq 0$; $\cos\frac{x}{2}=0$ դեպքը ստուգումով ստանում ենք լուծում)

$\sin x = \frac{2\operatorname{tg}\frac{x}{2}}{1+\operatorname{tg}^2\frac{x}{2}}$, $\cos x = \frac{1-\operatorname{tg}^2\frac{x}{2}}{1+\operatorname{tg}^2\frac{x}{2}}$ $\Rightarrow$

$\Rightarrow \frac{2ay}{1+y^2} + \frac{b(1-y^2)}{1+y^2} = c \Rightarrow 2ay - b + by^2 = c + cy^2$ կամ

$(b+c)y^2 - 2ay + (c-b) = 0$ քառակուսային հավասարում:

Օրինակ $3\sin 2x - 5\cos 2x = 3$ դարձնել համասեռ ստուգելով որ $\cos x \neq 0$

Նշ. $\operatorname{tg} x = y \Rightarrow \sin 2x = \frac{2y}{1+y^2}$, $\cos 2x = \frac{1-y^2}{1+y^2}$

$\frac{6y}{1+y^2} - \frac{5(1-y^2)}{1+y^2} = 3$

$y^2 + 3y - 4 = 0$

$y_1 = -4$ ա) $\operatorname{tg} x = -4$ $x = \operatorname{arctg}(-4) + \pi k$

$y_2 = 1$ բ) $\operatorname{tg} x = 1$ $x = \operatorname{arctg} 1 + \pi k = \frac{\pi}{4} + \pi k$

Պատ. $x = \frac{\pi}{4} + \pi k$, $x = \operatorname{arctg}(-4) + \pi k$

II Օժանդակ անկյան մեթոդ

$\sqrt{3}\cos x + \sin x = 2\cos 3x$ / 2-ի բազմապատկենք

$\frac{\sqrt{3}}{2}\cos x + \frac{1}{2}\sin x = \cos 3x$

$\cos\frac{\pi}{6}\cos x + \sin\frac{\pi}{6}\sin x = \cos 3x$

$\cos\left(x-\frac{\pi}{6}\right) = \cos 3x$

$\cos\left(x-\frac{\pi}{6}\right) - \cos 3x = 0$

$2\sin\left(2x-\frac{\pi}{12}\right)\cdot\sin\left(x+\frac{\pi}{12}\right) = 0$

ա) $\sin\left(2x-\frac{\pi}{12}\right) = 0$

$2x - \frac{\pi}{12} = \pi k$

$x = \frac{\pi}{24} + \frac{\pi k}{2} = \frac{\pi}{24}(12k+1)$

բ) $\sin\left(x+\frac{\pi}{12}\right) = 0$

$x + \frac{\pi}{12} = \pi k$

$x = \pi k - \frac{\pi}{12}$

Տարբ. օրինակներ

1)) Եռապատիկ էքսպոնենտ հետազոտում

$$\cos^2\frac{x}{2} + \cos^2 x + \cos^2\frac{3}{2}x = \frac{3}{2}$$

$$\frac{1+\cos x}{2} + \frac{1+\cos 2x}{2} + \frac{1+\cos 3x}{2} = \frac{3}{2}$$

$$\cos x + \cos 2x + \cos 3x = 0$$

$$2\cos 2x \cdot \cos x + \cos 2x = 0$$

$$\cos 2x\,(2\cos x + 1) = 0$$

ա) $\cos 2x = 0$

$2x = \frac{\pi}{2} + \pi k$

$x = \frac{\pi}{4} + \frac{\pi k}{2}$

$x = \frac{\pi}{4}(2k+1)$

բ) $2\cos x + 1 = 0$

$\cos x = -\frac{1}{2}$

$x = \pm \arccos\left(-\frac{1}{2}\right) + 2\pi k = \pm\frac{2\pi}{3} + 2\pi k$

$x = \pm\frac{2\pi}{3} + 2\pi k$

ՖՈՒՆԿՑԻԱՅԻ ՀԵՏԱԶՈՏՈՒՄ

I. ՈՐՈՇՄԱՆ ՏԻՐՈՒՅԹ (հիմնախնդիրն է $D(y)$-ում)

ա) $y=f(x)$ ֆունկցիայի որոշման տիրույթ կոչվում է այն x արգումենտների (կամ փոփոխականի) թույլատրելի արժեքների բազմությունը է:

բ) y-ի ընդունած արժեքների բազմությունը, որը կոչվում է $y=f(x)$ ֆունկցիայի արժեքների բազմություն կամ փոփոխման տիրույթ: Նշանակվում է՝ $E(y)$-ով:

Օրինակ Գտնել $y=\frac{\sqrt{3-|x|}}{1+\lg(-x)}$ ֆունկցիայի որոշման տիրույթը:

Լուծում

$$D(y):\begin{cases} -x>0 \\ 3-|x|\geq 0 \\ 1+\lg(-x)\neq 0 \end{cases}\quad\begin{cases} x<0 \\ |x|\leq 3 \\ \lg(-x)\neq -1 \end{cases}\quad\begin{cases} x<0 \\ -3\leq x\leq 3 \\ x\neq -1/10 \end{cases}$$

Պատ.

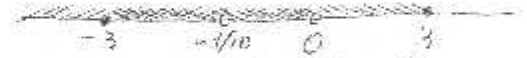

$x\in[-3;-1/10)\cup(-1/10;0)$

II. ԶՈՒՅԳԱՀԱՅՈՒԹՅՈՒՆ, ԿԵՆՏՐԱՀԱՅՈՒԹՅՈՒՆ

ա) $y=f(x)$ ֆունկցիան կոչվում է <u>զույգ</u>, եթե $f(-x)=f(x)$ $\forall x\in D(f)$

բ) $y=f(x)$ ֆունկցիան կոչվում է <u>կենտ</u>, եթե $f(-x)=-f(x)$ $-x\in D(f)$

Գծագրությունը՝ ա) Զույգ ֆունկցիայի գրաֆիկը սիմետրիկ է OY առանցքի նկատմամբ.

բ) Կենտ ֆունկցիայի գրաֆիկը սիմետրիկ է $(0;0)$ կոորդ. սկզբնակետի նկատմամբ:

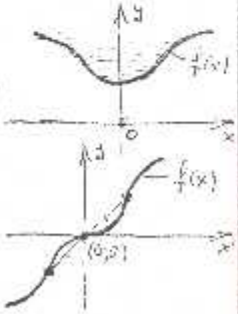

Օրինակ $y=|1+x|-|1-x|$

$f(-x)=|1-x|+|1+x|=-(|1+x|-|1-x|)=-f(x)\Rightarrow$ կենտ է:

Օրինակ

$y=\frac{\sqrt{1+x^2}}{x}-\sin^3 x$

$f(-x)=-\left(\frac{\sqrt{1+x^2}}{x}+\sin^3 x\right)=-f(x)$

կենտ է

$y=\frac{1-x^2}{1+|x|}+|\lg x|$

$f(-x)=\frac{1-x^2}{1+|x|}+|\lg x|=f(x)$

զույգ է

$y=(x+1)\ln(1+|x|)$

$f(-x)=(1-x)\ln(1+|x|)$

ոչ զույգ ոչ կենտ

III. Պարբերական ֆունկցիաներ

$y=f(x)$ ֆունկցիան կոչվում է պարբերական, եթե գոյություն ունի այնպիսի $T\neq 0$ թիվ, որ $\forall x\in D(f)$ $x\pm T\in D(f)$ և

$$f(x+T)=f(x),\quad \forall x,\ x\pm T\in D(f)$$

Այդ T-ն կոչվում է ֆունկցիայի պարբերություն:

Դիտողություն Պարզ է, որ եթե T-ն պարբերություն է, ապա $\pm 2T,\ \pm 3T,\ \pm 4T,\dots$, կամ ընդհանրապես nT $(n=\pm1;\pm2,\dots)$ թվերը նույնպես պարբերություններ:

Օրինակ Գտնել $y=\sin\frac{2}{3}x$ ֆունկցիայի ամենափոքր դրական պարբերությունը:

Լուծում Նկատենք, որ T-ն պարբերություն է $\Rightarrow$ բոլոր ամբողջական.

$$f(x+T)=\sin\tfrac{2}{3}(x+T)=\sin\tfrac{2}{3}x=f(x)$$

Վերջին հավասարությունը պետք է ճշտի ամեն x-ի դեպքում: Մասնավորապես $x=0$, կստանանք՝

$$\sin\tfrac{2}{3}(0+T)=\sin 0=0$$

$$\sin\tfrac{2}{3}T=0 \Rightarrow \tfrac{2}{3}T=\pi k \Rightarrow T=\frac{3\pi k}{2},\quad k=\pm1,\pm2,\pm3,\dots$$

Երբ $k=0 \Rightarrow T=0$ — պարբերություն չի:

Երբ $k=1 \Rightarrow T=\frac{3\pi}{2}$; բայց $\sin\left(\frac{2}{3}\left(x+\frac{3\pi}{2}\right)\right)=\sin\left(\frac{2}{3}x+\pi\right)=-\sin\frac{2}{3}x\neq\sin\frac{2}{3}x$

$\Rightarrow$ $\frac{3\pi}{2}$-ը պարբերություն չի:

Երբ $k=2 \Rightarrow T=3\pi$: $\sin\left(\frac{2}{3}(x\pm3\pi)\right)=\sin\left(\frac{2}{3}x\pm2\pi\right)=\sin\frac{2}{3}x$ $\Rightarrow$ 3π-ն պարբերություն է, բայց պրած ամենափոքրը գտնելու է:

Պատ՝ $T=3\pi$

IV. Կրիտիկական կետեր

$y=f(x)$ ֆունկցիայի որոշման տիրույթի այն կետը, որտեղ $f'(x)=0$, կամ ֆունկցիան չունի վերջավոր ածանց, կոչվում է կրիտիկական կետ: Եթե $f'(x_0)=0$, ապա x_0-ն կոչվում է կրիտիկական կետ:

Ֆերմայի թեորեմ Եթե $y=f(x)$ ֆունկցիան տրված հատվածում ընդունում է ծայրահեղ արժեք, ապա այդ կետերում ածանցյալը հավասար է զրոյի՝ $f'(x)=0$:

Օրինակ Գտնել $f(x)=1+x^2+\frac{1}{1+x^2}$ ֆունկցիայի կրիտիկական կետերը:

Լուծում Որոշման տիրույթը՝ $D(y):\{x\in(-\infty;\infty)\}$

$$f'(x)=2x-\frac{2x}{(1+x^2)^2}=\frac{2x(1+x^2)^2-2x}{(1+x^2)^2}=\frac{2x(x^4+2x^2)}{(1+x^2)^2}=\frac{2x^3(x^2+2)}{(1+x^2)^2}$$

$$f'(x)=\frac{2x^3(x^2+2)}{(1+x^2)^2}$$

Լուծենք $f'(x)=0$ հավասարումը. $\frac{2x^3(x^2+2)}{(1+x^2)^2}=0 \Rightarrow$

$\Rightarrow 2x^3(x^2+2)=0$; $x^2+2\neq0$ $\forall x \Rightarrow x^3=0 \Rightarrow x=0$

$x=0\in D(y)$ Պատ՝ $\boxed{0}$-ն կրիտ. կետ է,

V. Մոնոտոնության միջակայքեր

Հատվածում $y=f(x)$ ֆունկցիան կոչվում է աճող (նվազող), եթե մեծ արժեքին համապատասխանում է մեծ (փոքր) արժեք:

ա) Եթե $f'(x)>0$՝ ֆունկցիան աճող է

բ) Եթե $f'(x)<0$՝ ֆունկցիան նվազող:

Օրինակ Գտնել $y=\sin x-\sqrt{3}\cdot x$ ֆունկցիայի մոնոտոնության միջակայքերը:

Լուծում Որոշման տիրույթը՝ $D(y):\{x\in(-\infty;\infty)\}$

$y'=\cos x-\sqrt{3}<0$ եթե $x\in D(y)$, որովհետև $-1\leq\cos x\leq1$, իսկ $\sqrt{3}>1$; $\Rightarrow$ ամբողջ թվային առանցքի վրա $f(x)-$ը նվազող ֆունկցիա է:

Օրինակ 4 գրենք $y=\frac{x-2}{x^2-1}$ ֆունկցիայի մոնոտոնության միջակայքերը:

Լուծում Որոշման տիրույթն է՝ $\mathcal{D}(y):\{x\in(-\infty;-1)\cup(-1;1)\cup(1;+\infty)\}$

$$y'=\frac{x^2-1-2x(x-2)}{(x^2-1)^2}=\frac{-x^2+4x-1}{(x^2-1)^2}$$

$y'=0 \Rightarrow x^2-4x+1=0 \Rightarrow x_1=2-\sqrt{3},\ x_2=2+\sqrt{3}$ $(x_{1,2}\in\mathcal{D}(y))$

$y'-$ ը հայտնվում է զույգ, երբ $x=\pm1\notin\mathcal{D}(y)$

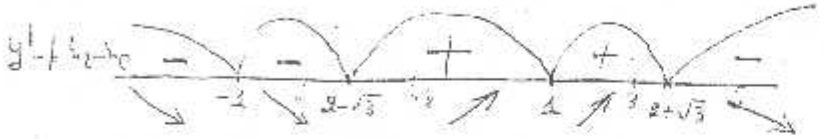

Երբ $x\in(-\infty;-1)\cup(-1;2-\sqrt{3})\cup(2+\sqrt{3};+\infty)$ ֆունկցիան նվազող է ↘,

իսկ $x\in(2-\sqrt{3};1)\cup(1;2+\sqrt{3})$ աճող է ↗:

Օրինակ Ապացուցել, որ $y=\frac{x^4-6x^2+8x-3}{x}$ ֆունկցիան $(0;+\infty)$ միջակայքում մոնոտոն աճող է:

Լուծում Որոշման տիրույթն է՝ $x\in(-\infty;0)\cup(0;+\infty)$:

$$f'(x)=\frac{(4x^3-12x+8)x-x^4+6x^2-8x+3}{x^2}=\frac{3x^4-6x^2+3}{x^2}=\frac{3(x^2-1)^2}{x^2}$$

$f'(x)=\frac{3(x^2-1)^2}{x^2}>0$ միայն երբ $x\in(0;+\infty)\Rightarrow$

$\Rightarrow f(x)$-ը $(0;+\infty)$-ում մոնոտոն աճող է:

VI. ՖՈՒՆԿՑԻԱՅԻ ԷՔՍՏՐԵՄՈՒՄՆԵՐ (առավելագույն կամ նվազագույն, max min)

Ֆունկցիան կոչվում է x_0 կետում մաքսիմում, եթե y'-ը փոխում է իր նշանը, ընդ որում x_0-ն հետաքրքրության կետ է, ընդ որում.

ա) եթե փոխում է + -ից − ի, ապա max-ի կետ է $(y(x_0)=y_{max})$

բ) եթե փոխում է − -ից + ի, ապա min-ի կետ է $(y(x_0)=y_{min})$:

Օրինակ 5 գրենք $y=\frac{2x^3-1}{x^2}$ ֆունկցիայի էքստրեմումները: 16

Լուծում Որոշման տիրույթն է՝ $\mathcal{D}(y):\{x\in(-\infty;0)\cup(0;+\infty)\}$

$$y'=\frac{6x^4-2x(2x^3-1)}{x^4}=\frac{2x^4+2x}{x^4}=\frac{2x(x^3+1)}{x^4}=\frac{2(x+1)(x^2-x+1)}{x^3}$$

$y'=0 \Rightarrow 2(x+1)(\underbrace{x^2-x+1}_{D<0})=0 \Rightarrow x+1=0 \Rightarrow x_1=-1$

$y'-$ ը գոյություն չունի $(\nexists)$ երբ $x_2=0\notin\mathcal{D}(y)\Rightarrow$ էքստրեմումի կետ չի:

$x_{max}=-1$

$y_{max}=-3$

Պատ՝ $x=-1$-ը max-ի կետ է:

VII. ՖՈՒՆԿՑԻԱՅԻ ԸՆԴՈՒՆԱԿԱՀԱՅԵՑ և ՓՈՔՐԱԳՈՒՅՆ ԱՐԺԵՔՆԵՐԸ (y_{min} y_{max} $y_{նաև}$ $y_{փոք.}$)

$[a,b]$ հատ. միջակայքում $y_{նաև.}$, $y_{փոք.}$ գտնելու համար գտնում է գրված $y=f(x)$ ֆունկցիայի y_{max}-երը (y_{min}-երը), $f(a)$-ն, $f(b)$-ն, ապա դրանցից ամենամեծը կոչվում ֆունկցիայի ԱԶԳԱՅՆԻ արժեքը ($y_{նաև.}$), իսկ ամենափոքրը՝ ՓՈՔՐԱԳՈՒՅՆ արժեքը ($y_{փոք.}$):

Օրինակ [1;10] միջակայքում գրենք $y_{նաև.}$-ը և $y_{փոք.}$-ը: $y=\frac{x^3}{e^x}$

Լուծում Որոշման տիրույթն է՝ $\mathcal{D}(y):\{x\in\mathbb{R}\}$

$$y'=\frac{3x^2e^x-x^3e^x}{e^{2x}}=\frac{x^2e^x(3-x)}{e^{2x}}=\frac{x^2(3-x)}{e^x}$$

$y'=0 \Rightarrow x^2(3-x)=0 \Rightarrow x_1=0\notin[1;10],\ x_2=3\in[1;10]$

$$\left.\begin{array}{l} f(3)=\frac{3^3}{e^3}=\frac{27}{e^3}>1 \\ f(1)=\frac{1}{e} \\ f(10)=\frac{1000}{e^{10}} \end{array}\right] \Rightarrow y_{նաև.}=\frac{27}{e^3},\ y_{փոք.}=\frac{1000}{e^{10}}$$

Задача 4

Дана функция $f(x) = (x^2-5x+64)\cdot(x-5)^{-1}$

Найдите наименьшее и наибольшее значение функции на отрезке $|2x+10| \le 12$

Решение

Область определения $D(y): \{x \in (-\infty; 5) \cup (5; \infty)\}$

$$y'(x) = \left(\frac{x^2-5x+64}{x-5}\right)' = \frac{(2x-5)(x-5) - x^2+5x-64}{(x-5)^2} = \frac{x^2-10x-39}{(x-5)^2}$$

$y' = 0 \Rightarrow x^2-10x-39 = 0$

$x_{1,2} = 5 \pm 8 \qquad x_1 = -3, \quad x_2 = 13$

$|2x+10| \le 12$

$-12 \le 2x+10 \le 12$ или $-11 \le x \le 1 \Rightarrow x \in [-11; 1]$

$x_1 = -3 \in [-11; 1]$ или $x_2 = 13 \notin [-11; 1]$

$$\left.\begin{aligned} y(-3) &= \frac{(-3)^2-5(-3)+64}{-3-5} = \frac{88}{-8} = -11 \\ y(-11) &= \frac{(-11)^2-5(-11)+64}{-11-5} = \frac{240}{-16} = -15 \\ y(1) &= \frac{1-5+64}{-4} = \frac{60}{-4} = -15 \end{aligned}\right| \Rightarrow \begin{aligned} y_{наиб} &= -15 \\ y_{наим} &= -11 \end{aligned}$$

ԹՎԱԲԱՆԱԿԱՆ ՏՐՈՒԹՅՈՒՆՆԵՐ

ՍԱՀՄԱՆՈՒՄ Թվային արգումենտից ֆունկցիան ($f(n)$) կոչվում է թվային հաջորդականություն և նշանակվում է

$$\{a_n\} = a_1, a_2, a_3, \dots, a_n, \dots$$

Օրինակ $\left\{\frac{1}{n}\right\} = 1, \frac{1}{2}, \frac{1}{3}, \dots, \frac{1}{n}, \dots$

Օրինակ $\left\{\frac{(-1)^n}{n}\right\} = -1, \frac{1}{2}, -\frac{1}{3}, \frac{1}{4}, \dots, \frac{(-1)^n}{n}, \dots$

ՍԱՀՄԱՆՈՒՄԸ $a_1, a_2, a_3, \dots, a_n, \dots$ թվային հաջորդականությունը կոչվում է թվաբանական պրոգրեսիա, եթե նրա յուրաքանչյուր անդամ սկսած 2-րդից հավասար է իր նախորդին ավելացրած միևնույն թիվը։ Այդ թիվը կոչվում է թվաբ. պրոգրեսիայի տարբերություն և նշանակվում է d-ով։

Սահմանումից $a_2 - a_1 = a_3 - a_2 = a_4 - a_3 = \dots = a_n - a_{n-1} = d$

ա) a_n-ը կոչվում է թվաբ. պրոգր-ի ընդհանուր անդամ, որի բանաձևն է՝ $a_n = a_1 + (n-1)d$

բ) թվաբ. պրոգր-ի առաջին n անդամների գումարը (հշտ. $S_n = a_1 + a_2 + \dots + a_n$).

$S_n = \frac{a_1 + a_n}{2} \cdot n$ կամ $S_n = \frac{2a_1 + (n-1)d}{2} \cdot n$

Հատկություններ ա) $a_n - a_m = (n-m)d$ $n > m$

բ) $a_n = \frac{a_{n-1} + a_{n+1}}{2}$ վերջին թեորեմայինն

Եվ դիտողություն Եթե $d > 0$ պրոգր. բնական կոչվում է աճող և եթե $d < 0$ — կոչվում է նվազող պրոգր.

Խնդիր 1319 $a_1, a_2, a_3, \dots$ թվաբ. պրոգ. է
$m + n = k + p$

Ապ. որ $a_m + a_n = a_k + a_p$

$a_m = a_1 + (m-1)d$
$a_n = a_1 + (n-1)d$
$a_k = a_1 + (k-1)d$
$a_p = a_1 + (p-1)d$

$\Rightarrow a_m + a_n = 2a_1 + (m+n-2)d$

$\Rightarrow a_k + a_p = 2a_1 + (k+p-2)d$

Քանի որ $m+n = k+p \Rightarrow a_m + a_n = a_k + a_p$

Խնդիր 1317 $a_1, a_2, \dots$ հաջ. է
$S_n = 5n^2 - 6n$

Ապ. որ հաջ-ր թվաբ. պրոգ. է։

$S_2 = a_1 = S_1 \Rightarrow a_1 = 5\cdot 1^2 - 6\cdot 1 = -1$

$a_2 = S_2 - S_1 = (5\cdot 2^2 - 6\cdot 2) - (-1) = 4$

$\Rightarrow a_2 - a_1 = 10$

$a_n - a_{n-1} = (S_n - S_{n-1}) - (S_{n-1} - S_{n-2}) =$

$= 5n^2 - 6n - 5(n-1)^2 + 6(n-1) - 5(n-1)^2 + 6(n-1) + 5(n-2)^2 - 6(n-2) =$

$= 5n^2 - 6n - 10n^2 + 20n - 10 + 12n - 12 + 5n^2 - 20n + 20 - 8n + 12 = 10$

Ուրեմն որ $a_2 - a_1 = 10$, $a_n - a_{n-1} = 10$, $\forall n$ $\Rightarrow a_1, a_2, \dots$ հաջ-ը թվաբ. պրոգր. է։

Խնդիր 1324 $a_3 + a_{11} = 13$

$a_4 + a_{10} - ?$

$a_3 + a_{11} = a_1 + 2d + a_1 + 10d = 2a_1 + 12d = 2(a_1 + 6d) = 13$

$a_4 + a_{10} = a_1 + 3d + a_1 + 9d = 2a_1 + 12d = 2(a_1 + 6d) = 13$

Պետք է $= 13$

Խնդիր 1324 $a_7 = 2x$
$a_{17} = 3x + 1$
$a_{23} = 4x - 1$

$x - ?$

$\begin{cases} a_{17} - a_7 = 10d \\ a_{23} - a_{17} = 6d \end{cases}$ $\begin{cases} 3x+1-2x = 10d \\ 4x-1-3x-1 = 6d \end{cases}$ $\begin{cases} x - 10d = -1 \\ x - 6d = 2 \end{cases}$ $\begin{cases} d = \frac{3}{4} \\ x = \frac{13}{2} \end{cases}$

Պ)-ը՝ $\frac{13}{2}$

Խնդիր 1324 Գրենք 700-ը փոխ ուղ բնական բաժան. տալիս է 3 մնացորդ

$S_n - ?$

$a_1 = 10$, $a_2 = 17$, $a_3 = 24$, ... թվաբ. պր է
վերջին անդամը՝ $a_n = 696$, $d = 7$ $\Rightarrow$

$\Rightarrow a_n = a_1 + (n-1)d = 10 + (n-1)\cdot 7 = 696$

$n = \frac{696 - 10}{7} + 1 = \frac{693}{7} = 99$

$S_{99} = \frac{a_1 + a_{99}}{2} \cdot 99 = \frac{10 + 696}{2} \cdot 99 = 353 \cdot 99$

تمارين محلولة

تمرين 1: نعتبر المتتالية (u_n) المعرفة بـ: $u_0 = 2$ و $u_{n+1} = \frac{1}{2}u_n + 1$

1) احسب u_1 و u_2 و u_3

2) هل المتتالية (u_n) حسابية أو هندسية؟

3) نضع $v_n = u_n - 2$. بين أن (v_n) متتالية هندسية

4) اكتب v_n ثم u_n بدلالة n

5) احسب $S = v_0 + v_1 + \cdots + v_{10}$

الحل:

1) $u_1 = \frac{1}{2}(2) + 1 = 2$

$u_2 = \frac{1}{2}(2) + 1 = 2$

$u_3 = \frac{1}{2}(2) + 1 = 2$

2) نلاحظ أن $u_0 = u_1 = u_2 = u_3 = 2$

إذن (u_n) متتالية ثابتة، وبالتالي فهي حسابية أساسها $r = 0$

وهي أيضا هندسية أساسها $q = 1$

3) $v_{n+1} = u_{n+1} - 2 = \frac{1}{2}u_n + 1 - 2 = \frac{1}{2}u_n - 1$

$= \frac{1}{2}(u_n - 2) = \frac{1}{2}v_n$

إذن (v_n) متتالية هندسية أساسها $q = \frac{1}{2}$ وحدها الأول $v_0 = u_0 - 2 = 0$

4) $v_n = v_0 \times q^n = 0 \times \left(\frac{1}{2}\right)^n = 0$

إذن $u_n = v_n + 2 = 2$

5) $S = v_0 + v_1 + \cdots + v_{10} = 0 + 0 + \cdots + 0 = 0$

تمرين 2: نعتبر المتتالية (u_n) المعرفة بـ: $u_0 = 1$ و $u_{n+1} = 3u_n - 2n + 1$

1) احسب u_1 و u_2 و u_3

2) هل المتتالية (u_n) حسابية أو هندسية؟

3) نضع $v_n = u_n - n$. بين أن (v_n) متتالية هندسية

4) اكتب v_n ثم u_n بدلالة n

5) احسب $S = v_0 + v_1 + \cdots + v_{10}$

الحل:

1) $u_1 = 3(1) - 2(0) + 1 = 4$

$u_2 = 3(4) - 2(1) + 1 = 11$

$u_3 = 3(11) - 2(2) + 1 = 30$

2) $u_1 - u_0 = 3$ و $u_2 - u_1 = 7$ إذن (u_n) ليست حسابية

$\frac{u_1}{u_0} = 4$ و $\frac{u_2}{u_1} = \frac{11}{4}$ إذن (u_n) ليست هندسية

3) $v_{n+1} = u_{n+1} - (n+1) = 3u_n - 2n + 1 - n - 1$

$= 3u_n - 3n = 3(u_n - n) = 3v_n$

إذن (v_n) متتالية هندسية أساسها $q = 3$ وحدها الأول $v_0 = u_0 - 0 = 1$

4) $v_n = v_0 \times q^n = 1 \times 3^n = 3^n$

إذن $u_n = v_n + n = 3^n + n$

5) $S = v_0 + v_1 + \cdots + v_{10} = 1 + 3 + 3^2 + \cdots + 3^{10}$

$= \frac{1 - 3^{11}}{1 - 3} = \frac{3^{11} - 1}{2}$

تمرين 3: نعتبر المتتالية (u_n) المعرفة بـ: $u_0 = 1$ و $u_{n+1} = \frac{u_n}{2 + u_n}$

1) احسب u_1 و u_2 و u_3

2) نضع $v_n = \frac{1}{u_n}$. بين أن (v_n) متتالية حسابية

3) اكتب v_n ثم u_n بدلالة n

4) احسب $S = v_0 + v_1 + \cdots + v_{10}$

الحل:

1) $u_1 = \frac{1}{2+1} = \frac{1}{3}$

$u_2 = \frac{\frac{1}{3}}{2 + \frac{1}{3}} = \frac{\frac{1}{3}}{\frac{7}{3}} = \frac{1}{7}$

$u_3 = \frac{\frac{1}{7}}{2 + \frac{1}{7}} = \frac{\frac{1}{7}}{\frac{15}{7}} = \frac{1}{15}$

2) $v_{n+1} = \frac{1}{u_{n+1}} = \frac{2 + u_n}{u_n} = \frac{2}{u_n} + 1 = 2v_n + 1$

إذن (v_n) ليست حسابية ولا هندسية

3) $v_0 = 1$ و $v_1 = 3$ و $v_2 = 7$ و $v_3 = 15$

نلاحظ أن $v_n = 2^{n+1} - 1$

إذن $u_n = \frac{1}{2^{n+1} - 1}$

4) $S = v_0 + v_1 + \cdots + v_{10} = (2^1 - 1) + (2^2 - 1) + \cdots + (2^{11} - 1)$

$= (2^1 + 2^2 + \cdots + 2^{11}) - 11 = \frac{2(2^{11} - 1)}{2 - 1} - 11$

$= 2^{12} - 2 - 11 = 4083$

تمرين 4: نعتبر المتتالية (u_n) المعرفة بـ: $u_0 = 3$ و $u_{n+1} = \sqrt{u_n + 2}$

1) احسب u_1 و u_2 و u_3

2) بين بالترجع أن $u_n > 2$ لكل n

3) بين أن (u_n) متناقصة

4) استنتج أن (u_n) متقاربة

الحل:

1) $u_1 = \sqrt{3 + 2} = \sqrt{5}$

$u_2 = \sqrt{\sqrt{5} + 2}$

$u_3 = \sqrt{\sqrt{\sqrt{5} + 2} + 2}$

2) نضع $P(n)$: $u_n > 2$

$P(0)$: $u_0 = 3 > 2$ صحيحة

نفرض $P(n)$ صحيحة ونبين $P(n+1)$

$u_{n+1} = \sqrt{u_n + 2} > \sqrt{2 + 2} = \sqrt{4} = 2$

إذن $P(n+1)$ صحيحة

خلاصة: $u_n > 2$ لكل n

3) $u_{n+1} - u_n = \sqrt{u_n + 2} - u_n$

$= \frac{(\sqrt{u_n + 2} - u_n)(\sqrt{u_n + 2} + u_n)}{\sqrt{u_n + 2} + u_n}$

$= \frac{u_n + 2 - u_n^2}{\sqrt{u_n + 2} + u_n} = \frac{-(u_n^2 - u_n - 2)}{\sqrt{u_n + 2} + u_n}$

$= \frac{-(u_n - 2)(u_n + 1)}{\sqrt{u_n + 2} + u_n}$

بما أن $u_n > 2$ فإن $u_n - 2 > 0$ و $u_n + 1 > 0$ و $\sqrt{u_n + 2} + u_n > 0$

إذن $u_{n+1} - u_n < 0$ لكل n

خلاصة: (u_n) متناقصة

4) (u_n) متناقصة و $u_n > 2$ لكل n

إذن (u_n) متقاربة

تمرين 5: نعتبر المتتالية (u_n) المعرفة بـ: $u_0 = 0$ و $u_{n+1} = \frac{1}{3}u_n + 2$

1) احسب u_1 و u_2 و u_3

2) بين بالترجع أن $u_n < 3$ لكل n

3) بين أن (u_n) متزايدة

4) استنتج أن (u_n) متقاربة

الحل:

1) $u_1 = \frac{1}{3}(0) + 2 = 2$

$u_2 = \frac{1}{3}(2) + 2 = \frac{8}{3}$

$u_3 = \frac{1}{3}\left(\frac{8}{3}\right) + 2 = \frac{26}{9}$

2) نضع $P(n)$: $u_n < 3$

$P(0)$: $u_0 = 0 < 3$ صحيحة

نفرض $P(n)$ صحيحة ونبين $P(n+1)$

$u_{n+1} = \frac{1}{3}u_n + 2 < \frac{1}{3}(3) + 2 = 1 + 2 = 3$

إذن $P(n+1)$ صحيحة

خلاصة: $u_n < 3$ لكل n

3) $u_{n+1} - u_n = \frac{1}{3}u_n + 2 - u_n = -\frac{2}{3}u_n + 2$

$= -\frac{2}{3}(u_n - 3)$

بما أن $u_n < 3$ فإن $u_n - 3 < 0$

إذن $u_{n+1} - u_n > 0$ لكل n

خلاصة: (u_n) متزايدة

4) (u_n) متزايدة و $u_n < 3$ لكل n

إذن (u_n) متقاربة

8| Վեկտորների գծագրումը և վեկտորներ



Սահմանում Ուղղորդված հատված

հատվածի երկրորդ կետը վեկտորի վերջն է, իսկ սկզբնական կետը՝ վեկտորի սկիզբը։ Վեկտորները նշանակում են $\vec{a}, \vec{b}, \vec{c}, \ldots$ տառերով կամ սկզբի և վերջի տառերով՝ $\overrightarrow{AB}$, $\overrightarrow{CD}$ և այլն։ Վեկտորի սկիզբը կոչվում է նաև կիրառման կետ։

Վեկտորի երկարությունը կոչվում է հատվածի երկարությունը, նշանակվում է $|\vec{a}|$ կամ $|\overrightarrow{AB}|$։

Սահմանում $\vec{a}$ և $\vec{b}$ վեկտորները կոչվում են **հավասար**, եթե $\vec{a} \parallel \vec{b}$, $|\vec{a}| = |\vec{b}|$ և նրանց ուղղությունները համընկնում են։

Սահմանում $\vec{a}$, $\vec{b}$ և $\vec{c}$ վեկտորները կոչվում են **հարթաշարժ**, եթե նրանցից գոնե մեկը զրոյական է կամ գոնե երկուսը գտնվում են նույն կամ զուգահեռ հարթությունների վրա։

Վեկտորի կոորդինատները $\vec{a}$ վեկտորի պրոեկցիաները կոորդինատական առանցքների վրա կոչվում են վեկտորի կոորդինատներ։ x, y և z-ով նշանակենք $\vec{a}$ վեկտորի կոորդինատները և գրենք

$\vec{a}(x; y; z)$ կամ $\vec{a} = \{x; y; z\}$։

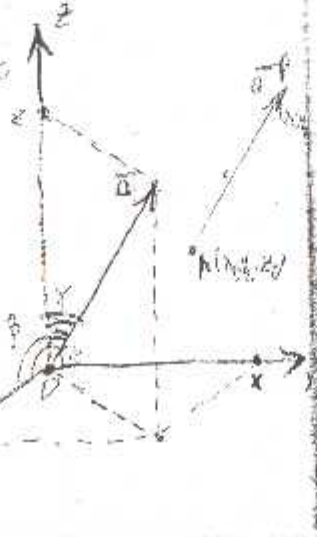

Դիցուք $A(x_1; y_1; z_1)$ կամ $\vec{a} = \overrightarrow{AB}$ վեկտորի սկզբնակետն է, իսկ $B(x_2; y_2; z_2)$-ը՝ վերջնակետը, ապա $\vec{a}$ վեկտորի կոորդինատները հետևյալն են՝

$x = x_2 - x_1$

$y = y_2 - y_1$, որովհետև $\vec{a} = \overrightarrow{AB} = \{x_2 - x_1; y_2 - y_1; z_2 - z_1\}$

$z = z_2 - z_1$

Եզրակացություն Եթե որ $x = |\vec{a}| \cdot \cos\alpha$

$y = |\vec{a}| \cdot \sin\alpha$

$z = |\vec{a}| \cdot \cos\beta$

Վեկտորի երկարություն $\boxed{|\vec{a}| = \sqrt{x^2 + y^2 + z^2}}$ կամ

$$|AB| = \sqrt{(x_2 - x_1)^2 + (y_2 - y_1)^2 + (z_2 - z_1)^2}$$

Պրոպոզիցիա Տրված են $A(x_1; y_1; z_1)$ և $B(x_2; y_2; z_2)$ կետերը։ Նրանց

Հեռավորությունը երկրի $|AB|$ նշանակենք (կոորդինատների) տարբերությամբ

$$\boxed{|AB| = \sqrt{(x_2 - x_1)^2 + (y_2 - y_1)^2 + (z_2 - z_1)^2}}$$

Պրոբլեմներ AB հատվածի **միջնակետի** կոորդինատները գտնել բանաձևը

$$C\left(\frac{x_1 + x_2}{2}; \frac{y_1 + y_2}{2}; \frac{z_1 + z_2}{2}\right)$$

Վեկտորների գծային գործողությունները վեկտորների կոորդինատների միջոցով

1° Դիցուք $\lambda \in \mathbb{R}$ իրական թիվ և $\vec{a}(x; y; z)$ վեկտոր։

Համարենք $\lambda\vec{a} = \{\lambda x; \lambda y; \lambda z\}$։

Մասնավորապես եթե $\lambda > 0$ ապա $\vec{a}$ և $\lambda\vec{a}$ վեկտորները համուղղված են

Եթե $\lambda < 0$ ապա $\vec{a}$ և $\lambda\vec{a}$ վեկտորները հակադիր են

Պրոպոզիցիա Դիցուք $\vec{a} = (x_1; y_1; z_1)$ և $\vec{b} = (x_2; y_2; z_2)$

Վեկտորները զրոյից տարբեր համագիծ են $\Leftrightarrow$ $\boxed{\vec{a} = \lambda\vec{b}}$ ($\lambda \in \mathbb{R}$) կամ

$$\boxed{\frac{x_1}{x_2} = \frac{y_1}{y_2} = \frac{z_1}{z_2}}$$

այսինքն կոորդինատները համեմատական են։

2° Վեկտորների գումար

Դիցուք $\bar{a} = \{x_1; y_1; z_1\}$

$\bar{b} = \{x_2; y_2; z_2\}$



Այդ դեպքում $\bar{a} \pm \bar{b} = \{x_1 \pm x_2; y_1 \pm y_2; z_1 \pm z_2\}$

Վեկտորների և թվի արտադրյալը

Դիցուք $\bar{a} = \{x; y; z\}$ վեկտորի և λ թվի արտադրյալ է կոչվում $\lambda\bar{a}$ վեկտորը, որի երկարությունը $|\lambda\bar{a}| = |\lambda| \cdot |\bar{a}|$ է, իսկ ուղղությունը $\lambda > 0$ դեպքում համընկնում է $\bar{a}$ վեկտորի ուղղության հետ, $\lambda < 0$ դեպքում հակադիր է $\bar{a}$ վեկտորի ուղղությանը, իսկ $\lambda = 0$ դեպքում $\lambda\bar{a}$ զրոյական վեկտոր է:

Եռանկյան կանոն

Եռանկյան կանոնի համաձայն $\bar{a} + \bar{b} = \overrightarrow{AB} + \overrightarrow{BC} = \overrightarrow{AC}$

Զուգահեռագծի կանոն

Զուգահեռագծի կանոնի համաձայն $\bar{a} + \bar{b} = \overrightarrow{AB} + \overrightarrow{AD} = \overrightarrow{AC}$

Եռանկյան կանոնի համաձայն $\bar{a} - \bar{b} = \overrightarrow{AB} - \overrightarrow{CB} = \overrightarrow{AB} + \overrightarrow{BC

§ 8

Скалярное произведение векторов (1), 2), 3) координатное задание скалярного произведения

$$\vec{a}\cdot\vec{b} = x_1x_2 + y_1y_2 + z_1z_2$$

Вычисление длины вектора. Угол между векторами

$$\vec{a}^2 = \vec{a}\cdot\vec{a} = |\vec{a}|\cdot|\vec{a}|\cos 0 = |\vec{a}|^2 \Rightarrow |\vec{a}| = \sqrt{\vec{a}^2}$$

Угол между векторами. Условие перпендикулярности векторов

$$\cos\varphi = \cos\hat{\vec{a}\vec{b}} = \frac{\vec{a}\vec{b}}{|\vec{a}|\cdot|\vec{b}|}$$

Условие коллинеарности векторов

$\vec{a} \parallel \vec{b} \Leftrightarrow \frac{x_1}{x_2} = \frac{y_1}{y_2} = \frac{z_1}{z_2}$ (или $\vec{a} = \lambda\vec{b}$)

№ 216

$\vec{c} = \{-12; 15\}$

$10\vec{b} = \vec{c} + 10\vec{b}$

$\vec{b} = \{3y - 15; x + 20\}$

$\vec{a} = \{x; y\}$ — ?

$10\vec{c} = \{10x; 10y\}$

$10\vec{b} = \{20y - 150; 10x + 220\}$

$\vec{c} + 10\vec{b} = \{0; 3y - 220; 10x + 221\}$

$10\vec{a} = \vec{c} + 10\vec{b} \Rightarrow$

$\begin{cases} 10x = 20y - 220 \\ 10y = 10x + 221 \end{cases} \quad \begin{cases} 5x - 10y = -110 \\ 10x - 10y = -221 \end{cases} \quad \begin{cases} x = -111/5 \\ y = 8,5 \end{cases}$

Ответ: $\vec{a} = \{-\frac{111}{5}; 8,5\}$

№ 216

$\vec{a} = \{4x+1; x-1; 2+x\}$

$\vec{b} = \{-1; x; x+1\}$

$\vec{a} \parallel \vec{b}$

x — ?

$\vec{a} \parallel \vec{b} \Leftrightarrow \frac{x_1}{x_2} = \frac{y_1}{y_2} = \frac{z_1}{z_2}$ (ч.т.д.)

$\frac{4x+1}{-1} = \frac{x-1}{x} = \frac{2+x}{x+1}$

$\begin{cases} \frac{4x+1}{-1} = \frac{x-1}{x} \\ \frac{x-1}{x} = \frac{2+x}{x+1} \end{cases} \quad \begin{cases} 4x^2 + 2x - 1 = 0 \\ 2x + 1 = 0 \end{cases} \quad \begin{cases} x_1 = -\frac{1}{2}, x_2 = \\ x = -\frac{1}{2} \end{cases}$

Ответ: (3)

№ 217

$|\vec{b}| = 5$, $\vec{b} \parallel \vec{a}$

$\vec{a} = \{2\sqrt{3}; -3\}$

$\vec{b} = \{x; y; z\}$ — ?

$\vec{b} \parallel \vec{a} \Rightarrow \frac{x_1}{x_2} = \frac{y_1}{y_2}$ ($\vec{a} = \lambda\vec{b}$) ч.т.д.

$\begin{cases} \frac{x}{2\sqrt{3}} = \frac{y}{-3} \\ \sqrt{x^2 + y^2} = 5 \end{cases} \quad \begin{cases} y^2 = \frac{x^2}{3} \\ x^2 + \frac{x^2}{3} = 25 \end{cases} \quad \begin{cases} y^2 = 9 \\ x^2 = 72 \end{cases}$

$y_{1,2} = \pm 3$

$x_{1,2} = \pm 6\sqrt{2}$

Ответ: $\vec{b} = \{3; 6\sqrt{2}\}$ $\vec{b} = \{-3; 6\sqrt{2}\}$

$\vec{b} = \{3; -6\sqrt{2}\}$ $\vec{b} = \{-3; -6\sqrt{2}\}$

№ 218

$\vec{a} = \{-\sqrt{5}; 2\}$

$\vec{b} = \{x; -2\sqrt{5}\}$

$-\frac{\sqrt{3}}{2} \cdot \vec{b} = \cos\hat{\vec{a}\vec{b}} = \cos\left(-\frac{\sqrt{3}}{2}\right)$

x — ?

$\cos\hat{\vec{a}\vec{b}} = \frac{\vec{a}\vec{b}}{|\vec{a}|\cdot|\vec{b}|} = \frac{-\sqrt{5}x - 4\sqrt{5}}{\sqrt{5+4}\cdot\sqrt{x^2+20}} = \frac{-\sqrt{5}(x+4)}{3\sqrt{x^2+20}}$

$\frac{-\sqrt{5}(x+4)}{3\sqrt{x^2+20}} = -\frac{\sqrt{3}}{2} \Rightarrow 3x + 12 = 9\sqrt{x^2+20}$

$9x^2 + 72x + 144 = 10x^2 + 320$ / $\lambda = 4$

$x^2 - 72x + 176 = 0$ $x_2 = 44$

$x_{1,1} = 36 \pm 8$ Ответ: 4; $\frac{44}{}$

№214

$\bar{b} = \{12; -16; 15\}$

$|\bar{a}| = 10$, $\bar{a} \nparallel \bar{b}$

$\bar{a} \wedge \bar{k} < 90°$

$\bar{a} = \{x; y; z\}$ — ?

$\bar{a} \nparallel \bar{b} \Rightarrow \frac{x}{12} = \frac{y}{-16} = \frac{z}{15}$

$|\bar{a}| = 10 \Rightarrow \sqrt{x^2+y^2+z^2} = 10$

$\begin{cases} y = -\frac{4}{3}x, \ z = \frac{5}{4}x \\ x^2 + \frac{16}{9}x^2 + \frac{25}{16}x^2 = 100 \end{cases}$

$144x^2 + 256x^2 + 225x^2 = 14400$

$625x^2 = 14400$

$x_{1,2} = \pm \frac{120}{25} = \pm \frac{24}{5}$

$y_{1,2} = \mp \frac{32}{5}$, $z_{1,2} = \pm 6$

а) $\bar{a} = \left\{\frac{24}{5}; -\frac{32}{5}; 6\right\}$, $\bar{k} = \{0; 0; 1\}$

$\bar{a} \cdot \bar{k} = \frac{24}{5} \cdot 0 - \frac{32}{5} \cdot 0 + 6 \cdot 1 = 6 > 0 \Rightarrow$ подх. $\bar{a}$

б) $\bar{a} = \left\{-\frac{24}{5}; +\frac{32}{5}; -6\right\}$

$\bar{a} \cdot \bar{k} = -\frac{24}{5} \cdot 0 + \frac{32}{5} \cdot 0 - 6 \cdot 1 = -6 < 0 \Rightarrow$ не подх.

Отв. $\bar{a} = \left\{\frac{24}{5}; -\frac{32}{5}; 6\right\}$

№210

$\bar{a} = \{1; 1\}$

$\bar{e} = \{1; -1\}$

$2\bar{p} + \bar{q} = \bar{a}$

$\bar{p} + 2\bar{q} = \bar{e}$

$\bar{p} \wedge \bar{q}$ — ?

$\bar{p} = \frac{1}{3}(2\bar{a} - \bar{e})$

$\bar{q} = \frac{1}{3}(2\bar{e} - \bar{a})$

$\cos \bar{p} \wedge \bar{q} = \frac{\bar{p} \cdot \bar{q}}{|\bar{p}| \cdot |\bar{q}|}$

$= \frac{\frac{1}{9}(4\bar{a}\bar{b} - 2\bar{a}^2 - 2\bar{b}^2 + \bar{a}\bar{b})}{\sqrt{\bar{p}^2} \cdot \sqrt{\bar{q}^2}}$

$|\bar{p}|^2 = \left|\frac{1}{3}(2\bar{a} - \bar{e})\right|^2$

$\bar{p} = \frac{1}{3} \cdot \{1; 3\} = \left\{\frac{1}{3}; 1\right\}$

$\bar{q} = \frac{1}{3}\{1; -3\} = \left\{\frac{1}{3}; -1\right\}$

$|\bar{p}| = \sqrt{\frac{1}{9} + 1} = \frac{\sqrt{10}}{3}$, $|\bar{q}| = \sqrt{\frac{1}{9} + 1} = \frac{\sqrt{10}}{3}$ $\Rightarrow$

$\bar{p} \cdot \bar{q} = \frac{1}{3} \cdot \frac{1}{3} + 1 \cdot (-1) = \frac{1}{9} - 1 = -\frac{8}{9}$

$\Rightarrow \cos \bar{p} \wedge \bar{q} = \frac{-\frac{8}{9}}{\frac{\sqrt{10}}{3} \cdot \frac{\sqrt{10}}{3}} = -\frac{8 \cdot 9}{9 \cdot 10} = -\frac{4}{5}$

№198

$\bar{a} \nparallel \bar{b}$

$|\bar{a}| = 3$, $|\bar{b}| = 6$

$|\bar{a} + \bar{b}| = 4$, $|\bar{a} - \bar{b}|$ — ?

$|\bar{a} - \bar{b}| = \sqrt{(\bar{a} - \bar{b})^2} = \sqrt{\bar{a}^2 - 2\bar{a}\bar{b} + \bar{b}^2} =$

$= \sqrt{|\bar{a}|^2 - 2|\bar{a}| \cdot |\bar{b}| \cdot \cos(\bar{a} \wedge \bar{b}) + |\bar{b}|^2} =$

$= \sqrt{9 + 36 + 36} = 9$

$|\bar{a} + \bar{b}| = \sqrt{(\bar{a} + \bar{b})^2} = \sqrt{\bar{a}^2 + 2\bar{a}\bar{b} + \bar{b}^2} =$

$= \sqrt{|\bar{a}|^2 + 2|\bar{a}| \cdot |\bar{b}| \cdot \cos(\bar{a} \wedge \bar{b}) + |\bar{b}|^2} = \sqrt{9 - 36 + 36} = 3$

Ответ: $|\bar{a} + \bar{b}| = 3$

$|\bar{a} - \bar{b}| = 9$

№215

$\bar{a} = \{3; 4\}$

$\bar{c} = \{-4; 3\}$

$|\bar{c}| = 5\sqrt{2}$

$\bar{a} \wedge \bar{c} = \bar{a} \wedge \bar{b}$

$\bar{b} = \{x; y\}$ — ?

Какие треугольники $\frac{3}{-4} \neq \frac{4}{3} \Rightarrow \bar{c} \nparallel \bar{a}$

Чтобы найти $\bar{c}$ — $\bar{a}\bar{c}$ образовывали одинаковый угол с $\bar{a}$ и $\bar{b}$, необходимо, чтобы:



$\cos \bar{a} \wedge \bar{c} = \frac{-4x + 3y}{|\bar{a}| \cdot |\bar{c}|}$; $\cos \bar{b} \wedge \bar{a} = \frac{3x + 4y}{|\bar{b}| \cdot |\bar{a}|}$

$\frac{-4x + 3y}{5\sqrt{x^2 + y^2}} = \frac{3x - 4y}{5\sqrt{x^2 + y^2}}$

$\begin{cases} y = -7x \\ \sqrt{x^2 + y^2} = 5\sqrt{2} \end{cases}$ $\begin{cases} y = -7x \\ x^2 + 49x^2 = 50 \end{cases}$ $\begin{cases} y_{1,2} = \mp 7 \\ x_{1,2} = \pm 1 \end{cases}$

Ответ: $(1; -7)$, $(-1; 7)$

Երկրաչափական պրոգրեսիա

ՍԱՀՄԱՆՈՒՄ

$b_1, b_2, b_3, \dots, b_n, \dots$ թվային հաջորդականությունը կոչվում է երկրաչափական պրոգրեսիա, եթե նրա յուրաքանչյուր անդամ սկսած 2-րդից հավասար է նախորդին բազմապատկված մի և նույն q-ով թվով, որը կոչվում է պրոգ. հայտարար հաստատուն

Այսինքն՝ $$\left[\frac{b_2}{b_1} = \frac{b_3}{b_2} = \dots = \frac{b_n}{b_{n-1}} = q\right] \Rightarrow \left[b_n = b_{n-1} \cdot q\right]$$

Դիտողություն Եթե $q > 1$ — աճող է
Եթե $0 < q < 1$ — նվազող է
$\left[q \neq 0,\ q \neq 1\right]$

ա) Ընդհանուր անդամի (b_n-ի) բանաձևը՝
$$\left[b_n = b_1 \cdot q^{n-1}\right]$$

բ) Առաջին n անդամների գումարը ($S_n = b_1 + b_2 + \dots + b_n$)
$$\left[S_n = \frac{b_1(1-q^n)}{1-q}\right] \text{ կամ } \left[S_n = \frac{b_1 - b_n \cdot q}{1-q}\right]$$

Հատկություն $$\left[b_k = \sqrt{b_{k-1} \cdot b_{k+1}}\right]$$ Ցանկ երկրաչափական

ԱՆՎԵՐՋ ԳՈՒՄԱՐՈՂ ԵՐԿՐԱՉԱՓԱԿԱՆ ՊՐՈԳՐԵՍԻԱ

Եթե $q < 1$, ապա $b_1, b_2, \dots, b_n, \dots$ նվազող երկրաչափական պրոգրեսիան կոչվում է անվերջ նվազող երկր. պրոգրեսիա, որի գումարը (սահմանը) հաշվվում է հետևյալ բանաձևով՝

$$\left[S = \frac{b_1}{1-q}\right]$$